# 角の大きさ 2

◎ 分度器で角度をはかる
（反時計回り）

5

日にち：　　月　　日

名まえ

・分度器（ぶんどき）を使って角度をはかりましょう。

＜分度器の使い方＞

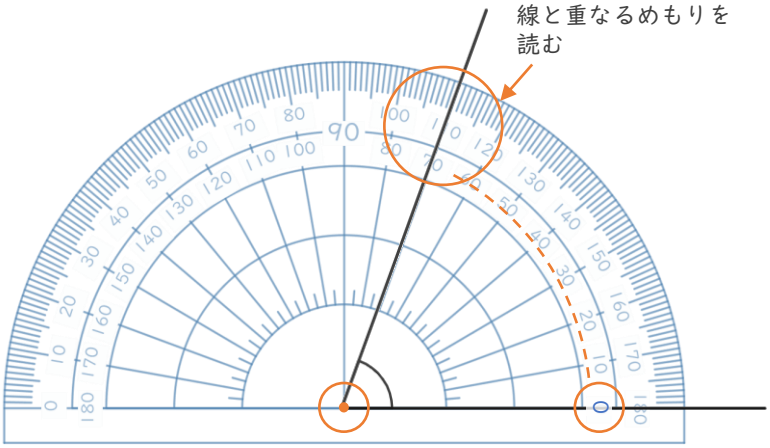


①

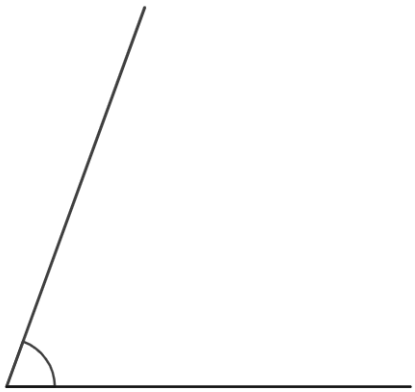

答え（　　）

②

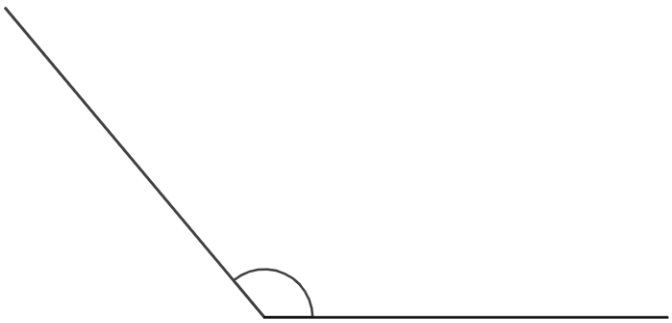

答え（　　）

③

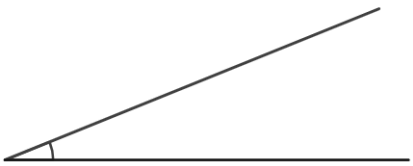

答え（　　）



すらすらぷりんと

# 角の大きさ 2

◎ 分度器で角度をはかる（反時計回り）

5

日にち：　　月　　日

名まえ

・分度器（ぶんどき）を使って角度をはかりましょう。

<分度器の使い方>

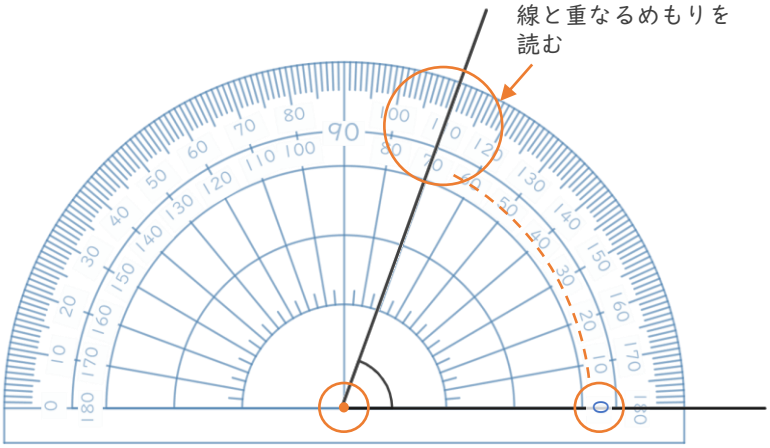


①

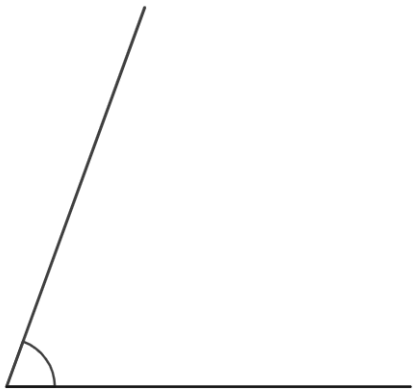

答え（　70°　）

②

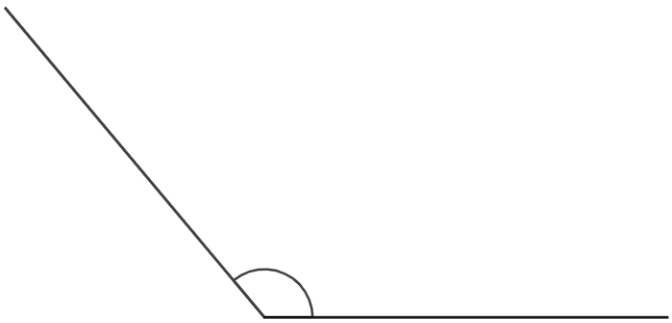

答え（　130°　）

③

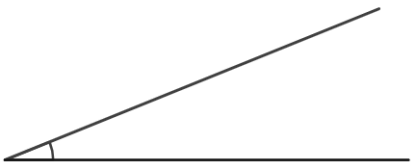

答え（　22°　）



すらすらぷりんと