直方体や立方体 6

◎ 展開図の書き方
（辺の長さから書く）

5

日にち：　　月　　日

名まえ

・ 次の立体の展開図を完成させましょう。　（うすい字はなぞりましょう。）

① たて　3cm
　横　　2cm
　高さ　4cm　の直方体

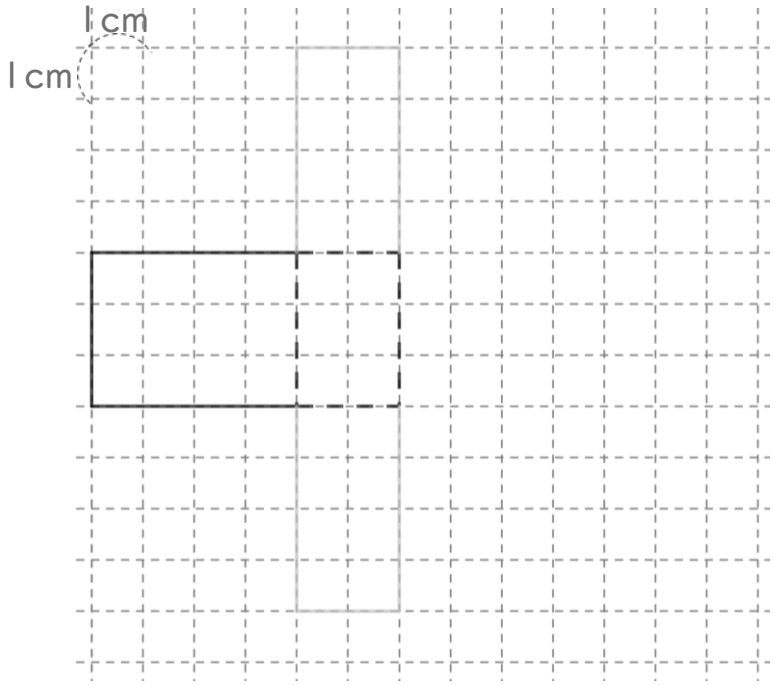

② たて　2cm
　横　　3cm
　高さ　1cm　の直方体

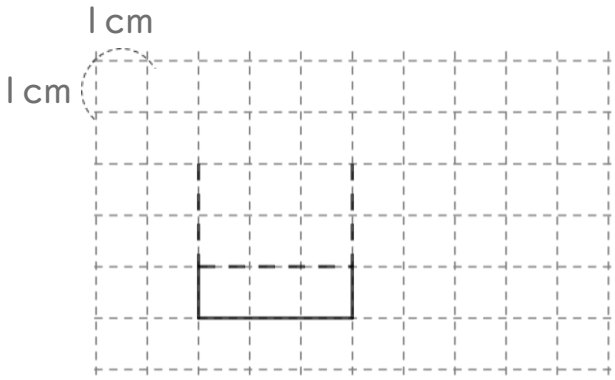

③ 1辺 2cm の立方体

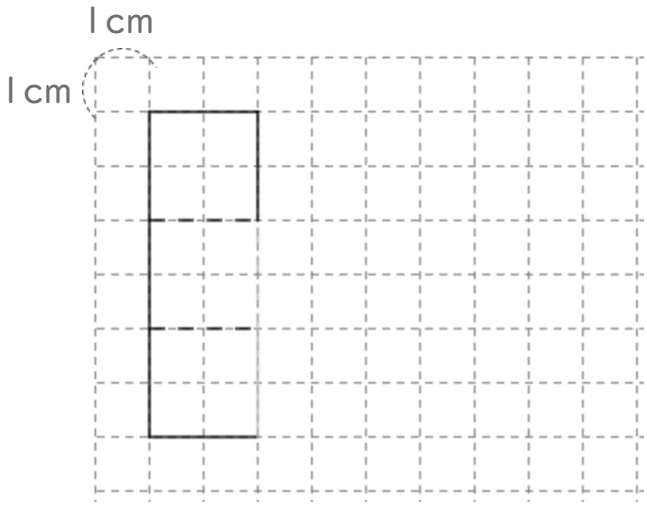

すらすらぷりんと

直方体や立方体 6

◎ 展開図の書き方
（辺の長さから書く）

5

日にち：　　月　　日

名まえ

・ 次の立体の展開図を完成させましょう。　（うすい字はなぞりましょう。）

① たて　3cm
横　　2cm
高さ　4cm　の直方体

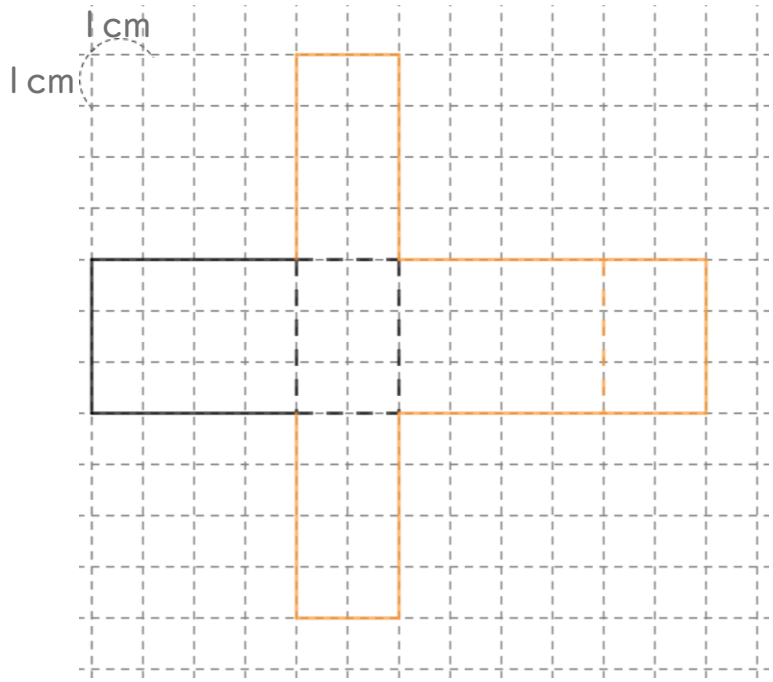

② たて　2cm
横　　3cm
高さ　1cm　の直方体

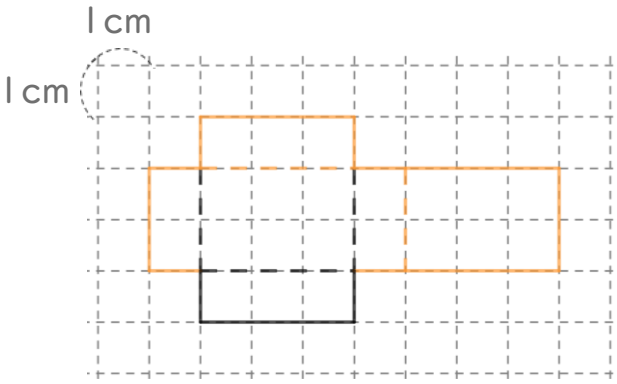

③ 1辺 2cm の立方体

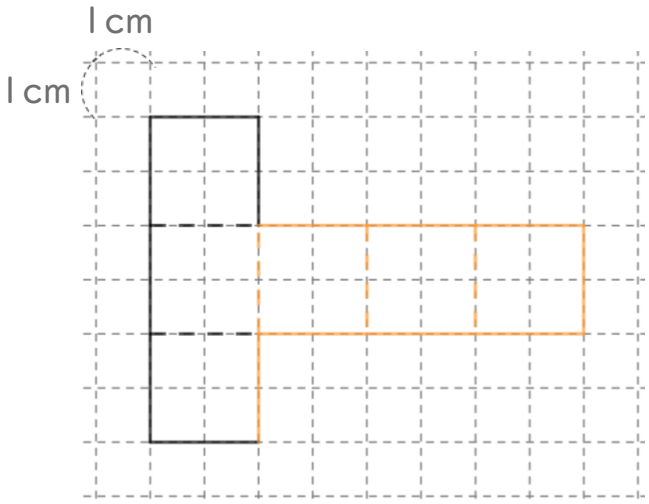

すらすらぷりんと