分数（分数の表し方）1

◎ 真分数・帯分数・仮分数とは　5

日にち：　　月　　日

名まえ

1　次の分数は、真分数、仮分数、帯分数のどれですか。

① $2\frac{4}{5}$　　② $\frac{13}{6}$　　③ $1\frac{7}{8}$

④ $\frac{8}{3}$　　⑤ $\frac{1}{3}$　　⑥ $\frac{6}{3}$

答え：　①　　②　　③

④　　⑤　　⑥

2　色をぬった部分の長さを、仮分数と帯分数の両方で表しましょう
（うすい字はなぞろう）

①

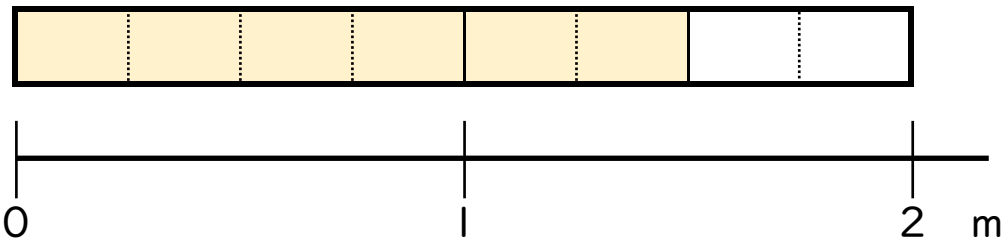

答え：　仮分数…　$\frac{6}{4}$　　帯分数…

②

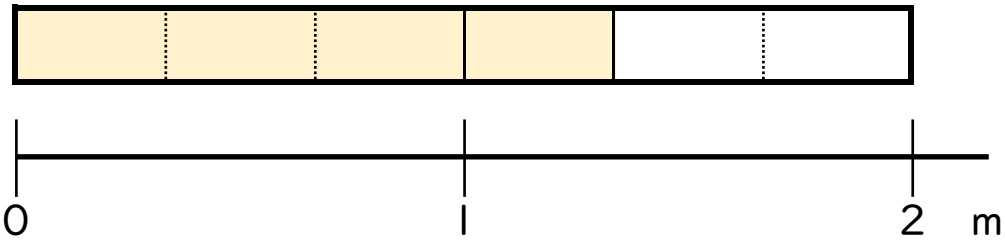

答え：　仮分数…　　帯分数…

すらすらぷりんと

分数（分数の表し方）1 5

◎ 真分数・帯分数・仮分数とは

日にち：　　月　　日

名まえ

1　次の分数は、真分数、仮分数、帯分数のどれですか。

① $2\frac{4}{5}$　　② $\frac{13}{6}$　　③ $1\frac{7}{8}$

④ $\frac{8}{3}$　　⑤ $\frac{1}{3}$　　⑥ $\frac{6}{3}$

答え：① 帯分数　② 仮分数　③ 帯分数

④ 仮分数　⑤ 真分数　⑥ 仮分数

2　色をぬった部分の長さを、仮分数と帯分数の両方で表しましょう
（うすい字はなぞろう）

①

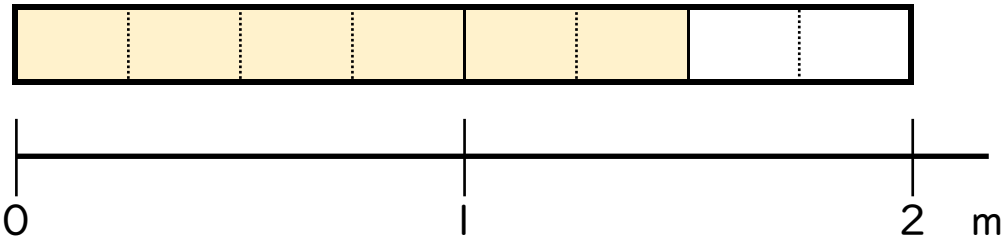

答え：　仮分数…　$\frac{6}{4}$　　帯分数…　$1\frac{2}{4}$

②

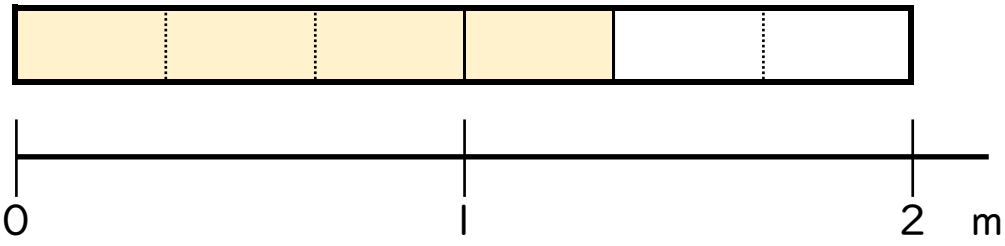

答え：　仮分数…　$\frac{4}{3}$　　帯分数…　$1\frac{1}{3}$

すらすらぷりんと