角の大きさ 12

◎ 180° をこえる角の作図

5

日にち：　　月　　日

名まえ

・次の角をかきましょう。

① 190°

190° − 180° ＝ 10 °

② 250°

250° − 180° ＝



③ 230°

230° − 180° ＝

すらすらぷりんと

角の大きさ 12

◎ 180° をこえる角の作図

5

日にち：　　月　　日

名まえ

・次の角をかきましょう。

① 190°

190° − 180° ＝ 10 °

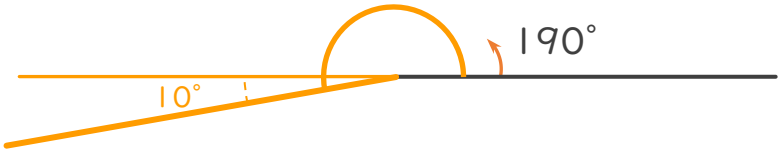

② 250°

250° − 180° ＝ 70 °

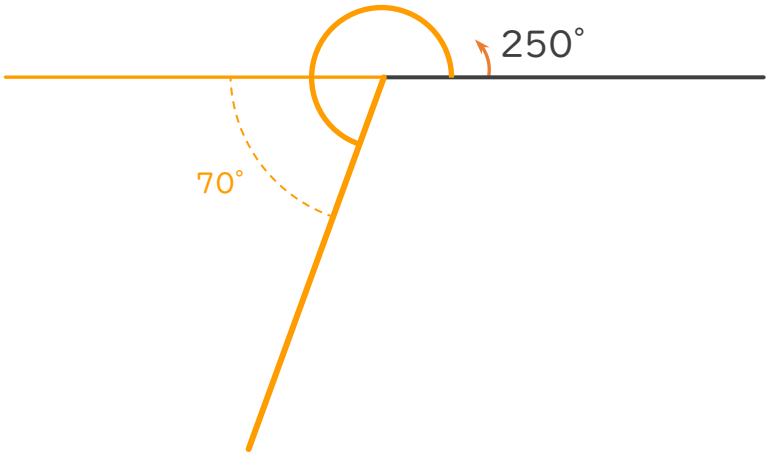

③ 230°

230° − 180° ＝ 50 °

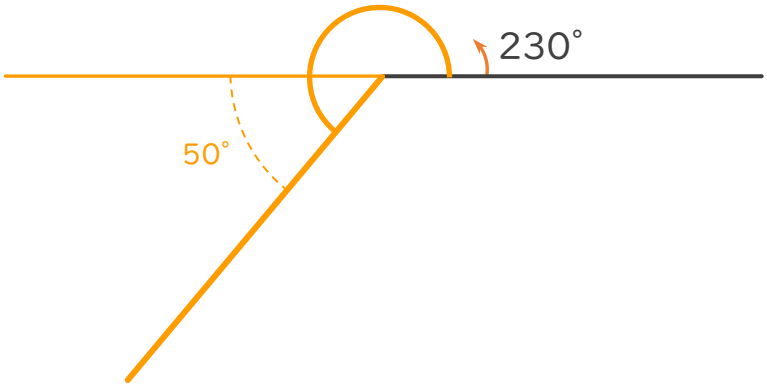

すらすらぷりんと