角の大きさ 16

◎ 交わる２直線の向かい合う角

6

日にち：　　月　　日

名まえ

・ ㋐, ㋑ の角度はそれぞれ何度ですか。

①

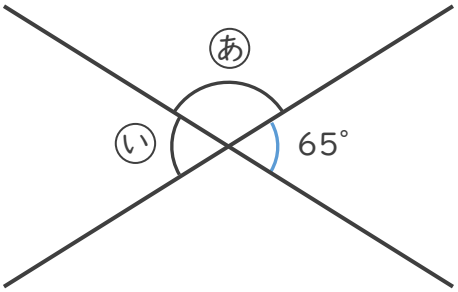

式：

㋐（　　）

㋑（　　）

②

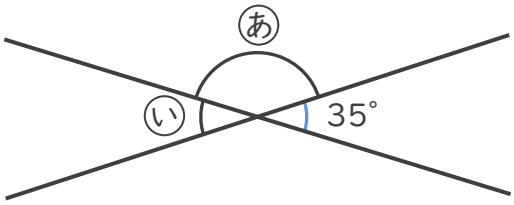

式：

㋐（　　）

㋑（　　）

すらすらぷりんと

角の大きさ 16

◎ 交わる２直線の向かい合う角

6

日にち：　　月　　日

名まえ

・ ㋐, ㋑ の角度はそれぞれ何度ですか。

①

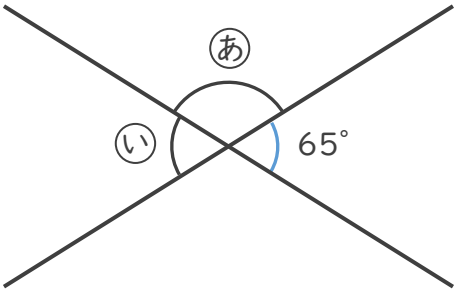

式： ㋐ の角度は、

$180° - 65° = 115°$

㋑ の角度は、

$180° - 115° = 65°$

㋐（ 115° ）

㋑（ 65° ）

②

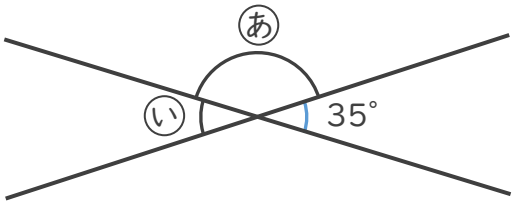

式： ㋐ の角度は、

$180° - 35° = 145°$

㋑ の角度は、

$180° - 145° = 35°$

㋐（ 145° ）

㋑（ 35° ）

すらすらぷりんと