角の大きさ 10

◉ 反時計回りの角の作図

6

日にち：　　月　　日

名まえ

・次の角をかきましょう。

① 90°

② 100°



③ 125°



すらすらぷりんと

角の大きさ 10

◉ 反時計回りの角の作図

6

日にち：　　月　　日

名まえ

・次の角をかきましょう。

① 90°

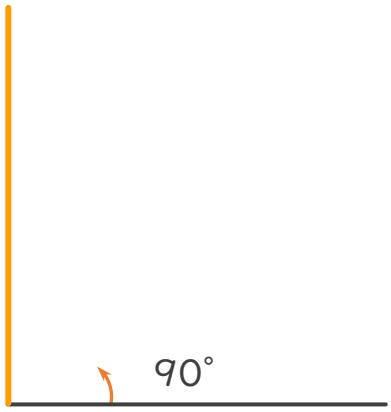

② 100°

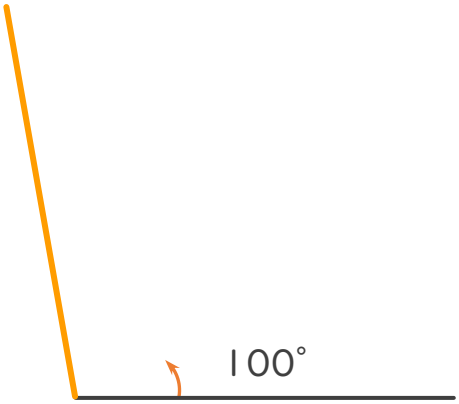

③ 125°

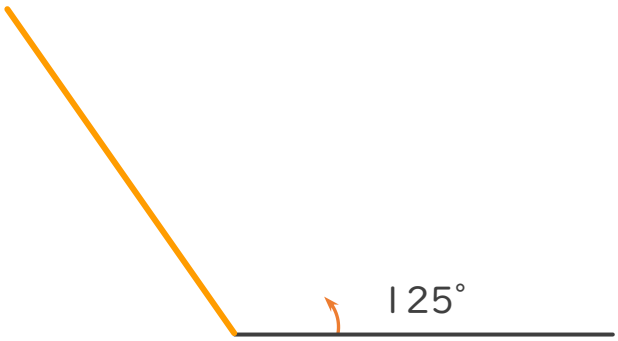

すらすらぷりんと