# 分数（分数の表し方）1

◎ 真分数・帯分数・仮分数とは　6

日にち：　　月　　日

名まえ

**1**　次の分数は、真分数、仮分数、帯分数のどれですか。

① $1\frac{3}{5}$　　② $\frac{7}{4}$　　③ $\frac{8}{9}$

④ $\frac{8}{8}$　　⑤ $\frac{10}{7}$　　⑥ $\frac{2}{3}$

答え：　①　　②　　③

④　　⑤　　⑥

**2**　色をぬった部分の長さを、仮分数と帯分数の両方で表しましょう
（うすい字はなぞろう）

①

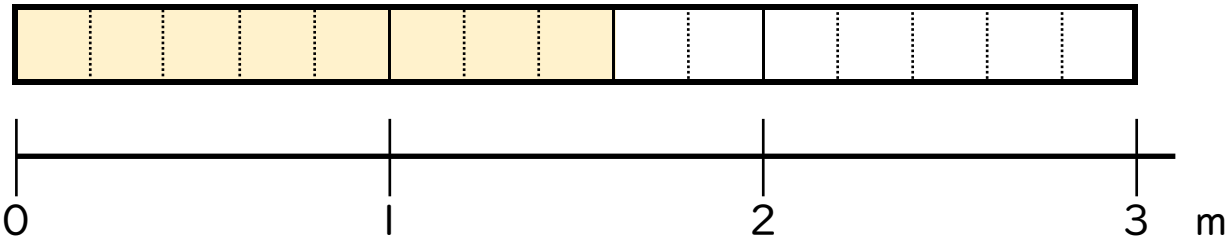


答え：　仮分数…　$\frac{8}{5}$　　帯分数…

②

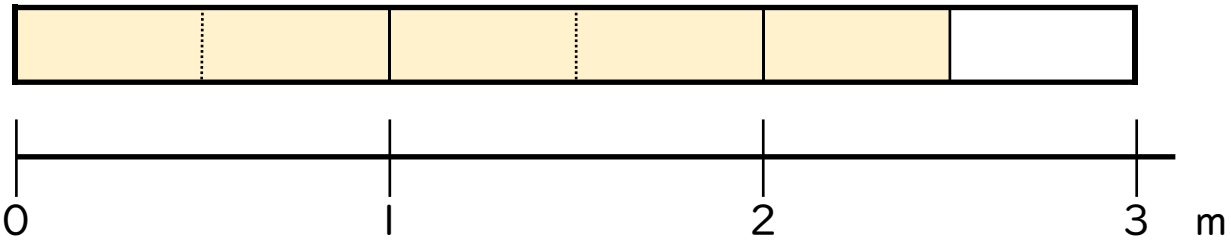


答え：　仮分数…　　帯分数…



すらすらぷりんと

# 分数（分数の表し方）1 6

◎ 真分数・帯分数・仮分数とは

日にち：　　月　　日

名まえ

**1**　次の分数は、真分数、仮分数、帯分数のどれですか。

① $1\frac{3}{5}$　　② $\frac{7}{4}$　　③ $\frac{8}{9}$

④ $\frac{8}{8}$　　⑤ $\frac{10}{7}$　　⑥ $\frac{2}{3}$

答え：　① 帯分数　② 仮分数　③ 真分数

④ 仮分数　⑤ 仮分数　⑥ 真分数

**2**　色をぬった部分の長さを、仮分数と帯分数の両方で表しましょう
（うすい字はなぞろう）

①

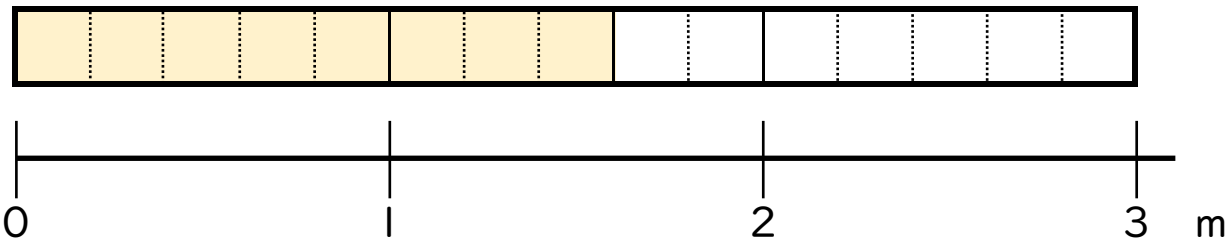


答え：　仮分数…　$\frac{8}{5}$　　帯分数…　$1\frac{3}{5}$

②

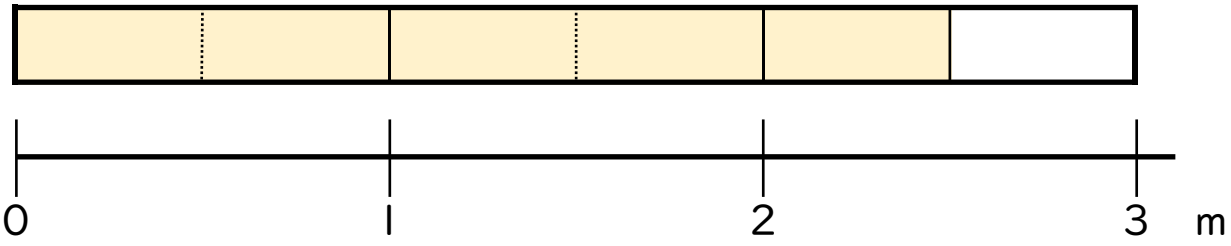


答え：　仮分数…　$\frac{5}{2}$　　帯分数…　$2\frac{1}{2}$



すらすらぷりんと