角の大きさ 7

◎ 180° から
引いて求める角度

6

日にち：　　月　　日

名まえ

・ ㋐ の角度を、計算で求めましょう。

①

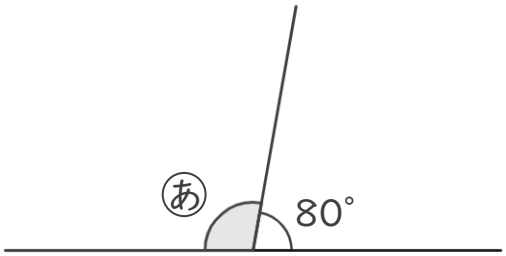

式：

答え（　　）

②

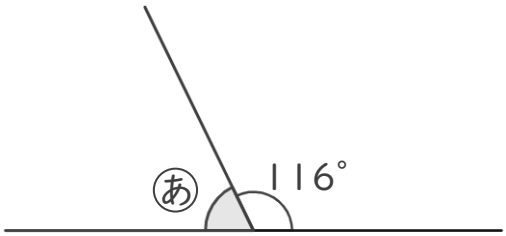

式：

答え（　　）

③

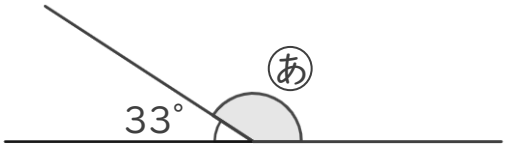

式：

答え（　　）

すらすらぷりんと

角の大きさ 7

◎ 180° から
引いて求める角度

6

日にち：　　月　　日

名まえ

・ ㋐ の角度を、計算で求めましょう。

①

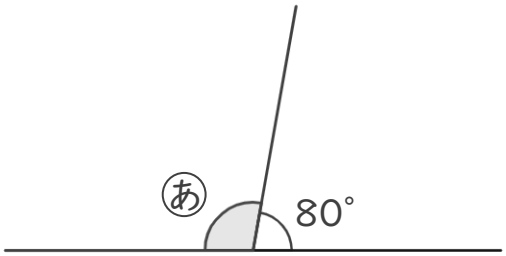

式： 180° − 80° ＝ 100°

答え（　100°　）

②

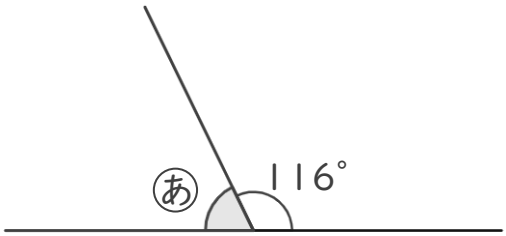

式： 180° − 116° ＝ 64°

答え（　64°　）

③

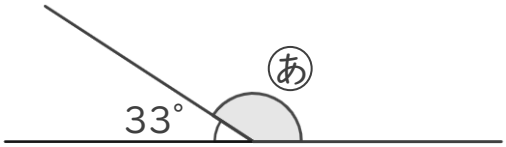

式： 180° − 33° ＝ 147°

答え（　147°　）

すらすらぷりんと