# 角の大きさ 17

◎ 三角形の作図
（一辺とその両たんの角）

7

日にち：　　月　　日

名まえ

・じょうぎと分度器をつかって、下のような三角形をかきましょう。

①

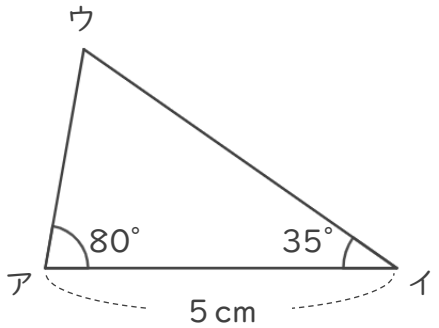


＜作図らん＞

②

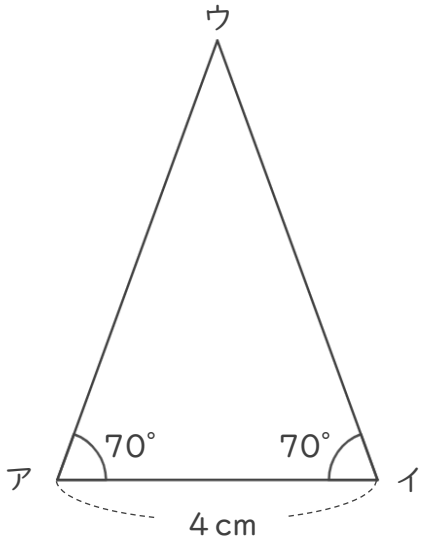


＜作図らん＞



すらすらぷりんと

# 角の大きさ 17

◎ 三角形の作図
（一辺とその両たんの角）

7

日にち：　　月　　日

名まえ

・じょうぎと分度器をつかって、下のような三角形をかきましょう。

①

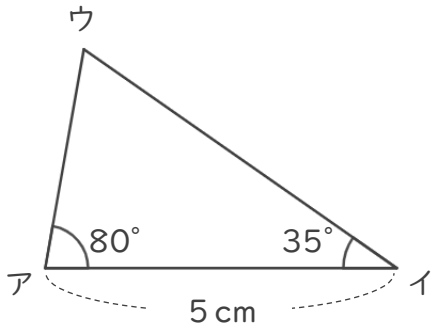


＜作図らん＞

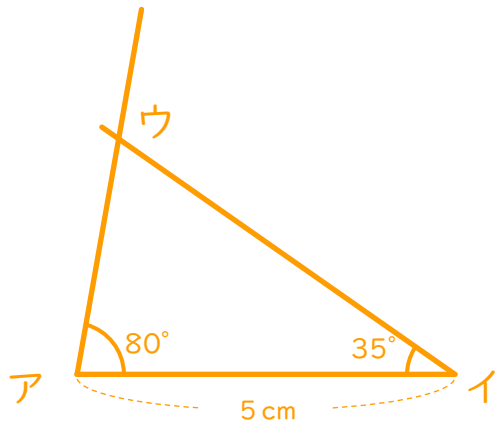


②

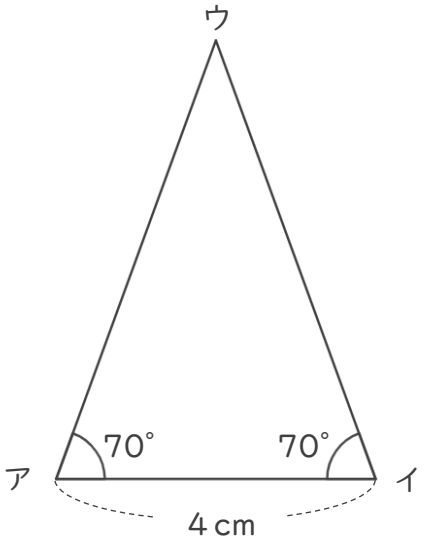


＜作図らん＞

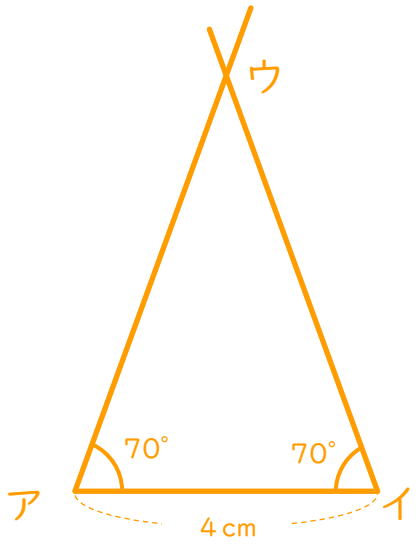




すらすらぷりんと