角の大きさ 16

◎ 交わる２直線の向かい合う角

7

日にち：　　月　　日

名まえ

・ ㋐, ㋑ の角度はそれぞれ何度ですか。

①

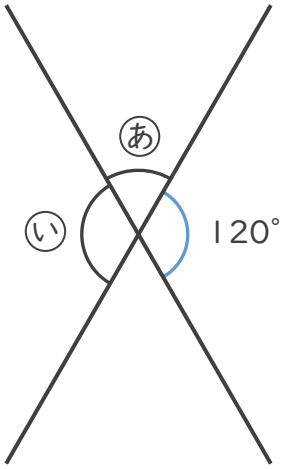

式：

㋐（　　）

㋑（　　）

②

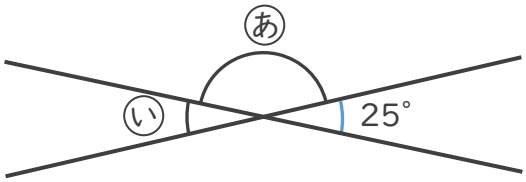

式：

㋐（　　）

㋑（　　）

すらすらぷりんと

角の大きさ 16

◎ 交わる２直線の向かい合う角

7

日にち：　　月　　日

名まえ

・ ㋐, ㋑ の角度はそれぞれ何度ですか。

①

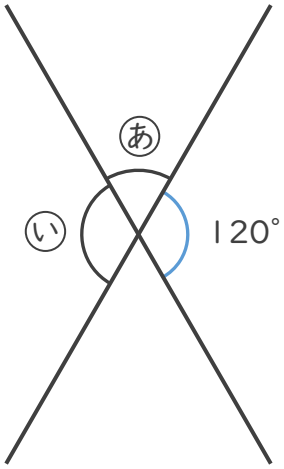

式： ㋐ の角度は、

$180° - 120° = 60°$

㋑ の角度は、

$180° - 60° = 120°$

㋐（ 60° ）

㋑（ 120° ）

②

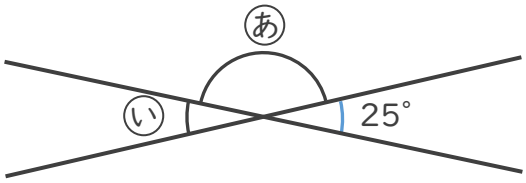

式： ㋐ の角度は、

$180° - 25° = 155°$

㋑ の角度は、

$180° - 155° = 25°$

㋐（ 155° ）

㋑（ 25° ）

すらすらぷりんと