角の大きさ 11

◉ 時計回りの角の作図

7

日にち：　　月　　日

名まえ

・点アを頂点として、次の大きさの角をかきましょう。

① 65°

② 140°

③ 30°

すらすらぷりんと

角の大きさ II

◉ 時計回りの角の作図

7

日にち：　　月　　日

名まえ

・点アを頂点として、次の大きさの角をかきましょう。

① 65°

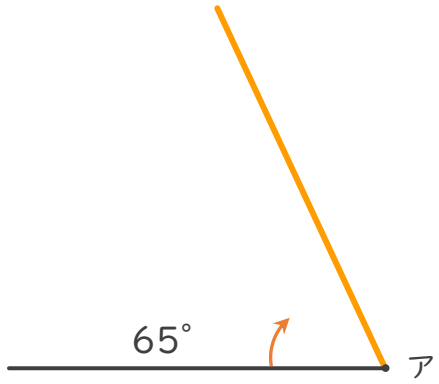

② 140°

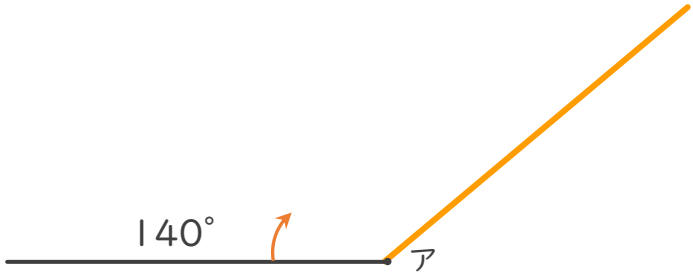

③ 30°

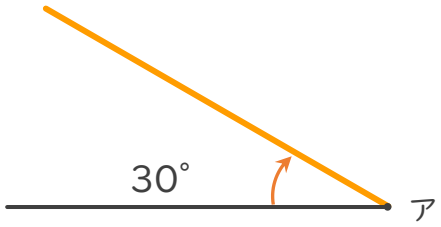

すらすらぷりんと