分数（分数の表し方）2

◎ 水のかさを帯分数と仮分数で表す

7

日にち：　　月　　日

名まえ

1 水のかさは何Lですか。仮分数と帯分数の両方で表しましょう。

①

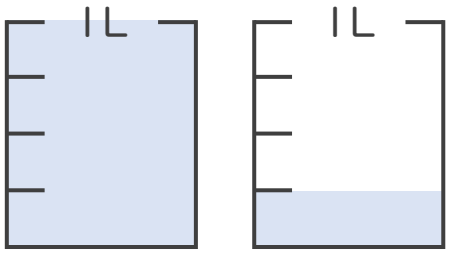

答え：仮分数…　　L

帯分数…　　L

②

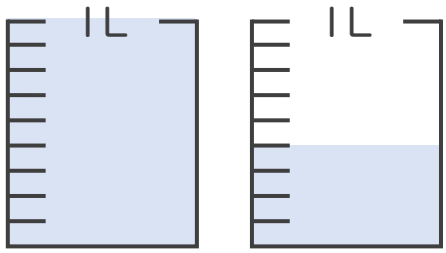

答え：仮分数…　　L

帯分数…　　L

2 ア～エのめもりが表す分数はいくつですか。
1より大きい分数は、仮分数と帯分数の両方で表しましょう。

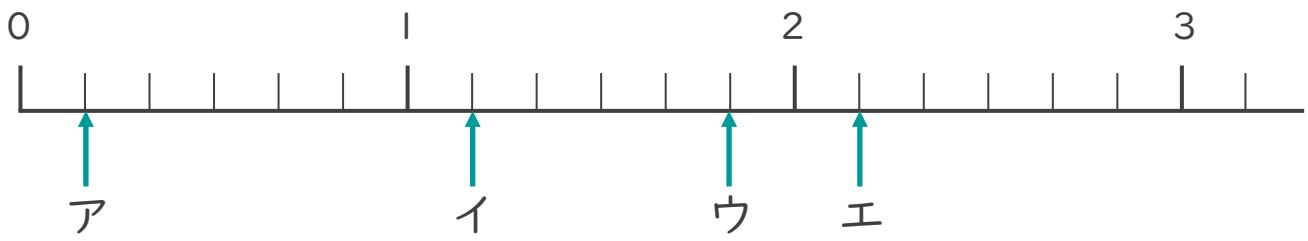

答え：ア　　イ

ウ　　エ

すらすらぷりんと

分数（分数の表し方）2

◎ 水のかさを帯分数と仮分数で表す

7

日にち：　　月　　日

名まえ

1 水のかさは何Lですか。仮分数と帯分数の両方で表しましょう。

①

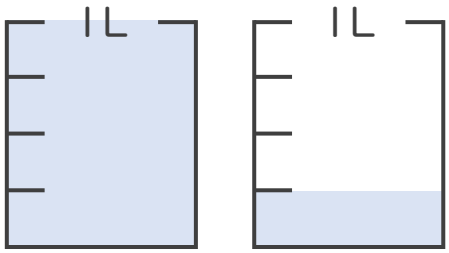

答え：仮分数… $\frac{5}{4}$ L

帯分数… $1\frac{1}{4}$ L

②

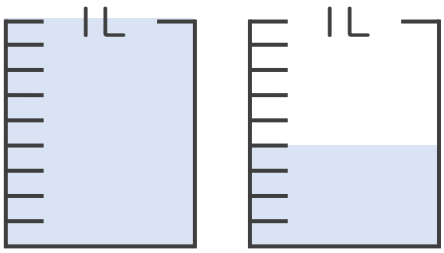

答え：仮分数… $\frac{13}{9}$ L

帯分数… $1\frac{4}{9}$ L

2 ア～エのめもりが表す分数はいくつですか。
1より大きい分数は、仮分数と帯分数の両方で表しましょう。

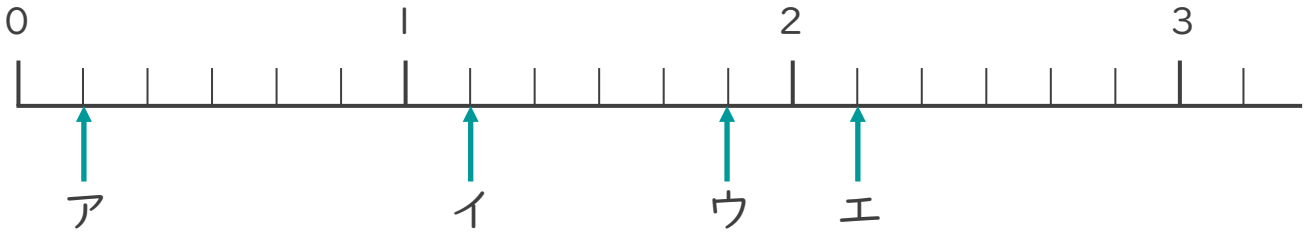

答え：ア $\frac{1}{6}$

イ $\frac{7}{6}$, $1\frac{1}{6}$

ウ $\frac{11}{6}$, $1\frac{5}{6}$

エ $\frac{13}{6}$, $2\frac{1}{6}$

すらすらぷりんと