# 分数（分数の表し方）1

◎ 真分数・帯分数・仮分数とは

7

日にち：　　月　　日

名まえ

**1**　次の分数は、真分数、仮分数、帯分数のどれですか。

① $\frac{8}{8}$　　② $\frac{13}{7}$　　③ $2\frac{4}{9}$

④ $2\frac{2}{5}$　　⑤ $\frac{1}{6}$　　⑥ $\frac{7}{3}$

答え：　①　　②　　③

④　　⑤　　⑥

**2**　色をぬった部分の長さを、仮分数と帯分数の両方で表しましょう
（うすい字はなぞろう）

①

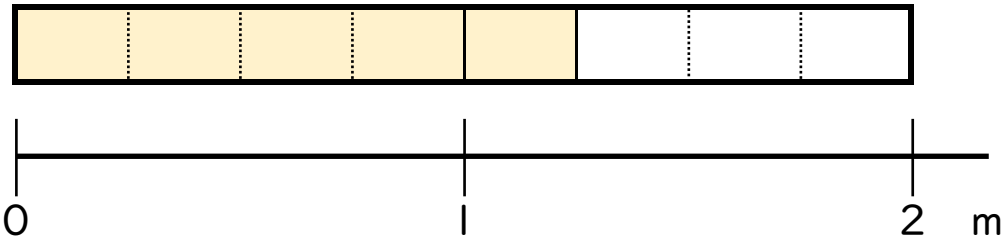


答え：　仮分数…　$\frac{5}{4}$　　帯分数…

②

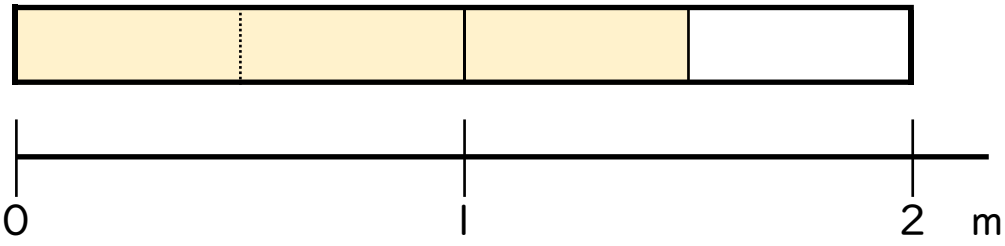


答え：　仮分数…　　帯分数…



すらすらぷりんと

# 分数（分数の表し方）1 7

◎ 真分数・帯分数・仮分数とは

日にち：　　月　　日

名まえ

**1**　次の分数は、真分数、仮分数、帯分数のどれですか。

① $\frac{8}{8}$　② $\frac{13}{7}$　③ $2\frac{4}{9}$

④ $2\frac{2}{5}$　⑤ $\frac{1}{6}$　⑥ $\frac{7}{3}$

答え：① 仮分数　② 仮分数　③ 帯分数

④ 帯分数　⑤ 真分数　⑥ 仮分数

**2**　色をぬった部分の長さを、仮分数と帯分数の両方で表しましょう
（うすい字はなぞろう）

①

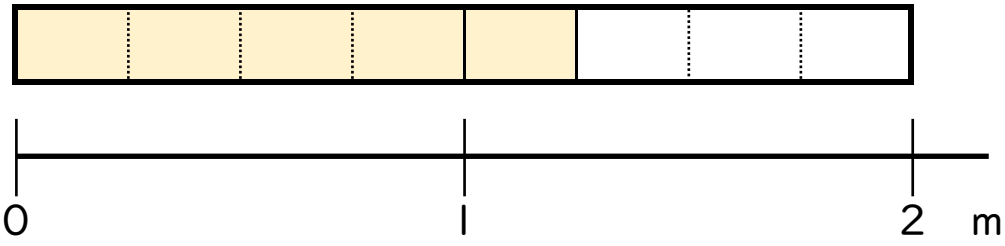


答え：　仮分数…$\frac{5}{4}$　帯分数…$1\frac{1}{4}$

②

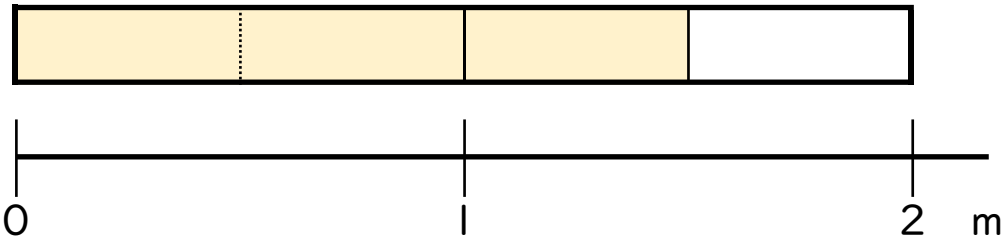


答え：　仮分数…$\frac{3}{2}$　帯分数…$1\frac{1}{2}$



すらすらぷりんと