角の大きさ 7

◎ 180° から
引いて求める角度

7

日にち：　　月　　日

名まえ

・ ㋐ の角度を、計算で求めましょう。

①

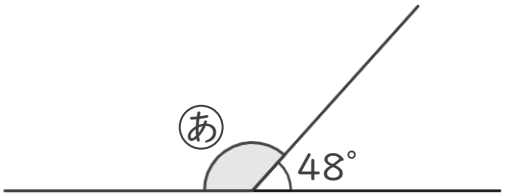

式：

答え（　　）

②

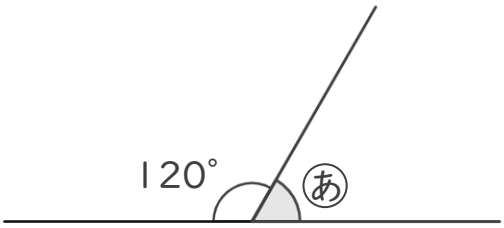

式：

答え（　　）

③

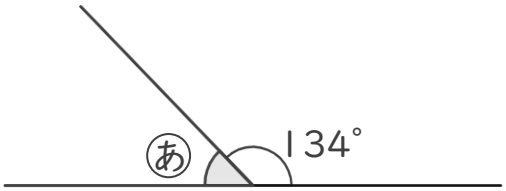

式：

答え（　　）

すらすらぷりんと

角の大きさ 7

◎ 180° から
引いて求める角度

7

日にち：　　月　　日

名まえ

・ ㋐ の角度を、計算で求めましょう。

①

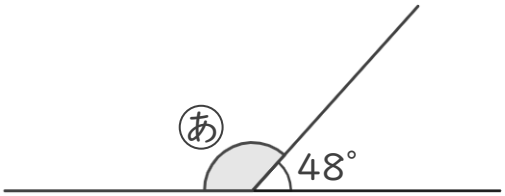

式： 180° − 48° ＝ 132°

答え（　132°　）

②

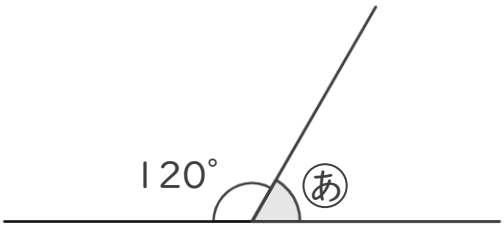

式： 180° − 120° ＝ 60°

答え（　60°　）

③

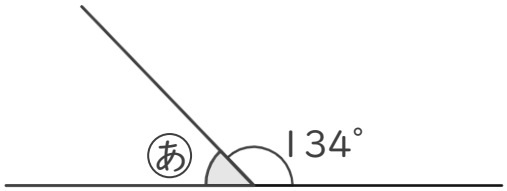

式： 180° − 134° ＝ 46°

答え（　46°　）

すらすらぷりんと