角の大きさ 16

◎ 交わる２直線の向かい合う角

8

日にち：　　月　　日

名まえ

・ ㋐, ㋑ の角度はそれぞれ何度ですか。

①

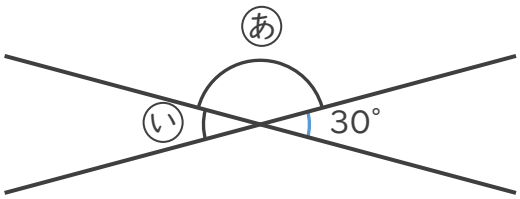

式：

㋐（　　）

㋑（　　）

②

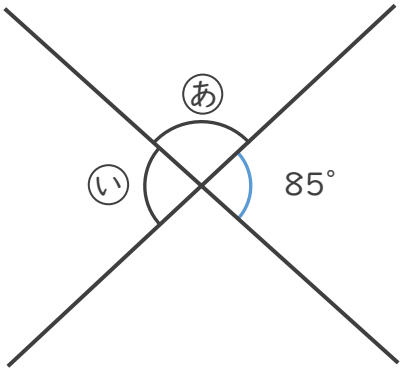

式：

㋐（　　）

㋑（　　）

すらすらぷりんと

角の大きさ 16

◎ 交わる２直線の向かい合う角

8

日にち：　　月　　日

名まえ

・ ㋐, ㋑ の角度はそれぞれ何度ですか。

①

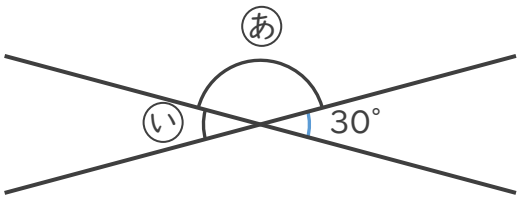

式： ㋐ の角度は、

$180° - 30° = 150°$

㋑ の角度は、

$180° - 150° = 30°$

㋐（ 150° ）

㋑（ 30° ）

②

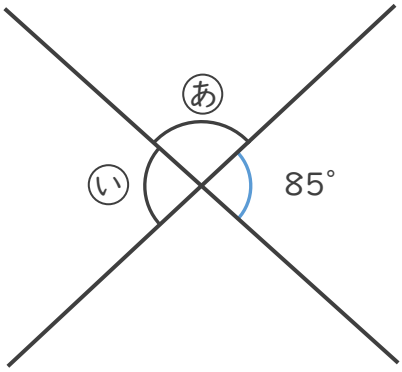

式： ㋐ の角度は、

$180° - 85° = 95°$

㋑ の角度は、

$180° - 95° = 85°$

㋐（ 95° ）

㋑（ 85° ）

すらすらぷりんと