角の大きさ 2

◎ 分度器で角度をはかる
（反時計回り）

8

日にち：　　月　　日

名まえ

・分度器（ぶんどき）を使って角度をはかりましょう。

＜分度器の使い方＞

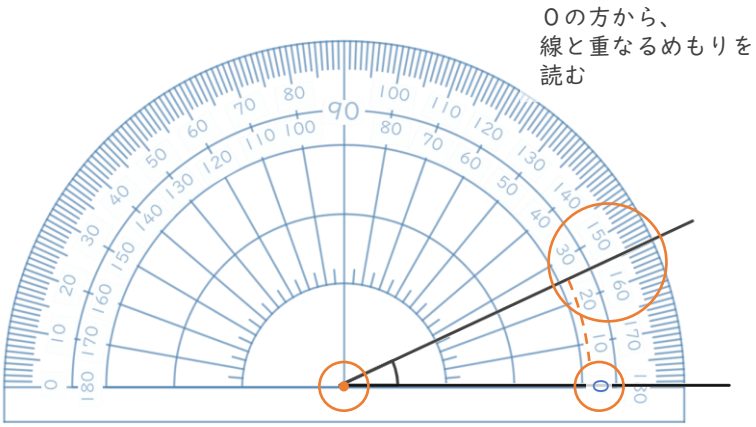

①

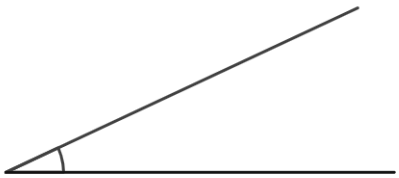

答え（　　）

②

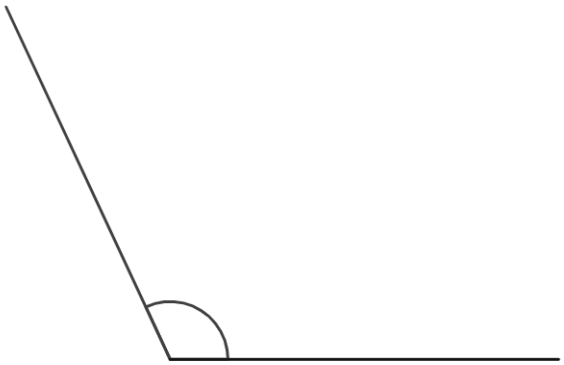

答え（　　）

③

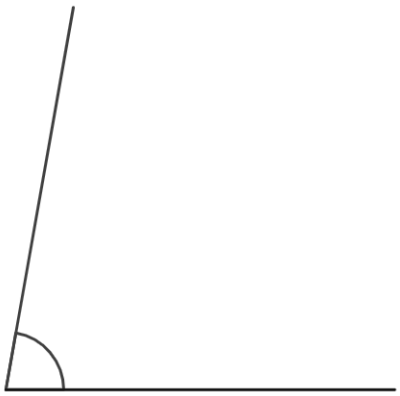

答え（　　）

すらすらぷりんと

角の大きさ 2

◎ 分度器で角度をはかる
（反時計回り）

8

日にち：　　月　　日

名まえ

・分度器（ぶんどき）を使って角度をはかりましょう。

＜分度器の使い方＞

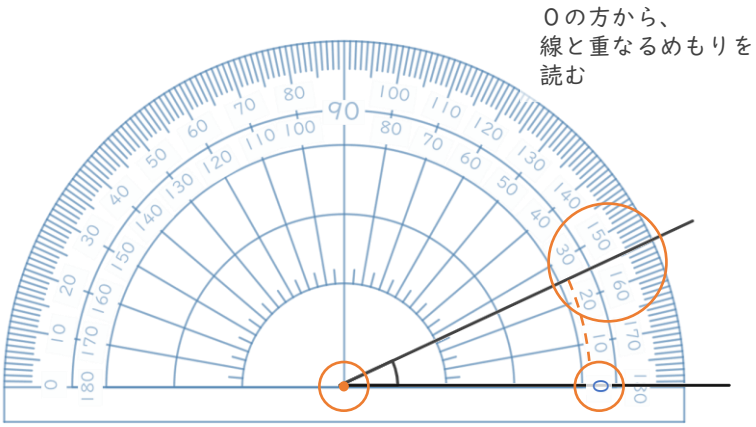

①

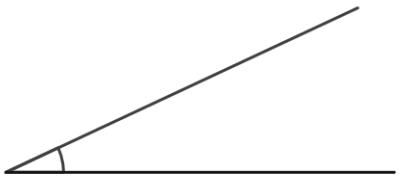

答え（　25°　）

②

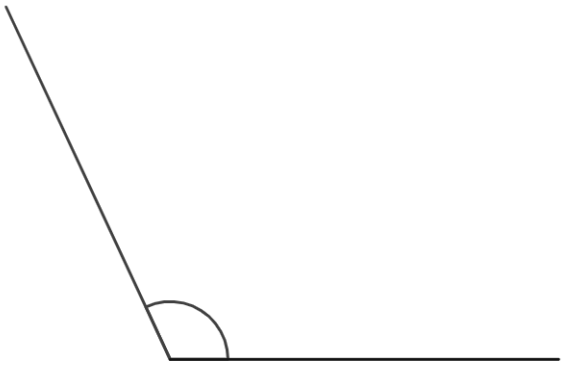

答え（　115°　）

③

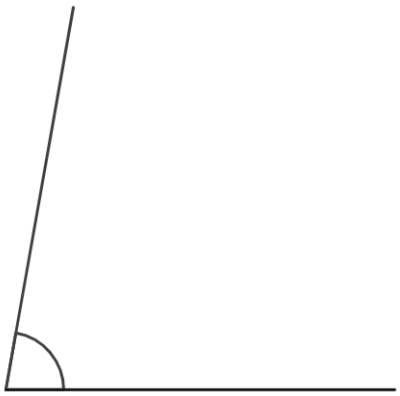

答え（　80°　）

すらすらぷりんと