角の大きさ 10

◉ 反時計回りの角の作図

8

日にち：　　月　　日

名まえ

・次の角をかきましょう。

① 20°

② 75°



③ 160°

すらすらぷりんと

角の大きさ 10

◉ 反時計回りの角の作図

8

日にち：　　月　　日

名まえ

・次の角をかきましょう。

① 20°

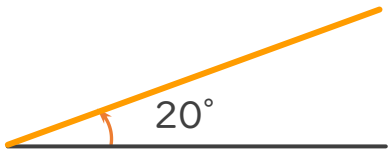

② 75°

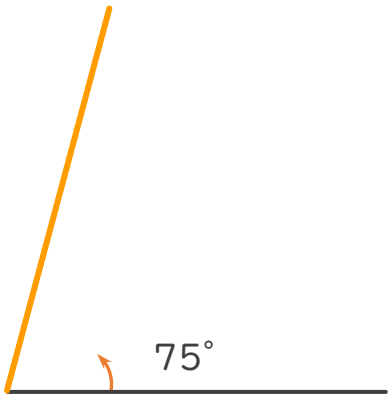

③ 160°

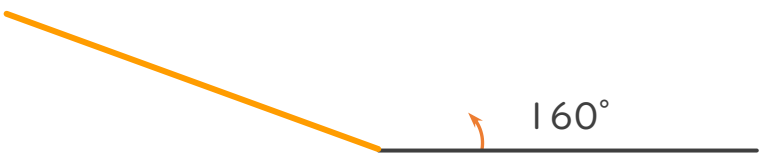

すらすらぷりんと