角の大きさ II

◉ 時計回りの角の作図

8

日にち：　　月　　日

名まえ

・点アを頂点として、次の大きさの角をかきましょう。

① 45°



② 135°

③ 70°

すらすらぷりんと

角の大きさ II

◉ 時計回りの角の作図

8

日にち：　　月　　日

名まえ

・点アを頂点として、次の大きさの角をかきましょう。

① 45°

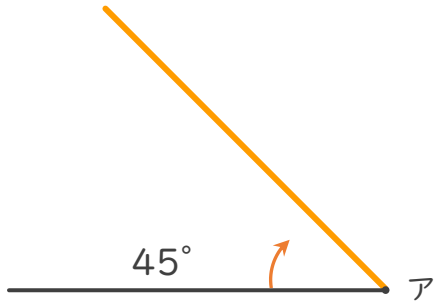

② 135°

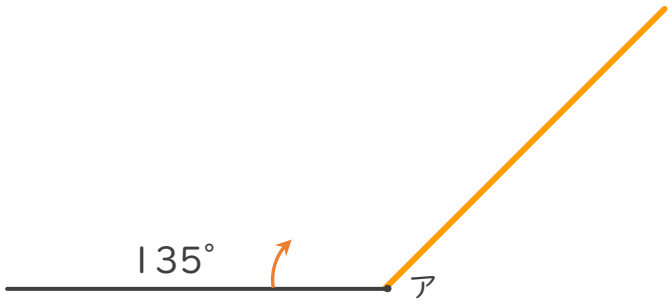

③ 70°

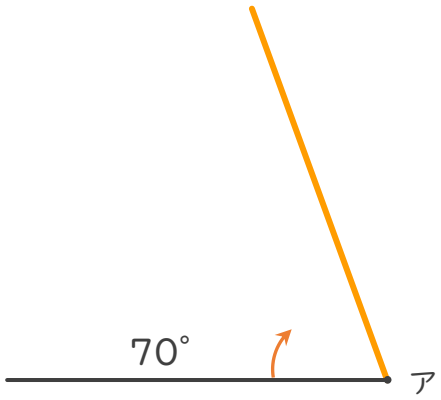

すらすらぷりんと