角の大きさ 14

◎ 三角じょうぎを
組み合わせて作る角度

9

日にち：　　月　　日

名まえ

・三角じょうぎでできる ㋐ の角度をもとめましょう。

①

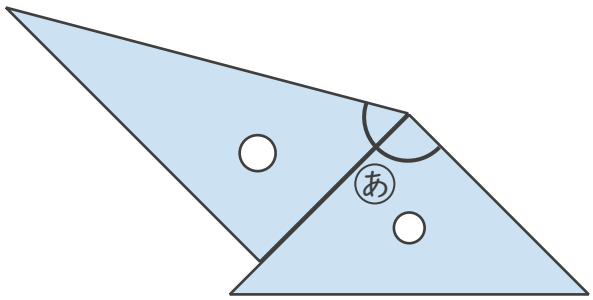

式：

答え（　　）

②

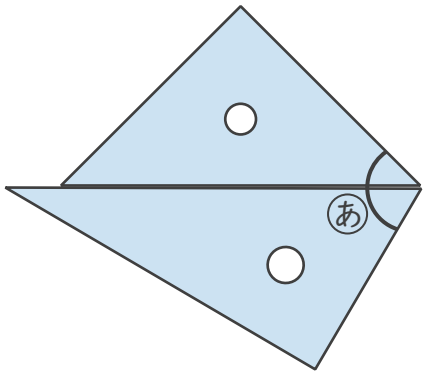

式：

答え（　　）

③

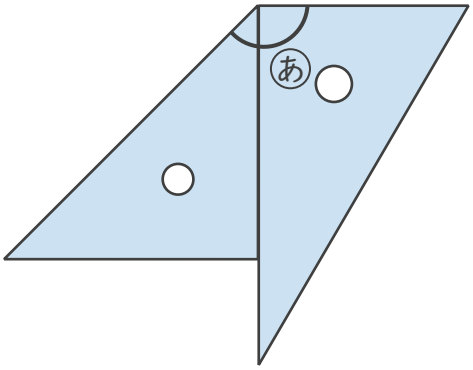

式：

答え（　　）

④

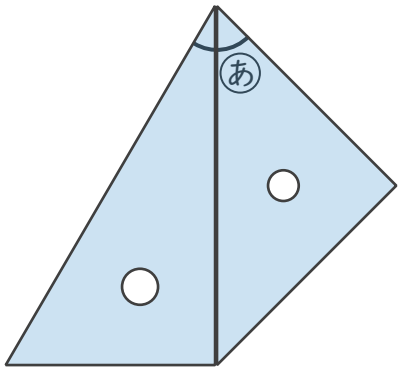

式：　＋　＝

答え（　　）

すらすらぷりんと

角の大きさ 14

◎ 三角じょうぎを組み合わせて作る角度

9

日にち：　　月　　日

名まえ

・三角じょうぎでできる ㋐ の角度をもとめましょう。

①

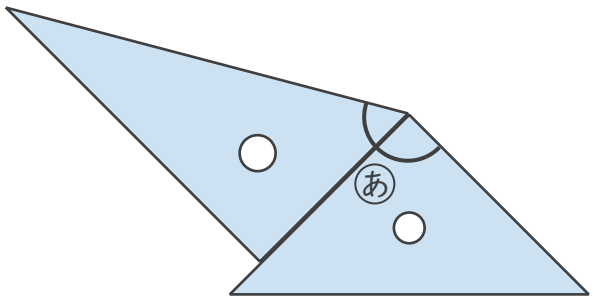

式：60° ＋ 90° ＝ 150°

答え（ 150° ）

②

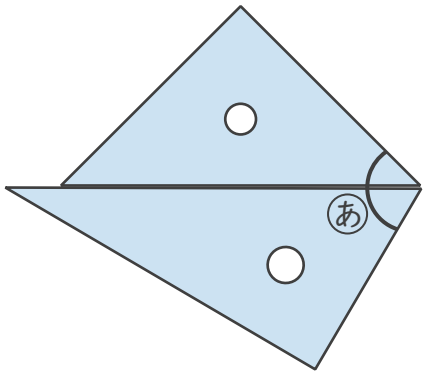

式：45° ＋ 60° ＝ 105°

答え（ 105° ）

③

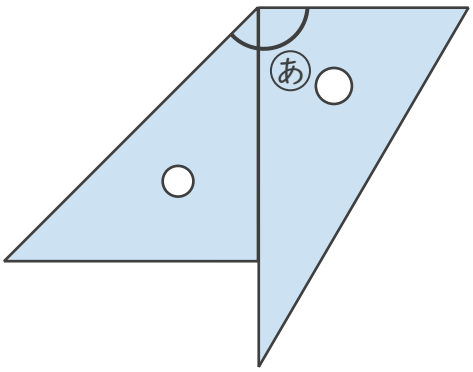

式：45° ＋ 90° ＝ 135°

答え（ 135° ）

④

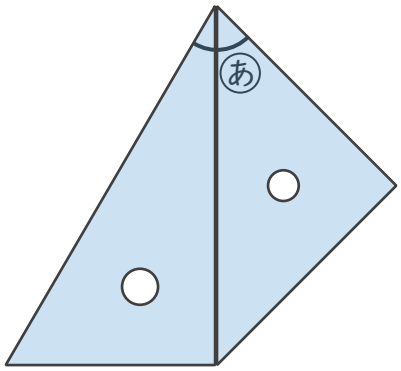

式：30° ＋ 45° ＝ 75°

答え（ 75° ）

すらすらぷりんと