角の大きさ 10

◉ 反時計回りの角の作図

9

日にち：　　月　　日

名まえ

・次の角をかきましょう。

① 55°

② 60°



③ 140°

すらすらぷりんと

角の大きさ 10

◉ 反時計回りの角の作図

9

日にち：　　月　　日

名まえ

・次の角をかきましょう。

① 55°

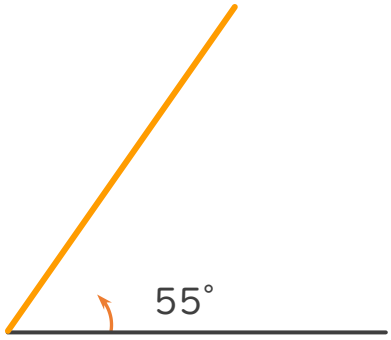

② 60°

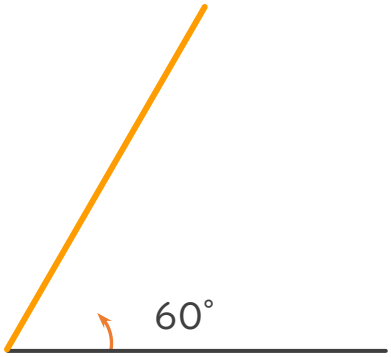

③ 140°

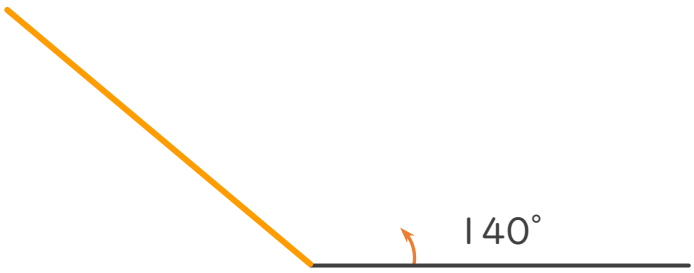

すらすらぷりんと