分数（分数の表し方）1　9

◎ 真分数・帯分数・仮分数とは

日にち：　　月　　日

名まえ

1　次の分数は、真分数、仮分数、帯分数のどれですか。

① $3\frac{5}{8}$　　② $\frac{7}{9}$　　③ $\frac{7}{6}$

④ $\frac{17}{3}$　　⑤ $\frac{4}{4}$　　⑥ $1\frac{5}{8}$

答え：　①　　②　　③

④　　⑤　　⑥

2　色をぬった部分の長さを、仮分数と帯分数の両方で表しましょう

①

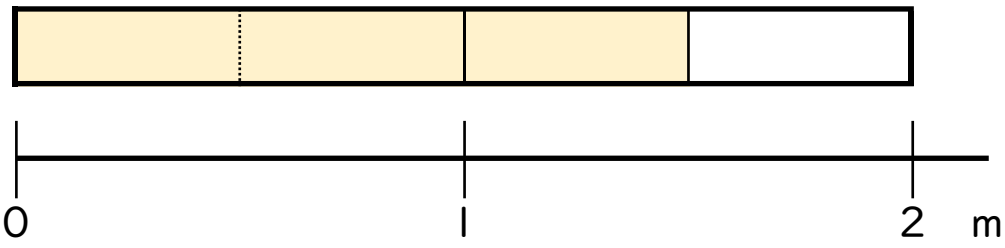

答え：　仮分数…　　帯分数…

②

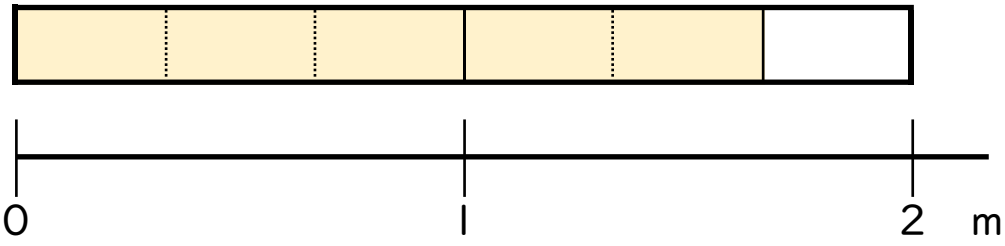

答え：　仮分数…　　帯分数…

すらすらぷりんと

分数（分数の表し方）1　9

◎ 真分数・帯分数・仮分数とは

日にち：　　月　　日

名まえ

1　次の分数は、真分数、仮分数、帯分数のどれですか。

① $3\frac{5}{8}$　② $\frac{7}{9}$　③ $\frac{7}{6}$

④ $\frac{17}{3}$　⑤ $\frac{4}{4}$　⑥ $1\frac{5}{8}$

答え：① 帯分数　② 真分数　③ 仮分数

④ 仮分数　⑤ 仮分数　⑥ 帯分数

2　色をぬった部分の長さを、仮分数と帯分数の両方で表しましょう

①

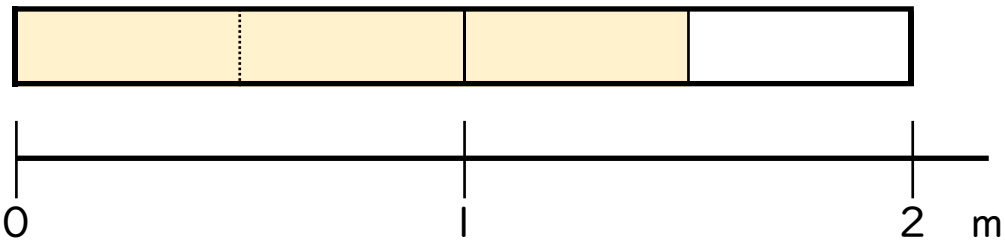

答え：　仮分数…$\frac{3}{2}$　帯分数…$1\frac{1}{2}$

②

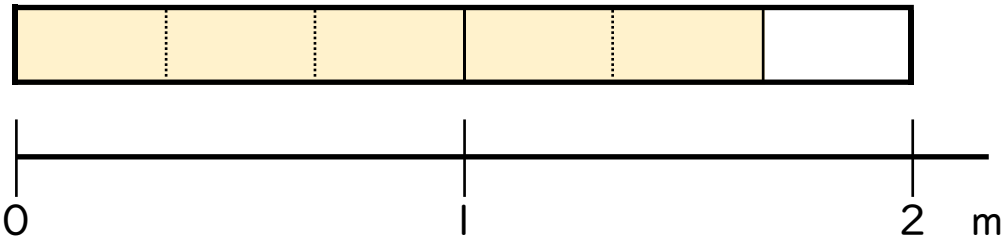

答え：　仮分数…$\frac{5}{3}$　帯分数…$1\frac{2}{3}$

すらすらぷりんと