角の大きさ 7

◎ 180° から
引いて求める角度

9

日にち：　　月　　日

名まえ

・ ㋐ の角度を、計算で求めましょう。

①

式：

答え（　　）

②

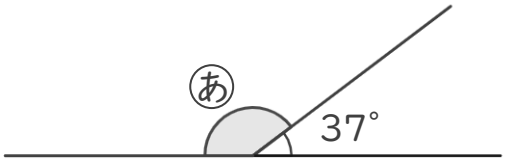

式：

答え（　　）

③

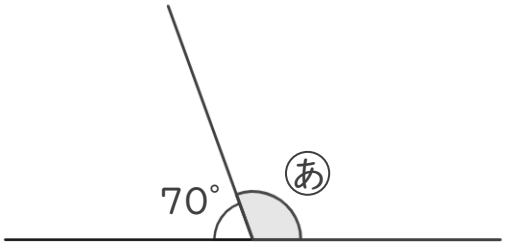

式：

答え（　　）

すらすらぷりんと

角の大きさ 7

◎ 180° から
引いて求める角度

9

日にち：　　月　　日

名まえ

・ ㋐ の角度を、計算で求めましょう。

①

式： 180° − 155° ＝ 25°

答え（ 25° ）

②

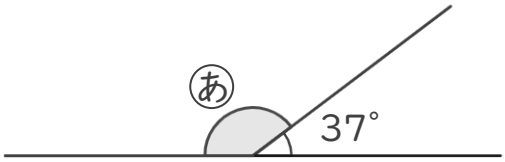

式： 180° − 37° ＝ 143°

答え（ 143° ）

③

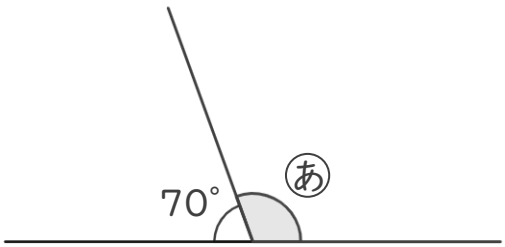

式： 180° − 70° ＝ 110°

答え（ 110° ）

すらすらぷりんと