分数 9
◎ 分数どうしのたし算・ひき算
1

日にち：　　月　　日

名まえ

1　$\frac{4}{5}$ mと $\frac{3}{5}$ mのテープがあります。
あわせると、何mになるでしょうか。(うすい字はなぞろう。)

①　$\frac{4}{5}$, $\frac{3}{5}$ は、それぞれ $\frac{1}{5}$ の何こ分ですか。

$\frac{1}{5}$ の $\boxed{4}$ こ分　　$\frac{1}{5}$ の $\boxed{3}$ こ分　　$\frac{1}{5}$ の $\boxed{7}$ こ分

②　$\frac{4}{5} + \frac{3}{5} = \boxed{\frac{7}{5}}$

答え：$\frac{7}{5}$ m

2　次の計算をしましょう。(うすい字はなぞろう。)

①　$\frac{7}{4} + \frac{2}{4} = \frac{9}{4}$

②　$\frac{2}{6} + \frac{5}{6} =$

③　$\frac{7}{8} - \frac{4}{8} = \frac{3}{8}$

④　$\frac{5}{7} - \frac{1}{7} =$

① 例題

すらすらぷりんと

分数 9
分数どうしのたし算・ひき算 2

日にち：　　月　　日

名まえ

1　$\frac{3}{4}$ mと $\frac{2}{4}$ mのテープがあります。
あわせると、何mになるでしょうか。

①　$\frac{3}{4}$, $\frac{2}{4}$ は、それぞれ $\frac{1}{4}$ の何こ分ですか。



$\frac{1}{4}$ の 3 こ分　　$\frac{1}{4}$ の 2 こ分　　$\frac{1}{4}$ の □ こ分

②　$\frac{3}{4} + \frac{2}{4} = \square$

答え：

2　次の計算をしましょう。(うすい字はなぞろう。)

①　$\frac{3}{8} + \frac{2}{8} = \frac{5}{8}$

②　$\frac{4}{9} + \frac{7}{9} =$

③　$\frac{9}{4} - \frac{2}{4} = \frac{7}{4}$

④　$\frac{5}{6} - \frac{4}{6} =$

すらすらぷりんと

分数 9
分数どうしのたし算・ひき算 3

日にち：　　月　　日

名まえ

1　$\frac{2}{3}$mと $\frac{2}{3}$mのテープがあります。
あわせると、何mになるでしょうか。

①　$\frac{2}{3}$, $\frac{2}{3}$は、それぞれ $\frac{1}{3}$の何こ分ですか。

$\frac{1}{3}$の□こ分

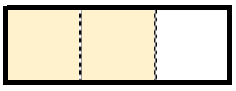

$\frac{1}{3}$の□こ分

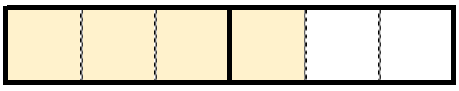

$\frac{1}{3}$の□こ分

②　$\frac{2}{3} + \frac{2}{3} = \square$

答え：

2　次の計算をしましょう。(うすい字はなぞろう。)

①　$\frac{6}{7} + \frac{3}{7} = \frac{9}{7}$

②　$\frac{2}{9} + \frac{5}{9} =$

③　$\frac{9}{8} - \frac{4}{8} = \frac{5}{8}$

④　$\frac{6}{2} - \frac{1}{2} =$

すらすらぷりんと

分数 9
分数どうしのたし算・ひき算 4

日にち：　　月　　日

名まえ

1　$\frac{4}{5}$ mと $\frac{2}{5}$ mのテープがあります。
あわせると、何mになるでしょうか。

①　$\frac{4}{5}$, $\frac{2}{5}$ は、それぞれ $\frac{1}{5}$ の何こ分ですか。

$\frac{1}{5}$ の□こ分　　$\frac{1}{5}$ の□こ分　　$\frac{1}{5}$ の□こ分

②　$\frac{4}{5} + \frac{2}{5} = \square$

答え：

2　次の計算をしましょう。(うすい字はなぞろう。)

①　$\frac{5}{6} + \frac{2}{6} = \frac{7}{6}$

②　$\frac{2}{3} + \frac{6}{3} =$

③　$\frac{6}{7} - \frac{2}{7} = \frac{4}{7}$

④　$\frac{8}{5} - \frac{6}{5} =$

すらすらぷりんと

分数 9
◎ 分数どうしのたし算・ひき算 5

日にち：　　月　　日

名まえ

1 次の問いに答えましょう。(うすい字はなぞろう。)

① $\frac{2}{3}$mと $\frac{5}{3}$mのテープがあります。
あわせると、何mになるでしょうか。

式：$\frac{2}{3} + \frac{5}{3} = \frac{7}{3}$

答え：$\frac{7}{3}$ m

② $\frac{5}{8}$mと $\frac{6}{8}$mのテープがあります。
あわせると、何mになるでしょうか。

式：

答え：

2 次の計算をしましょう。(うすい字はなぞろう。)

① $\frac{2}{3} + \frac{3}{3} = \frac{5}{3}$

② $\frac{8}{7} + \frac{2}{7} =$

③ $\frac{16}{5} - \frac{9}{5} =$

④ $\frac{9}{8} - \frac{4}{8} =$

すらすらぷりんと

分数 9
分数どうしのたし算・ひき算 6

日にち：　　月　　日

名まえ

1 次の問いに答えましょう。(うすい字はなぞろう。)

① $\frac{5}{9}$mと $\frac{2}{9}$mのテープがあります。
あわせると、何mになるでしょうか。

式：$\frac{5}{9} + \frac{2}{9} = \frac{7}{9}$

答え：$\frac{7}{9}$ m

② $\frac{3}{7}$mと $\frac{2}{7}$mのテープがあります。
あわせると、何mになるでしょうか。

式：

答え：

2 次の計算をしましょう。(うすい字はなぞろう。)

① $\frac{1}{6} + \frac{4}{6} = \frac{5}{6}$

② $\frac{4}{8} + \frac{1}{8} =$

③ $\frac{11}{3} - \frac{4}{3} =$

④ $\frac{8}{9} - \frac{4}{9} =$

すらすらぷりんと

分数 9
分数どうしのたし算・ひき算 7

日にち：　　月　　日

名まえ

1 次の問いに答えましょう。(うすい字はなぞろう。)

① $\frac{2}{5}$mと $\frac{4}{5}$mのテープがあります。
あわせると、何mになるでしょうか。

式：$\frac{2}{5} + \frac{4}{5} = \frac{6}{5}$

答え：$\frac{6}{5}$ m

② $\frac{2}{9}$mと $\frac{5}{9}$mのテープがあります。
あわせると、何mになるでしょうか。

式：

答え：

2 次の計算をしましょう。(うすい字はなぞろう。)

① $\frac{2}{3} + \frac{3}{3} = \frac{5}{3}$

② $\frac{1}{2} + \frac{4}{2} =$

③ $\frac{12}{7} - \frac{4}{7} =$

④ $\frac{7}{6} - \frac{2}{6} =$

すらすらぷりんと



日にち：　　月　　日

名まえ

1 次の問いに答えましょう。

① $\frac{3}{4}$ mと $\frac{6}{4}$ mのテープがあります。
あわせると、何mになるでしょうか。

式：

答え：

② $\frac{2}{8}$ mと $\frac{5}{8}$ mのテープがあります。
あわせると、何mになるでしょうか。

式：

答え：

2 次の計算をしましょう。

① $\frac{4}{9} + \frac{3}{9} =$

② $\frac{1}{6} + \frac{4}{6} =$

③ $\frac{11}{2} - \frac{6}{2} =$

④ $\frac{9}{7} - \frac{6}{7} =$

すらすらぷりんと



日にち：　　月　　日

名まえ

1 次の問いに答えましょう。

① $\frac{1}{7}$mと$\frac{4}{7}$mのテープがあります。
あわせると、何mになるでしょうか。

式：

答え：

② $\frac{3}{4}$mと$\frac{2}{4}$mのテープがあります。
あわせると、何mになるでしょうか。

式：

答え：

2 次の計算をしましょう。

① $\frac{3}{2} + \frac{2}{2} =$

② $\frac{2}{8} + \frac{9}{8} =$

③ $\frac{5}{3} - \frac{4}{3} =$

④ $\frac{8}{9} - \frac{3}{9} =$

すらすらぷりんと

分数 9
◎ 分数どうしのたし算・ひき算 10

日にち：　　月　　日

名まえ

1 次の計算をしましょう。

① $\frac{4}{6} + \frac{9}{6} =$

② $\frac{14}{4} - \frac{9}{4} =$

③ $\frac{20}{9} - \frac{5}{9} =$

④ $\frac{5}{3} + \frac{2}{3} =$

⑤ $\frac{2}{2} - \frac{1}{2} =$

⑥ $\frac{3}{9} + \frac{4}{9} =$

⑦ $\frac{13}{5} - \frac{11}{5} =$

⑧ $\frac{2}{7} + \frac{9}{7} =$

2 次の帯分数を、仮分数になおしましょう。

① $2\frac{5}{6} =$

② $4\frac{3}{10} =$

すらすらぷりんと

分数 9

分数どうしのたし算・ひき算 11

日にち：　　月　　日

名まえ

1 次の計算をしましょう。

① $\frac{6}{8} - \frac{5}{8} =$

② $\frac{3}{4} + \frac{6}{4} =$

③ $\frac{11}{3} - \frac{7}{3} =$

④ $\frac{3}{7} + \frac{1}{7} =$

⑤ $\frac{6}{5} - \frac{2}{5} =$

⑥ $\frac{13}{2} - \frac{8}{2} =$

⑦ $\frac{5}{6} + \frac{2}{6} =$

⑧ $\frac{2}{7} + \frac{9}{7} =$

2 次の帯分数を、仮分数になおしましょう。

① $1\frac{5}{6} =$

② $3\frac{4}{5} =$

すらすらぷりんと

分数 9
分数どうしのたし算・ひき算 12

日にち：　　月　　日

名まえ

1 次の計算をしましょう。

① $\frac{2}{4} + \frac{1}{4} =$

② $\frac{10}{9} - \frac{3}{9} =$

③ $\frac{6}{7} - \frac{3}{7} =$

④ $\frac{4}{8} + \frac{3}{8} =$

⑤ $\frac{5}{6} - \frac{4}{6} =$

⑥ $\frac{1}{2} + \frac{6}{2} =$

⑦ $\frac{14}{5} - \frac{7}{5} =$

⑧ $\frac{2}{3} + \frac{5}{3} =$

2 次の帯分数を、仮分数になおしましょう。

① $3\frac{3}{4} =$

② $2\frac{5}{8} =$

すらすらぷりんと

分数 9
◎ 分数どうしのたし算・ひき算 13

日にち：　　月　　日

名まえ

1 次の計算をしましょう。

① $\frac{10}{7} - \frac{6}{7} =$

② $\frac{1}{3} + \frac{4}{3} =$

③ $\frac{12}{5} - \frac{8}{5} =$

④ $\frac{3}{8} + \frac{6}{8} =$

⑤ $\frac{7}{2} - \frac{4}{2} =$

⑥ $\frac{11}{4} - \frac{8}{4} =$

⑦ $\frac{2}{9} + \frac{3}{9} =$

⑧ $\frac{3}{5} + \frac{4}{5} =$

2 次の帯分数を、仮分数になおしましょう。

① $2\frac{4}{7} =$

② $3\frac{5}{6} =$

すらすらぷりんと

分数 9
◎ 分数どうしのたし算・ひき算 14

日にち：　　月　　日

名まえ

1 次の計算をしましょう。

① $\frac{5}{6} + \frac{2}{6} =$

② $\frac{16}{9} - \frac{6}{9} =$

③ $\frac{4}{5} - \frac{2}{5} =$

④ $\frac{5}{3} + \frac{2}{3} =$

⑤ $\frac{9}{2} - \frac{6}{2} =$

⑥ $\frac{7}{8} + \frac{4}{8} =$

⑦ $\frac{13}{4} - \frac{8}{4} =$

⑧ $\frac{3}{7} + \frac{1}{7} =$

2 次の帯分数を、仮分数になおしましょう。

① $2\frac{1}{3} =$

② $3\frac{5}{6} =$

すらすらぷりんと

分数 9
◎ 分数どうしのたし算・ひき算 15

目指せ80点！　てん

名まえ

1 次の計算をしましょう。(各10点)

① $\frac{14}{9} - \frac{12}{9} =$

② $\frac{7}{2} - \frac{4}{2} =$

③ $\frac{5}{8} + \frac{4}{8} =$

④ $\frac{8}{9} + \frac{2}{9} =$

⑤ $\frac{6}{7} - \frac{5}{7} =$

⑥ $\frac{13}{6} - \frac{6}{6} =$

⑦ $\frac{5}{4} + \frac{2}{4} =$

⑧ $\frac{3}{5} + \frac{8}{5} =$

2 次の帯分数を、仮分数になおしましょう。(各10点)

① $3\frac{3}{4} =$

② $2\frac{5}{6} =$

すらすらぷりんと

分数 9
◎ 分数どうしのたし算・ひき算 16

目指せ80点！　てん

名まえ

1 次の計算をしましょう。(各10点)

① $\frac{10}{3} - \frac{8}{3} =$

② $\frac{3}{8} + \frac{2}{8} =$

③ $\frac{6}{2} - \frac{3}{2} =$

④ $\frac{2}{5} + \frac{7}{5} =$

⑤ $\frac{4}{9} + \frac{1}{9} =$

⑥ $\frac{15}{7} - \frac{9}{7} =$

⑦ $\frac{5}{6} + \frac{8}{6} =$

⑧ $\frac{9}{4} - \frac{6}{4} =$

2 次の帯分数を、仮分数になおしましょう。(各10点)

① $2\frac{4}{9} =$

② $1\frac{6}{7} =$

すらすらぷりんと

分数 9
分数どうしのたし算・ひき算 1

日にち：　　月　　日

名まえ

1　$\frac{4}{5}$ mと $\frac{3}{5}$ mのテープがあります。
あわせると、何mになるでしょうか。(うすい字はなぞろう。)

① $\frac{4}{5}$, $\frac{3}{5}$ は、それぞれ $\frac{1}{5}$ の何こ分ですか。

$\frac{1}{5}$ の 4 こ分　　$\frac{1}{5}$ の 3 こ分　　$\frac{1}{5}$ の 7 こ分

② $\frac{4}{5} + \frac{3}{5} = \frac{7}{5}$

答え：$\frac{7}{5}$ m

2　次の計算をしましょう。(うすい字はなぞろう。)

① $\frac{7}{4} + \frac{2}{4} = \frac{9}{4}$

② $\frac{2}{6} + \frac{5}{6} = \frac{7}{6}$

③ $\frac{7}{8} - \frac{4}{8} = \frac{3}{8}$

④ $\frac{5}{7} - \frac{1}{7} = \frac{4}{7}$

① 例題

すらすらぷりんと

分数 9
分数どうしのたし算・ひき算 2

日にち：　　月　　日

名まえ

1　$\frac{3}{4}$ mと $\frac{2}{4}$ mのテープがあります。
あわせると、何mになるでしょうか。

①　$\frac{3}{4}$, $\frac{2}{4}$ は、それぞれ $\frac{1}{4}$ の何こ分ですか。

$\frac{1}{4}$ の 3 こ分　　$\frac{1}{4}$ の 2 こ分　　$\frac{1}{4}$ の 5 こ分

②　$\frac{3}{4} + \frac{2}{4} = \frac{5}{4}$

答え：　$\frac{5}{4}$ m

2　次の計算をしましょう。(うすい字はなぞろう。)

①　$\frac{3}{8} + \frac{2}{8} = \frac{5}{8}$

②　$\frac{4}{9} + \frac{7}{9} = \frac{11}{9}$

③　$\frac{9}{4} - \frac{2}{4} = \frac{7}{4}$

④　$\frac{5}{6} - \frac{4}{6} = \frac{1}{6}$

すらすらぷりんと

日にち： 月 日

名まえ

1 $\frac{2}{3}$mと $\frac{2}{3}$mのテープがあります。
あわせると、何mになるでしょうか。

① $\frac{2}{3}$, $\frac{2}{3}$は、それぞれ $\frac{1}{3}$の何こ分ですか。



$\frac{1}{3}$の 2 こ分　　$\frac{1}{3}$の 2 こ分　　$\frac{1}{3}$の 4 こ分

② $\frac{2}{3} + \frac{2}{3} = \frac{4}{3}$

答え： $\frac{4}{3}$ m

2 次の計算をしましょう。（うすい字はなぞろう。）

① $\frac{6}{7} + \frac{3}{7} = \frac{9}{7}$

② $\frac{2}{9} + \frac{5}{9} = \frac{7}{9}$

③ $\frac{9}{8} - \frac{4}{8} = \frac{5}{8}$

④ $\frac{6}{2} - \frac{1}{2} = \frac{5}{2}$

すらすらぷりんと

分数 9
分数どうしのたし算・ひき算 4

日にち：　　月　　日

名まえ

1　$\frac{4}{5}$ mと $\frac{2}{5}$ mのテープがあります。
あわせると、何mになるでしょうか。

①　$\frac{4}{5}$，$\frac{2}{5}$ は、それぞれ $\frac{1}{5}$ の何こ分ですか。

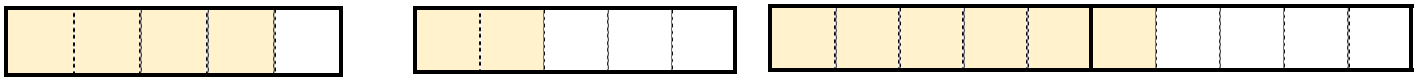

$\frac{1}{5}$ の 4 こ分　　$\frac{1}{5}$ の 2 こ分　　$\frac{1}{5}$ の 6 こ分

②　$\frac{4}{5} + \frac{2}{5} = \frac{6}{5}$

答え：　$\frac{6}{5}$ m

2　次の計算をしましょう。(うすい字はなぞろう。)

①　$\frac{5}{6} + \frac{2}{6} = \frac{7}{6}$

②　$\frac{2}{3} + \frac{6}{3} = \frac{8}{3}$

③　$\frac{6}{7} - \frac{2}{7} = \frac{4}{7}$

④　$\frac{8}{5} - \frac{6}{5} = \frac{2}{5}$

すらすらぷりんと

分数 9
分数どうしのたし算・ひき算 5

日にち：　　月　　日

名まえ

1 次の問いに答えましょう。(うすい字はなぞろう。)

① $\frac{2}{3}$mと $\frac{5}{3}$mのテープがあります。
あわせると、何mになるでしょうか。

式：$\frac{2}{3} + \frac{5}{3} = \frac{7}{3}$

答え：$\frac{7}{3}$ m

② $\frac{5}{8}$mと $\frac{6}{8}$mのテープがあります。
あわせると、何mになるでしょうか。

式：$\frac{5}{8} + \frac{6}{8} = \frac{11}{8}$

答え：$\frac{11}{8}$ m

2 次の計算をしましょう。(うすい字はなぞろう。)

① $\frac{2}{3} + \frac{3}{3} = \frac{5}{3}$

② $\frac{8}{7} + \frac{2}{7} = \frac{10}{7}$

③ $\frac{16}{5} - \frac{9}{5} = \frac{7}{5}$

④ $\frac{9}{8} - \frac{4}{8} = \frac{5}{8}$

すらすらぷりんと

分数 9
◎ 分数どうしのたし算・ひき算 6

日にち：　　月　　日

名まえ

1 次の問いに答えましょう。(うすい字はなぞろう。)

① $\frac{5}{9}$mと $\frac{2}{9}$mのテープがあります。
あわせると、何mになるでしょうか。

式：$\frac{5}{9} + \frac{2}{9} = \frac{7}{9}$

答え：$\frac{7}{9}$ m

② $\frac{3}{7}$mと $\frac{2}{7}$mのテープがあります。
あわせると、何mになるでしょうか。

式：$\frac{3}{7} + \frac{2}{7} = \frac{5}{7}$

答え：$\frac{5}{7}$ m

2 次の計算をしましょう。(うすい字はなぞろう。)

① $\frac{1}{6} + \frac{4}{6} = \frac{5}{6}$

② $\frac{4}{8} + \frac{1}{8} = \frac{5}{8}$

③ $\frac{11}{3} - \frac{4}{3} = \frac{7}{3}$

④ $\frac{8}{9} - \frac{4}{9} = \frac{4}{9}$

すらすらぷりんと

分数 9
◎ 分数どうしのたし算・ひき算 7

日にち：　　月　　日

名まえ

1 次の問いに答えましょう。(うすい字はなぞろう。)

① $\frac{2}{5}$mと $\frac{4}{5}$mのテープがあります。
あわせると、何mになるでしょうか。

式：$\frac{2}{5} + \frac{4}{5} = \frac{6}{5}$

答え：$\frac{6}{5}$ m

② $\frac{2}{q}$mと $\frac{5}{q}$mのテープがあります。
あわせると、何mになるでしょうか。

式：$\frac{2}{q} + \frac{5}{q} = \frac{7}{q}$

答え：$\frac{7}{q}$ m

2 次の計算をしましょう。(うすい字はなぞろう。)

① $\frac{2}{3} + \frac{3}{3} = \frac{5}{3}$

② $\frac{1}{2} + \frac{4}{2} = \frac{5}{2}$

③ $\frac{12}{7} - \frac{4}{7} = \frac{8}{7}$

④ $\frac{7}{6} - \frac{2}{6} = \frac{5}{6}$

すらすらぷりんと

分数 9
◎ 分数どうしのたし算・ひき算 8

日にち：　　月　　日

名まえ

1 次の問いに答えましょう。

① $\frac{3}{4}$ mと $\frac{6}{4}$ mのテープがあります。
あわせると、何mになるでしょうか。

式：$\frac{3}{4} + \frac{6}{4} = \frac{9}{4}$

答え：$\frac{9}{4}$ m

② $\frac{2}{8}$ mと $\frac{5}{8}$ mのテープがあります。
あわせると、何mになるでしょうか。

式：$\frac{2}{8} + \frac{5}{8} = \frac{7}{8}$

答え：$\frac{7}{8}$ m

2 次の計算をしましょう。

① $\frac{4}{9} + \frac{3}{9} = \frac{7}{9}$

② $\frac{1}{6} + \frac{4}{6} = \frac{5}{6}$

③ $\frac{11}{2} - \frac{6}{2} = \frac{5}{2}$

④ $\frac{9}{7} - \frac{6}{7} = \frac{3}{7}$

すらすらぷりんと



日にち：　　月　　日

名まえ

1 次の問いに答えましょう。

① $\frac{1}{7}$mと$\frac{4}{7}$mのテープがあります。
あわせると、何mになるでしょうか。

式：$\frac{1}{7} + \frac{4}{7} = \frac{5}{7}$

答え：$\frac{5}{7}$ m

② $\frac{3}{4}$mと$\frac{2}{4}$mのテープがあります。
あわせると、何mになるでしょうか。

式：$\frac{3}{4} + \frac{2}{4} = \frac{5}{4}$

答え：$\frac{5}{4}$ m

2 次の計算をしましょう。

① $\frac{3}{2} + \frac{2}{2} = \frac{5}{4}$

② $\frac{2}{8} + \frac{9}{8} = \frac{11}{8}$

③ $\frac{5}{3} - \frac{4}{3} = \frac{1}{3}$

④ $\frac{8}{9} - \frac{3}{9} = \frac{5}{9}$

すらすらぷりんと

分数 9
◎ 分数どうしのたし算・ひき算 10

日にち：　　月　　日

名まえ

1 次の計算をしましょう。

① $\frac{4}{6} + \frac{9}{6} = \frac{13}{6}$

② $\frac{14}{4} - \frac{9}{4} = \frac{5}{4}$

③ $\frac{20}{9} - \frac{5}{9} = \frac{15}{9}$

④ $\frac{5}{3} + \frac{2}{3} = \frac{7}{3}$

⑤ $\frac{2}{2} - \frac{1}{2} = \frac{1}{2}$

⑥ $\frac{3}{9} + \frac{4}{9} = \frac{7}{9}$

⑦ $\frac{13}{5} - \frac{11}{5} = \frac{2}{5}$

⑧ $\frac{2}{7} + \frac{9}{7} = \frac{11}{7}$

2 次の帯分数を、仮分数になおしましょう。

① $2\frac{5}{6} = \frac{2 \times 6 + 5}{6} = \frac{12 + 5}{6} = \frac{17}{6}$

② $4\frac{3}{10} = \frac{4 \times 10 + 3}{10} = \frac{40 + 3}{10} = \frac{43}{10}$

すらすらぷりんと

分数 9
分数どうしのたし算・ひき算 11

日にち：　　月　　日

名まえ

1 次の計算をしましょう。

① $\frac{6}{8} - \frac{5}{8} = \frac{1}{8}$

② $\frac{3}{4} + \frac{6}{4} = \frac{9}{4}$

③ $\frac{11}{3} - \frac{7}{3} = \frac{4}{3}$

④ $\frac{3}{7} + \frac{1}{7} = \frac{4}{7}$

⑤ $\frac{6}{5} - \frac{2}{5} = \frac{4}{5}$

⑥ $\frac{13}{2} - \frac{8}{2} = \frac{5}{2}$

⑦ $\frac{5}{6} + \frac{2}{6} = \frac{7}{6}$

⑧ $\frac{2}{7} + \frac{9}{7} = \frac{11}{7}$

2 次の帯分数を、仮分数になおしましょう。

① $1\frac{5}{6} = \frac{1 \times 6 + 5}{6} = \frac{6 + 5}{6} = \frac{11}{6}$

② $3\frac{4}{5} = \frac{3 \times 5 + 4}{5} = \frac{15 + 4}{5} = \frac{19}{5}$

すらすらぷりんと

分数 9
分数どうしのたし算・ひき算 12

日にち：　　月　　日

名まえ

1 次の計算をしましょう。

① $\frac{2}{4} + \frac{1}{4} = \frac{3}{4}$

② $\frac{10}{9} - \frac{3}{9} = \frac{7}{9}$

③ $\frac{6}{7} - \frac{3}{7} = \frac{3}{7}$

④ $\frac{4}{8} + \frac{3}{8} = \frac{7}{8}$

⑤ $\frac{5}{6} - \frac{4}{6} = \frac{1}{6}$

⑥ $\frac{1}{2} + \frac{6}{2} = \frac{7}{2}$

⑦ $\frac{14}{5} - \frac{7}{5} = \frac{7}{5}$

⑧ $\frac{2}{3} + \frac{5}{3} = \frac{7}{3}$

2 次の帯分数を、仮分数になおしましょう。

① $3\frac{3}{4} = \frac{3 \times 4 + 3}{4} = \frac{12 + 3}{4} = \frac{15}{4}$

② $2\frac{5}{8} = \frac{2 \times 8 + 5}{8} = \frac{16 + 5}{8} = \frac{21}{8}$

すらすらぷりんと

分数 9
◎ 分数どうしのたし算・ひき算 13

日にち：　　月　　日

名まえ

1 次の計算をしましょう。

① $\frac{10}{7} - \frac{6}{7} = \frac{4}{7}$

② $\frac{1}{3} + \frac{4}{3} = \frac{5}{3}$

③ $\frac{12}{5} - \frac{8}{5} = \frac{4}{5}$

④ $\frac{3}{8} + \frac{6}{8} = \frac{9}{8}$

⑤ $\frac{7}{2} - \frac{4}{2} = \frac{3}{2}$

⑥ $\frac{11}{4} - \frac{8}{4} = \frac{3}{4}$

⑦ $\frac{2}{9} + \frac{3}{9} = \frac{5}{9}$

⑧ $\frac{3}{5} + \frac{4}{5} = \frac{7}{5}$

2 次の帯分数を、仮分数になおしましょう。

① $2\frac{4}{7} = \frac{2 \times 7 + 4}{7} = \frac{14 + 4}{7} = \frac{18}{7}$

② $3\frac{5}{6} = \frac{3 \times 6 + 5}{6} = \frac{18 + 5}{6} = \frac{23}{6}$

すらすらぷりんと

分数 9
◎ 分数どうしのたし算・ひき算 14

日にち：　　月　　日

名まえ

1 次の計算をしましょう。

① $\frac{5}{6} + \frac{2}{6} = \frac{7}{6}$

② $\frac{16}{9} - \frac{6}{9} = \frac{10}{9}$

③ $\frac{4}{5} - \frac{2}{5} = \frac{2}{5}$

④ $\frac{5}{3} + \frac{2}{3} = \frac{7}{3}$

⑤ $\frac{9}{2} - \frac{6}{2} = \frac{3}{2}$

⑥ $\frac{7}{8} + \frac{4}{8} = \frac{11}{8}$

⑦ $\frac{13}{4} - \frac{8}{4} = \frac{5}{4}$

⑧ $\frac{3}{7} + \frac{1}{7} = \frac{4}{7}$

2 次の帯分数を、仮分数になおしましょう。

① $2\frac{1}{3} = \frac{2 \times 3 + 1}{3} = \frac{6 + 1}{3} = \frac{7}{3}$

② $3\frac{5}{6} = \frac{3 \times 6 + 5}{6} = \frac{18 + 5}{6} = \frac{23}{6}$

すらすらぷりんと

分数 9
◎ 分数どうしのたし算・ひき算 15

目指せ80点！　てん

名まえ

1 次の計算をしましょう。(各10点)

① $\frac{14}{9} - \frac{12}{9} = \frac{2}{9}$

② $\frac{7}{2} - \frac{4}{2} = \frac{3}{2}$

③ $\frac{5}{8} + \frac{4}{8} = \frac{9}{8}$

④ $\frac{8}{9} + \frac{2}{9} = \frac{10}{9}$

⑤ $\frac{6}{7} - \frac{5}{7} = \frac{1}{7}$

⑥ $\frac{13}{6} - \frac{6}{6} = \frac{7}{6}$

⑦ $\frac{5}{4} + \frac{2}{4} = \frac{7}{4}$

⑧ $\frac{3}{5} + \frac{8}{5} = \frac{11}{5}$

2 次の帯分数を、仮分数になおしましょう。(各10点)

① $3\frac{3}{4} = \frac{3 \times 4 + 3}{4} = \frac{12+3}{4} = \frac{15}{4}$

② $2\frac{5}{6} = \frac{2 \times 6 + 5}{6} = \frac{12+5}{6} = \frac{17}{6}$

すらすらぷりんと

分数 9
◎ 分数どうしのたし算・ひき算 16

目指せ80点！　てん

名まえ

1 次の計算をしましょう。(各10点)

① $\frac{10}{3} - \frac{8}{3} = \frac{2}{3}$

② $\frac{3}{8} + \frac{2}{8} = \frac{5}{8}$

③ $\frac{6}{2} - \frac{3}{2} = \frac{3}{2}$

④ $\frac{2}{5} + \frac{7}{5} = \frac{9}{5}$

⑤ $\frac{4}{9} + \frac{1}{9} = \frac{5}{9}$

⑥ $\frac{15}{7} - \frac{9}{7} = \frac{6}{7}$

⑦ $\frac{5}{6} + \frac{8}{6} = \frac{13}{6}$

⑧ $\frac{9}{4} - \frac{6}{4} = \frac{3}{4}$

2 次の帯分数を、仮分数になおしましょう。(各10点)

① $2\frac{4}{9} = \frac{2 \times 9 + 4}{9} = \frac{18 + 4}{9} = \frac{22}{9}$

② $1\frac{6}{7} = \frac{1 \times 7 + 6}{7} = \frac{7 + 6}{7} = \frac{13}{7}$

すらすらぷりんと