小数のわり算 18

◎ あまりのあるわり算
（商が整数）

1

日にち：　　月　　日

名まえ

・ 商は一の位まで求めて、あまりも出しましょう。
（うすい文字は、しっかりなぞりましょう）

① 4.9 ÷ 2.3

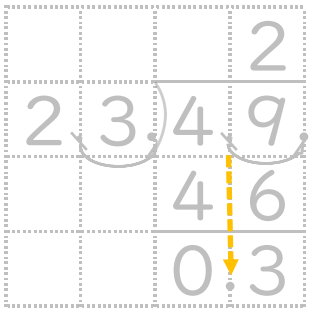

② 17.6 ÷ 9.6



③ 82.5 ÷ 2.3

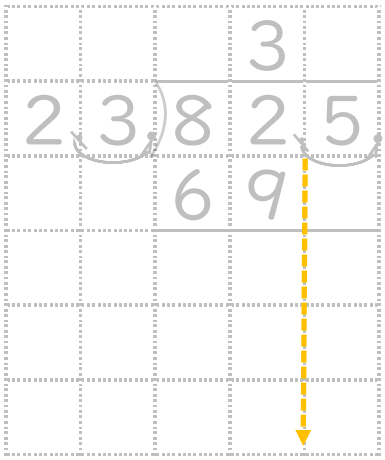

④ 83.7 ÷ 3.9



⑤ 7.1 ÷ 3.3



⑥ 9.3 ÷ 2.9



① 例題

すらすらぷりんと

小数のわり算 18

◎ あまりのあるわり算
（商が整数）

1

日にち：　　月　　日

名まえ

・ 商は一の位まで求めて、あまりも出しましょう。
（うすい文字は、しっかりなぞりましょう）

① 4.9 ÷ 2.3

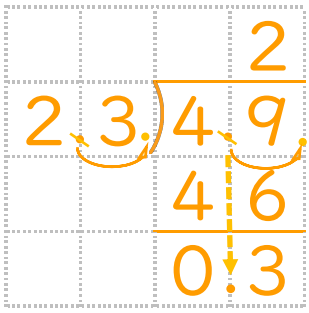

② 17.6 ÷ 9.6

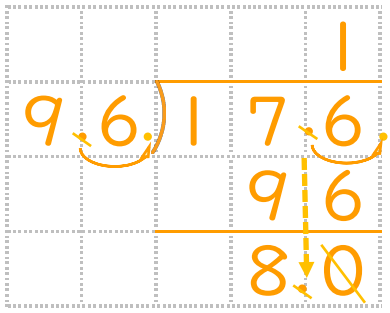

③ 82.5 ÷ 2.3



④ 83.7 ÷ 3.9

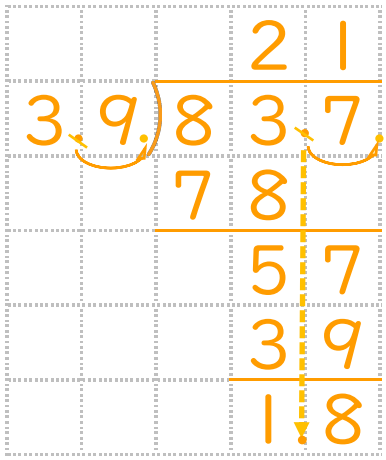

⑤ 7.1 ÷ 3.3



⑥ 9.3 ÷ 2.9

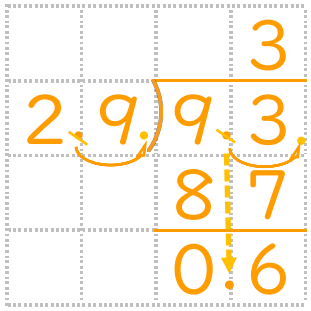

① 例題 答え

すらすらぷりんと