単位量あたりの大きさ 13

◎ 分速と秒速を変かんする

1

日にち：　　月　　日

名まえ

1 はるとさんは12分間で1080m歩きます。次の問いに答えましょう。
(うすい字はなぞりましょう。)

① はるとさんは分速何mですか。

＜筆算＞

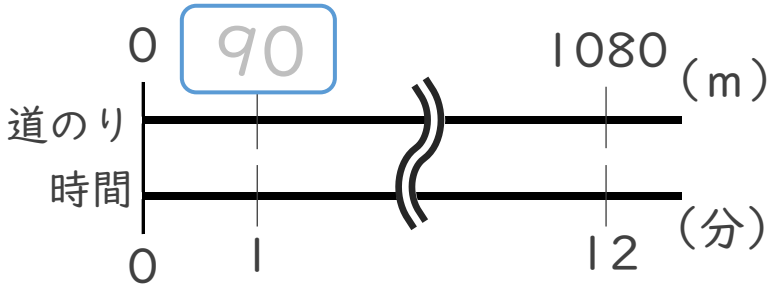

式：1080÷12 ＝

答え：分速　　m

② はるとさんは秒速何mですか。

＜筆算＞

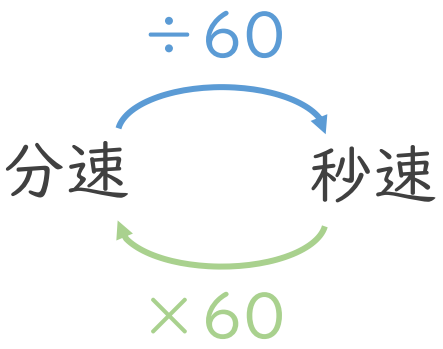

式：90÷60 ＝ 1.5

答え：秒速 1.5 m

① 例題

すらすらぷりんと

単位量あたりの大きさ 13 1

◎ 分速と秒速を変かんする

日にち：　　月　　日

名まえ

1 はるとさんは12分間で1080m歩きます。次の問いに答えましょう。
(うすい字はなぞりましょう。)

① はるとさんは分速何mですか。

＜筆算＞

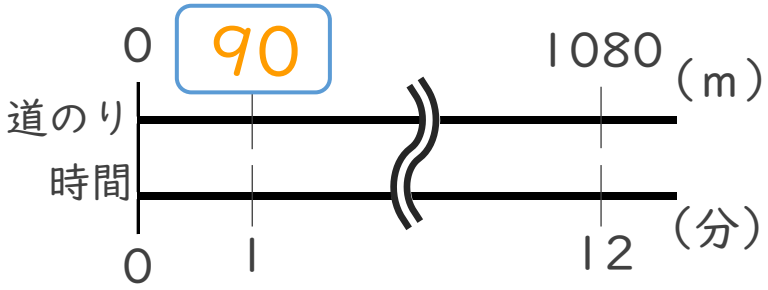

式：1080÷12 ＝ 90

答え：分速 90 m

② はるとさんは秒速何mですか。

＜筆算＞

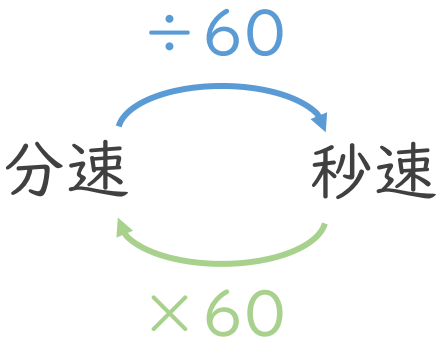

式：90÷60 ＝ 1.5

答え：秒速 1.5 m

① 例題 答え

すらすらぷりんと