角柱と円柱 3

◎ 角柱の特ちょう

1

日にち：　　月　　日

名まえ

・次の問いに答えましょう。（うすい字はなぞりましょう。）

1 それぞれの角柱の名前を、□ に書きましょう。

①

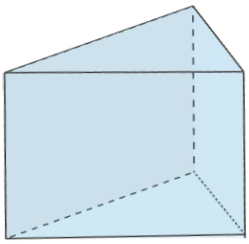

三角柱

②

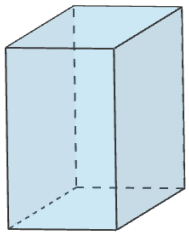

③

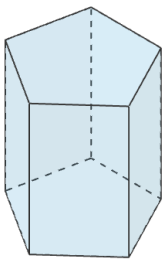

五角柱

2 次の文の □ にあてはまる言葉を書きましょう。

角柱で、上下に向かい合った２つの面を 底面 といい、大きさも形も 同じ です。

3 角柱の側面、頂点、辺について下の表にまとめましょう。

	三角柱	四角柱	五角柱
側面の数	3	4	
頂点の数	6		
辺の数	9		

① 例題

すらすらぷりんと

角柱と円柱 3

◎ 角柱の特ちょう

1

日にち：　　月　　日

名まえ

・次の問いに答えましょう。（うすい字はなぞりましょう。）

1 それぞれの角柱の名前を、□ に書きましょう。

①

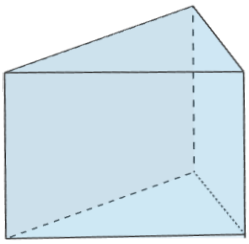

三角柱

②

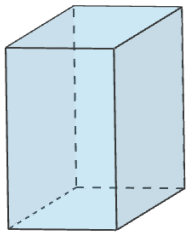

四角柱

③

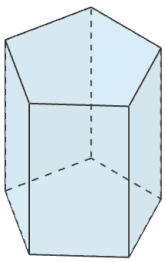

五角柱

2 次の文の □ にあてはまる言葉を書きましょう。

角柱で、上下に向かい合った２つの面を 底面 といい、大きさも形も 同じ です。

3 角柱の側面、頂点、辺について下の表にまとめましょう。

	三角柱	四角柱	五角柱
側面の数	3	4	5
頂点の数	6	8	10
辺の数	9	12	15

① 例題 答え

すらすらぷりんと