単位量あたりの大きさ 16

◎道のりを求めて単位を変える

1

日にち：　　月　　日

名まえ

・次の問いに答えなさい。(うすい字はなぞりましょう。)

① 秒速500mで飛ぶジェット機は、15秒で何km進みますか。

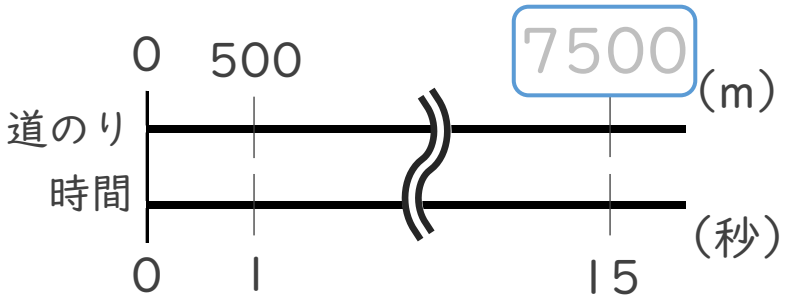

＜筆算＞

式：500×15 ＝ 7500

7500÷1000 ＝ 7.5

答え：　7.5　km

② 分速120mで歩く人は、25分で何km進みますか。

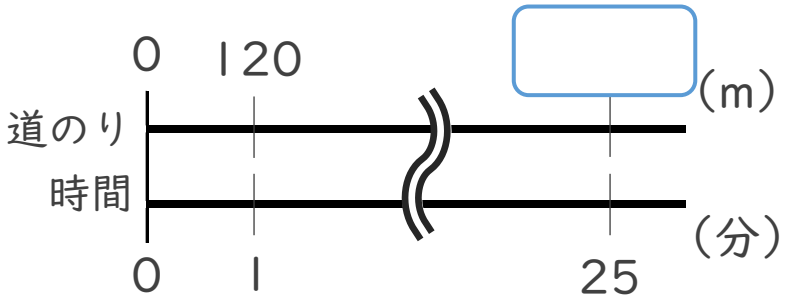

＜筆算＞

式：120×25 ＝

答え：

① 例題

すらすらぷりんと

単位量あたりの大きさ 16

◎道のりを求めて単位を変える

1

日にち：　　月　　日

名まえ

・次の問いに答えなさい。(うすい字はなぞりましょう。)

① 秒速500mで飛ぶジェット機は、15秒で何km進みますか。

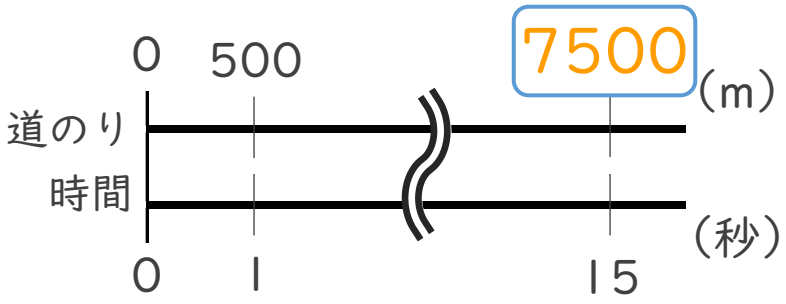

＜筆算＞

式：500×15 ＝ 7500

7500÷1000 ＝ 7.5

答え：　7.5　km

② 分速120mで歩く人は、25分で何km進みますか。

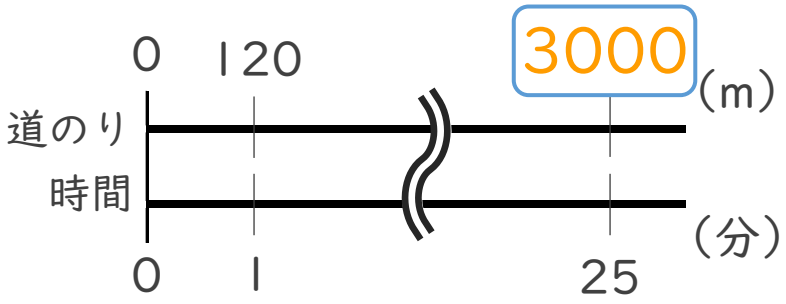

＜筆算＞

式：120×25 ＝ 3000

3000÷1000 ＝ 3

答え：　3　km

① 例題 答え

すらすらぷりんと