単位量あたりの大きさ３

◎ １あたりの量を求める

日にち：　　月　　日

名まえ

・次の問いに答えなさい。(うすい字はなぞりましょう。)

１　５ｍで1000円のリボンがあります。１ｍのねだんはいくらでしょう。

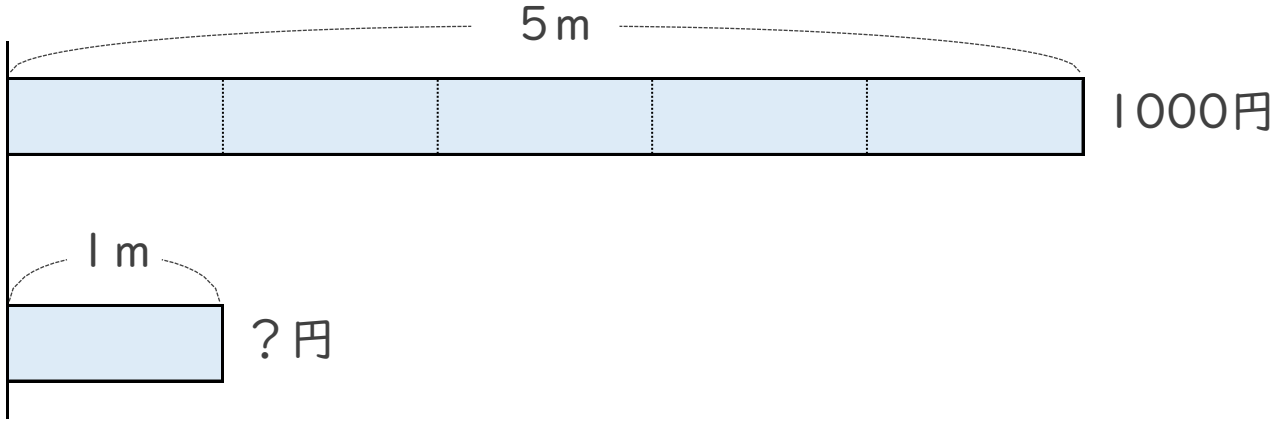

式：1000÷5　＝200

答え：　200　円

２　２ｍで500円の赤いリボンと、３ｍで900円の青いリボンがあります。１ｍあたりのねだんを比べると、どちらが安いでしょう。

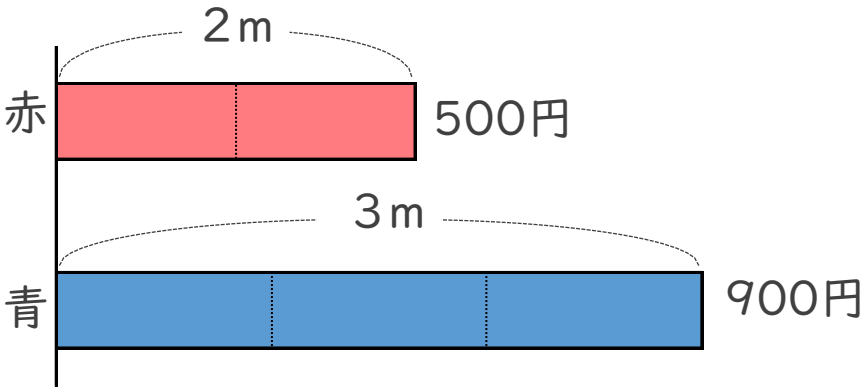

赤の式：500÷2　＝

青の式：900÷3　＝

答え：

すらすらぷりんと

単位量あたりの大きさ３ 1

◎ １あたりの量を求める

日にち：　　月　　日

名まえ

・次の問いに答えなさい。（うすい字はなぞりましょう。）

1　５ｍで1000円のリボンがあります。１ｍのねだんはいくらでしょう。

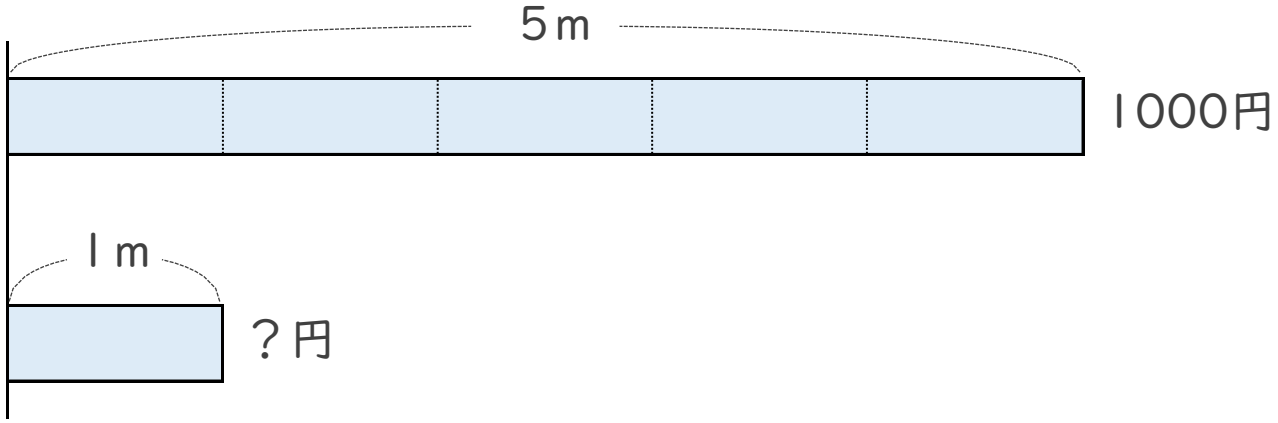

式：1000÷5　＝200

答え：　200　円

2　２ｍで500円の赤いリボンと、３ｍで900円の青いリボンがあります。１ｍあたりのねだんを比べると、どちらが安いでしょう。

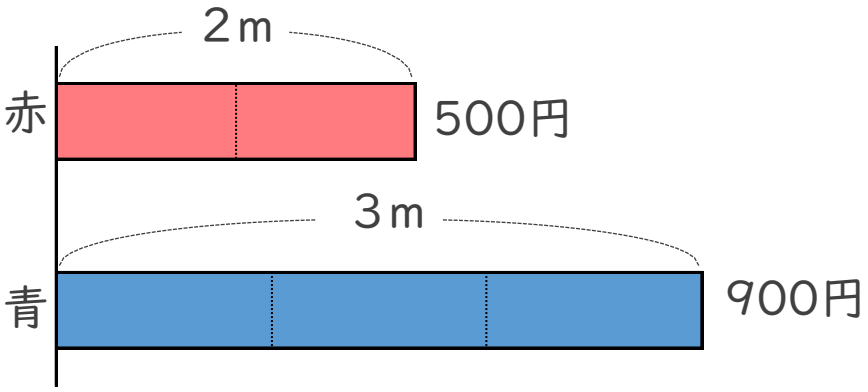

赤の式：500÷2　＝250

青の式：900÷3　＝300

答え：赤いリボン

すらすらぷりんと