単位量あたりの大きさ 10 1

◎ 1mあたりにかかる時間

日にち：　　月　　日

名まえ

・えみさんと弟の短きょり走の記録は、下の表のとおりです。1mあたり何秒かかりますか。それぞれ求めましょう。(うすい字はなぞりましょう。)

	時間(秒)	道のり(m)
弟	16	80
えみ	18	100

筆算

弟

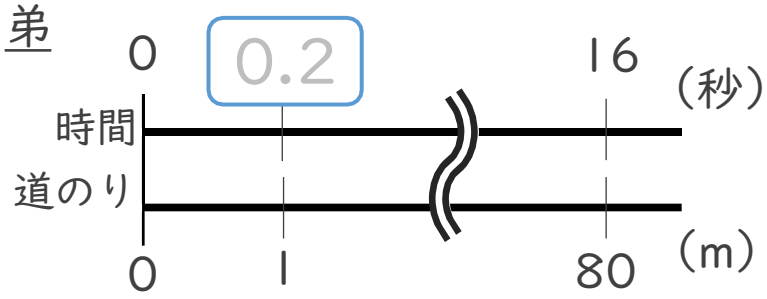

式：16÷80＝0.2

弟：　0.2　秒

えみ

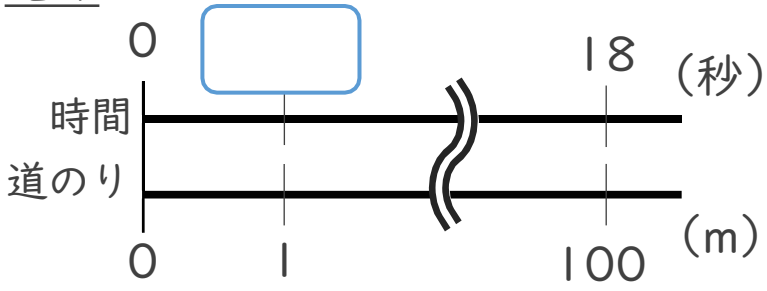

式：18÷100＝

えみ：

① 例題

すらすらぷりんと

単位量あたりの大きさ 10 1

◎ 1mあたりにかかる時間

日にち：　　月　　日

名まえ

・えみさんと弟の短きょり走の記録は、下の表のとおりです。1mあたり何秒かかりますか。それぞれ求めましょう。(うすい字はなぞりましょう。)

	時間(秒)	道のり(m)
弟	16	80
えみ	18	100

筆算

弟

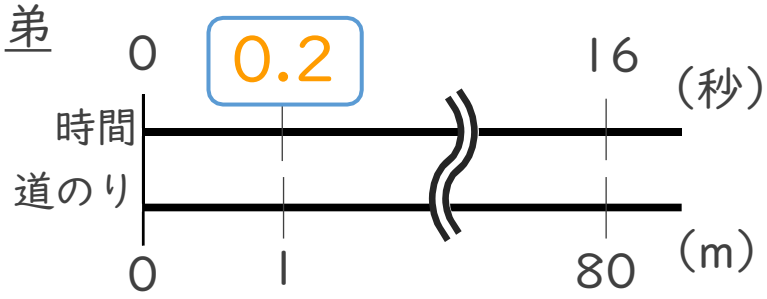

式：16÷80＝0.2

弟：　0.2　秒

えみ

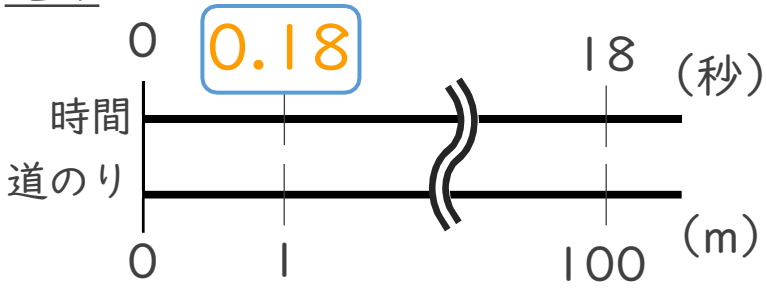

式：18÷100＝0.18

えみ：　0.18　秒

すらすらぷりんと