# 正多角形と円周の長さ10

◎ 90°のおうぎ形の周りの長さ

11

日にち：　　月　　日

名まえ

・次の図の周りの長さを求めましょう。

①

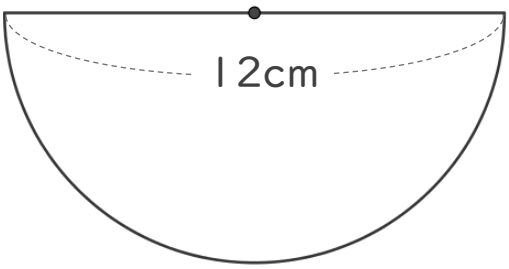


式：

答え：

②

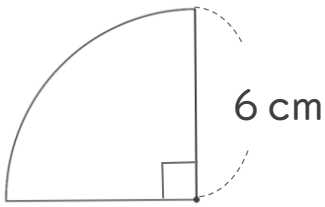


式：

答え：



すらすらぷりんと

# 正多角形と円周の長さ10

◎ 90°のおうぎ形の周りの長さ

11

日にち：　　月　　日

名まえ

・次の図の周りの長さを求めましょう。

①

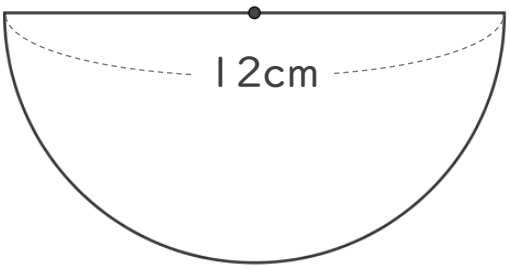


式：12 × 3.14 ＝ 37.68

37.68 ÷ 2 ＝ 18.84

18.84 ＋ 12 ＝ 30.84

答え：30.84 cm

②

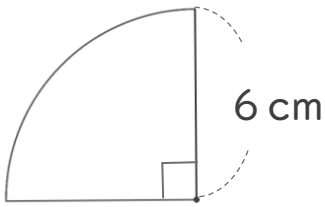


円の直径は 12 cm

式：12 × 3.14 ＝ 37.68

37.68 ÷ 4 ＝ 9.42

9.42 ＋ 12 ＝ 21.42

答え：21.42 cm



すらすらぷりんと