

単位量あたりの大きさ３ 12

◎ １あたりの量を求める

日にち：　　月　　日

名まえ

1　８ｍで9600円の布があります。１ｍのねだんはいくらでしょう。

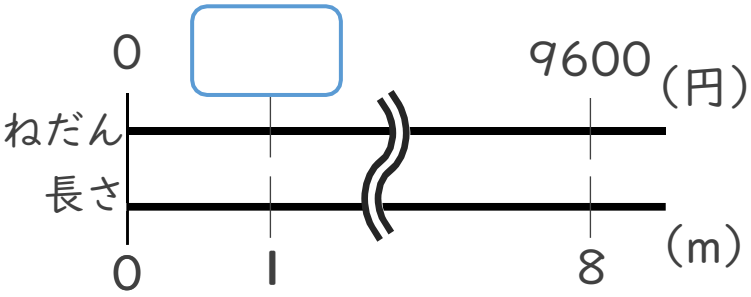

＜筆算＞

式：

答え：

2　７ｍで1470円の赤い布と、6メートルで1140円の青い布があります。
　１ｍあたりのねだんを比べると、どちらが安いでしょう。

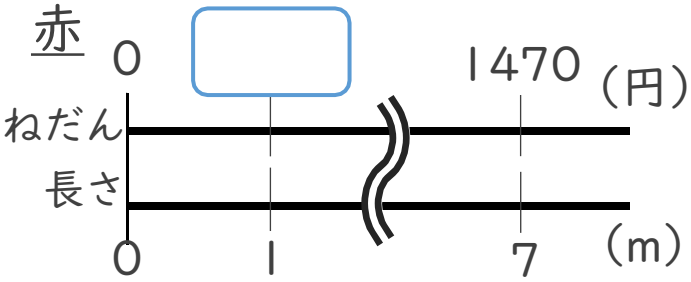

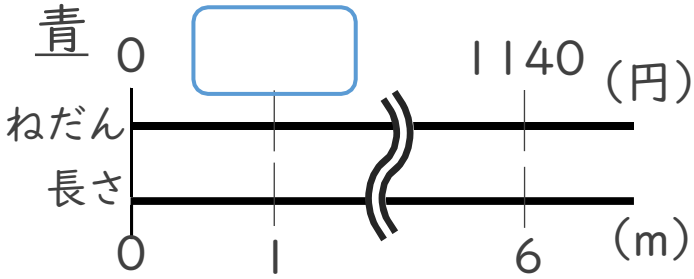

＜筆算＞

赤の式：

青の式：

答え：

すらすらぷりんと



単位量あたりの大きさ３ 12

◎ １あたりの量を求める

日にち：　　月　　日

名まえ

1　８ｍで9600円の布があります。１ｍのねだんはいくらでしょう。

＜筆算＞

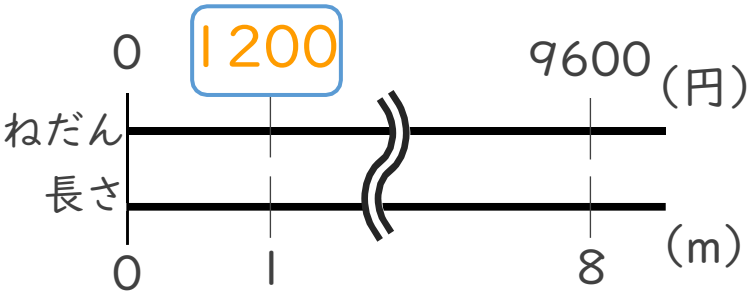

式：9600÷8 ＝ 1200

答え：　1200　円

2　７ｍで1470円の赤い布と、6メートルで1140円の青い布があります。
　１ｍあたりのねだんを比べると、どちらが安いでしょう。

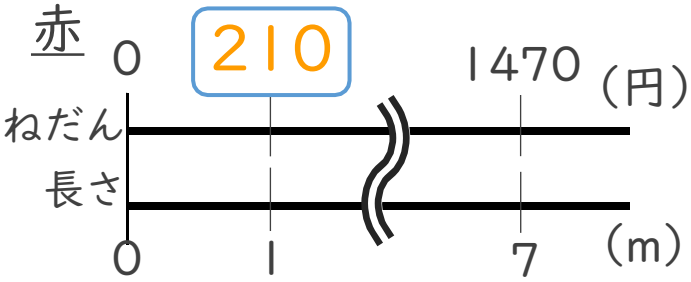

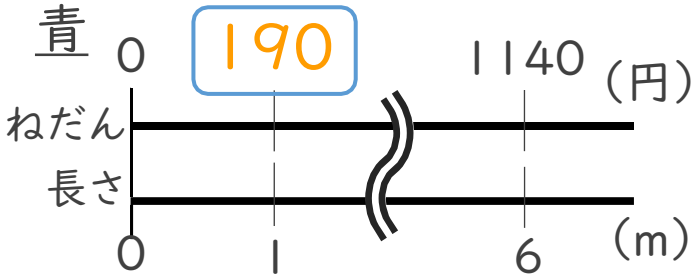

＜筆算＞

赤の式：1470÷7 ＝ 210

青の式：1140÷6 ＝ 190

答え：　青い布

すらすらぷりんと