

単位量あたりの大きさ３ 14

◎ １あたりの量を求める

日にち：　　月　　日

名まえ

1 24Lのガソリンで360km走った車は、１Lのガソリンで何km走ったことになるでしょう。

＜筆算＞

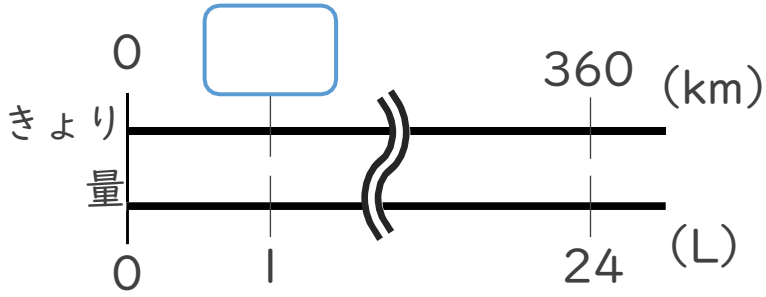

式：

答え：

2 12mで10800円の赤い布と、11メートルで9350円の青い布があります。１mあたりのねだんを比べると、どちらが安いでしょう。

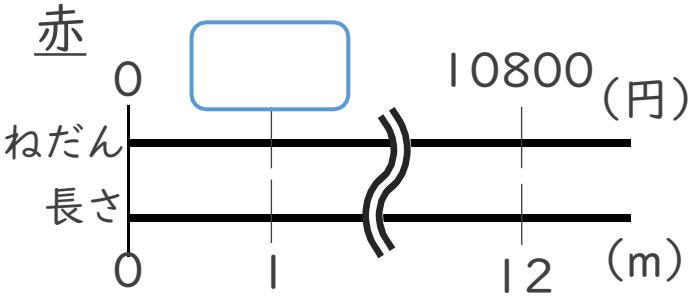

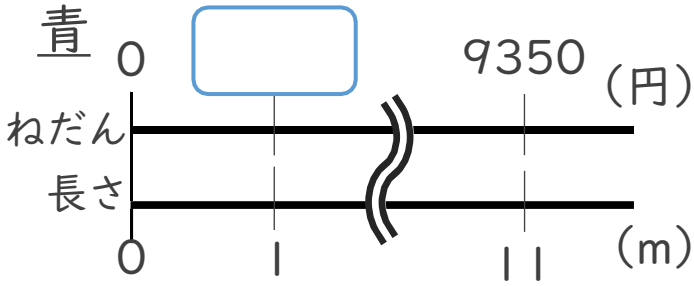

＜筆算＞

赤の式：

青の式：

答え：

すらすらぷりんと



単位量あたりの大きさ３ 14

◎ １あたりの量を求める

日にち：　　月　　日

名まえ

1 24Lのガソリンで360km走った車は、１Lのガソリンで何km走ったことになるでしょう。

＜筆算＞

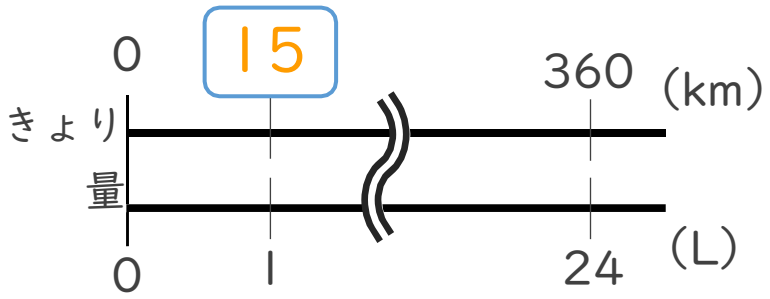

式：360÷24 ＝ 15

答え：15 km

2 12mで10800円の赤い布と、11メートルで9350円の青い布があります。１mあたりのねだんを比べると、どちらが安いでしょう。

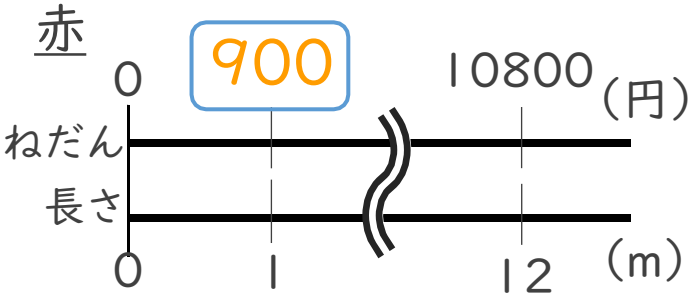

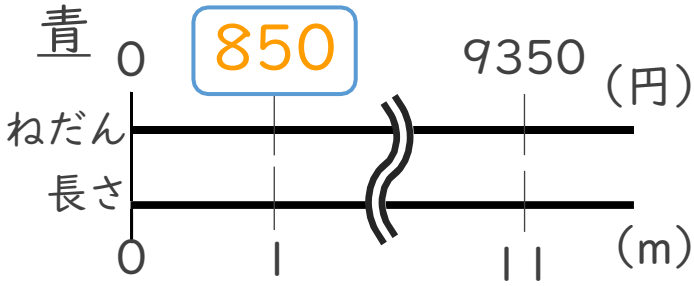

＜筆算＞

赤の式：10800÷８ ＝ 900

青の式：9350÷11 ＝ 850

答え：青い布

すらすらぷりんと