単位量あたりの大きさ３ 16

◎ １あたりの量を求める

目指せ100点！

てん

名まえ

1 11mで3300円のリボンがあります。１mのねだんはいくらでしょう。

＜筆算＞ (50点)

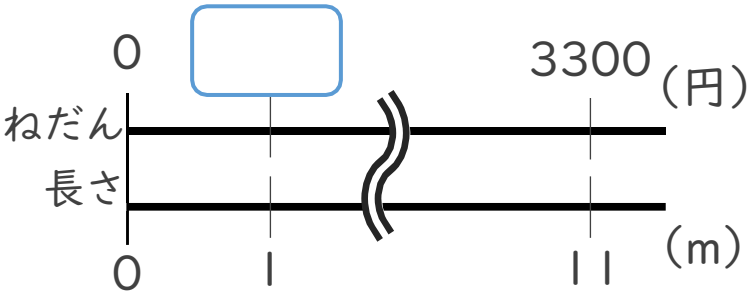

式：

答え：

2 7mで455円の赤いリボンと、8mで480円の青いリボンがあります。
１mあたりのねだんを比べると、どちらが安いでしょう。(50点)

赤

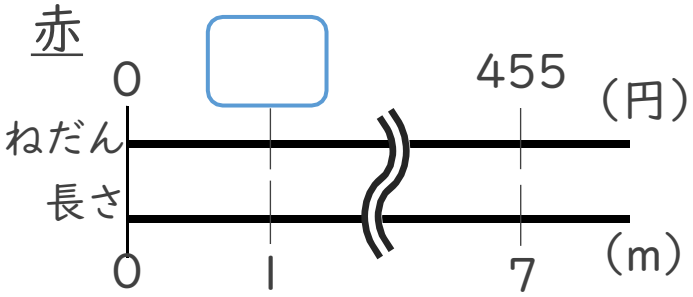

青

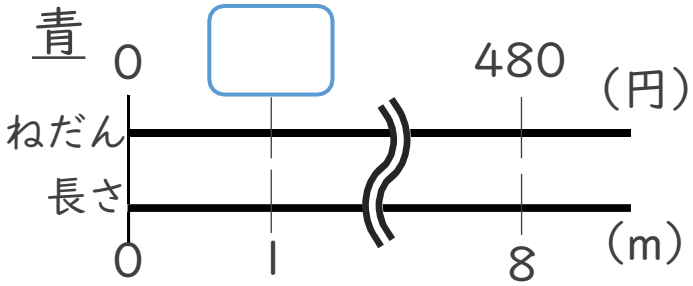

＜筆算＞

赤の式：

青の式：

答え：

すらすらぷりんと

単位量あたりの大きさ３ 16

◎ １あたりの量を求める

目指せ100点！

てん

名まえ

1 11mで3300円のリボンがあります。１mのねだんはいくらでしょう。

＜筆算＞ (50点)

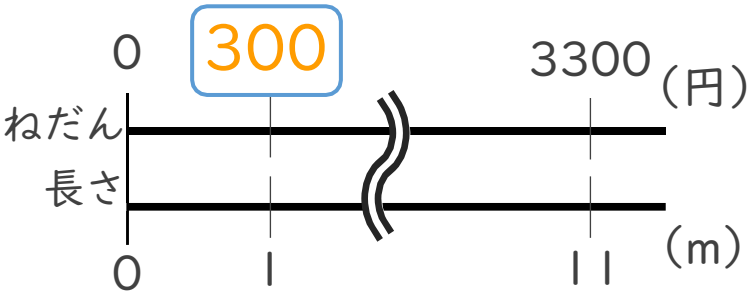

式：3300÷11 ＝ 300

答え： 300 円

2 7mで455円の赤いリボンと、8mで480円の青いリボンがあります。
１mあたりのねだんを比べると、どちらが安いでしょう。(50点)

赤

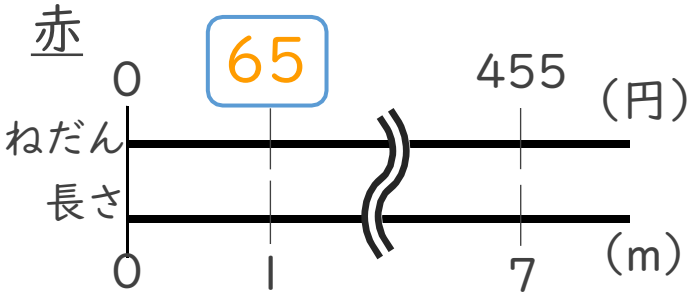

青

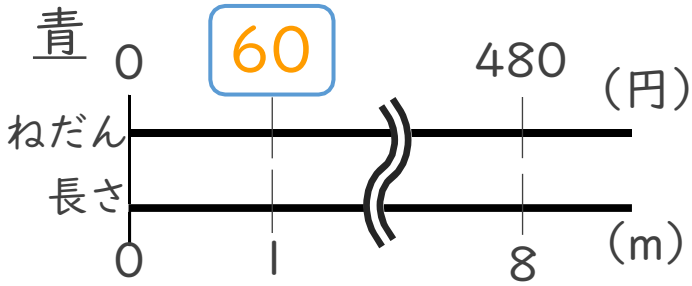

＜筆算＞

赤の式：455÷7 ＝ 65

青の式：480÷8 ＝ 60

答え：青いリボン

すらすらぷりんと