# 割合 1

◎ 何倍になっているかで比べる

2

日にち：　　月　　日

名まえ

・ゆうこさんと たろうさんは、バスケットボールのシュートの練習をしています。次の表を見て問いに答えましょう。

シュートの練習の記録

| | 入った回数（回） | シュートした回数（回） |
|---|---|---|
| ゆうこさん | 6 | 20 |
| たろうさん | 5 | 10 |

① ゆうこさんの入った回数は、シュートした回数の何倍ですか。

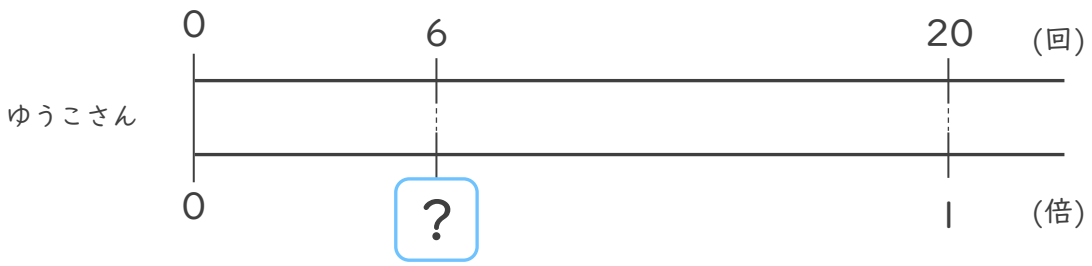


式：6 ÷ 20 ＝

答え：

② たろうさんの入った回数は、シュートした回数の何倍ですか。

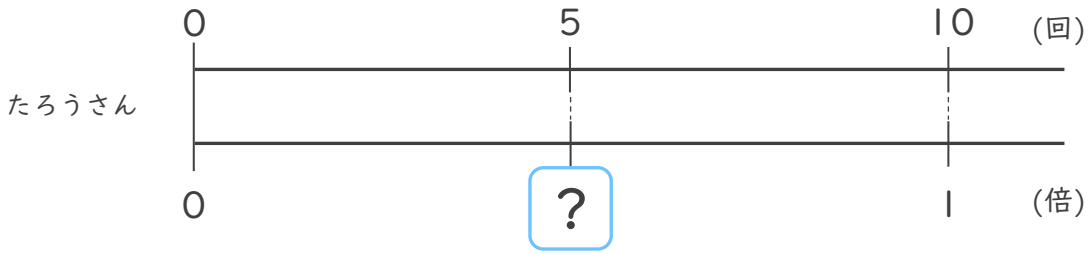


式：

答え：

③ ゆうこさんと たろうさんでは、どちらがよく成功しましたか？

答え：



すらすらぷりんと

# 割合 1

◎ 何倍になっているかで比べる

2

日にち：　　月　　日

名まえ

・ゆうこさんと たろうさんは、バスケットボールのシュートの練習をしています。次の表を見て問いに答えましょう。

シュートの練習の記録

| | 入った回数（回） | シュートした回数（回） |
|---|---|---|
| ゆうこさん | 6 | 20 |
| たろうさん | 5 | 10 |

① ゆうこさんの入った回数は、シュートした回数の何倍ですか。

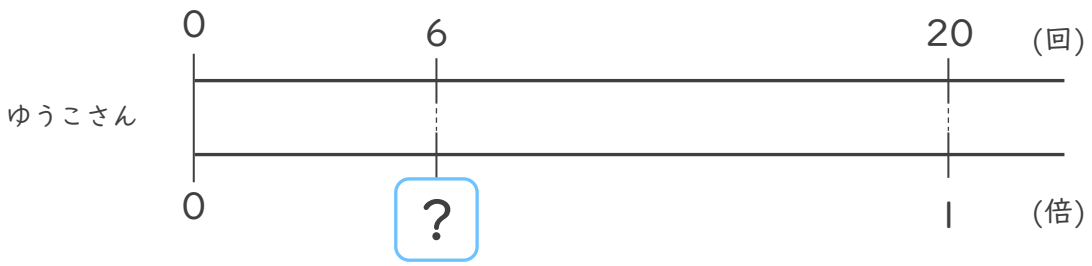


式：6 ÷ 20 ＝ 0.3

答え：　0.3倍

② たろうさんの入った回数は、シュートした回数の何倍ですか。

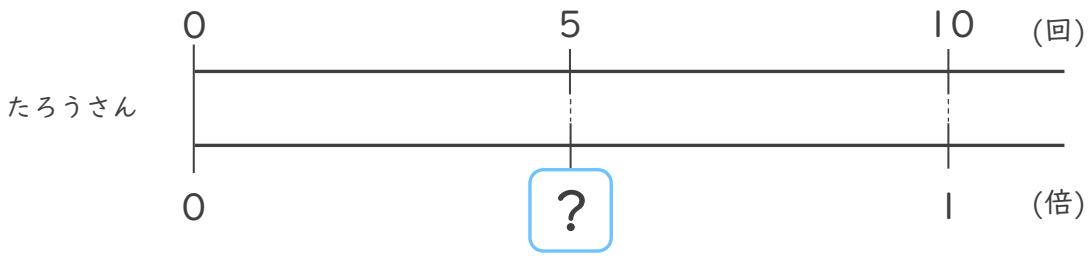


式：5 ÷ 10＝ 0.5

答え：　0.5倍

③ ゆうこさんと たろうさんでは、どちらがよく成功しましたか？

答え：　たろうさん



すらすらぷりんと