単位量あたりの大きさ３ 2

◎ １あたりの量を求める

日にち：　　月　　日

名まえ

・次の問いに答えなさい。(うすい字はなぞりましょう。)

1　７ｍで2100円のリボンがあります。１ｍのねだんはいくらでしょう。

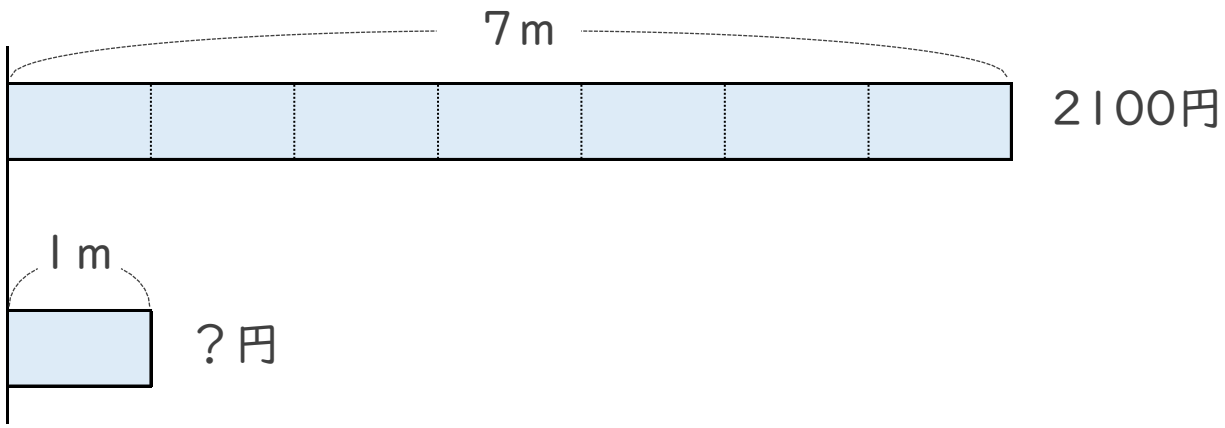

式：2100÷7 ＝

答え：

2　３ｍで120円の赤いリボンと、４メートルで200円の青いリボンがあります。１ｍあたりのねだんを比べると、どちらが安いでしょう。

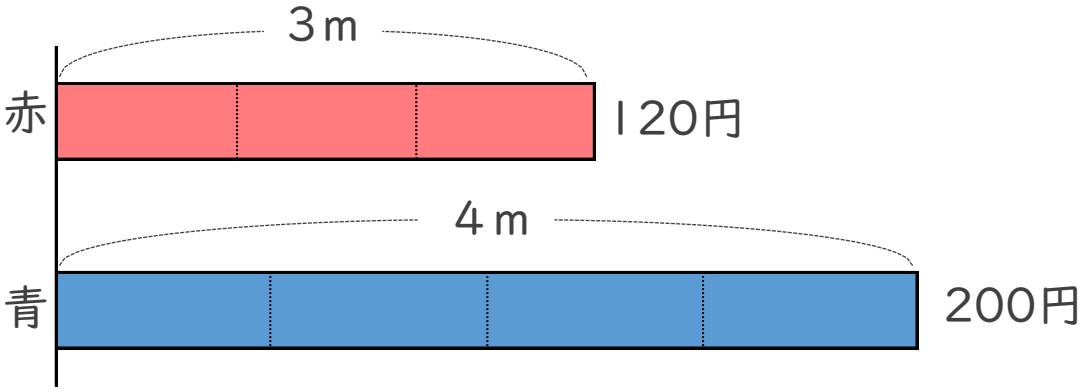

赤の式：120÷3 ＝

青の式：200÷4 ＝

答え：

すらすらぷりんと

単位量あたりの大きさ３ 2

◎ １あたりの量を求める

日にち：　　月　　日

名まえ

・次の問いに答えなさい。(うすい字はなぞりましょう。)

1　７ｍで2100円のリボンがあります。１ｍのねだんはいくらでしょう。

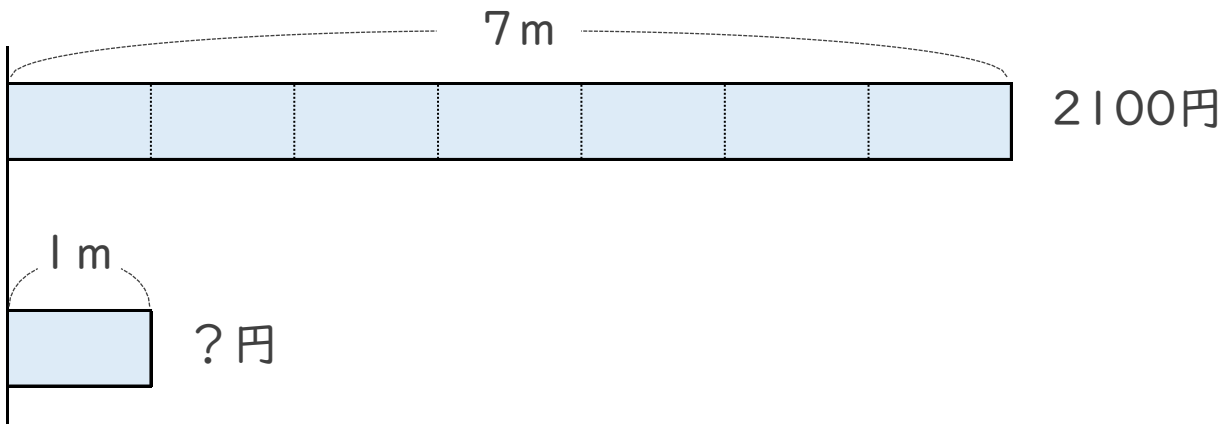

式：2100÷7 ＝ 300

答え：　300　円

2　３ｍで120円の赤いリボンと、４メートルで200円の青いリボンがあります。１ｍあたりのねだんを比べると、どちらが安いでしょう。

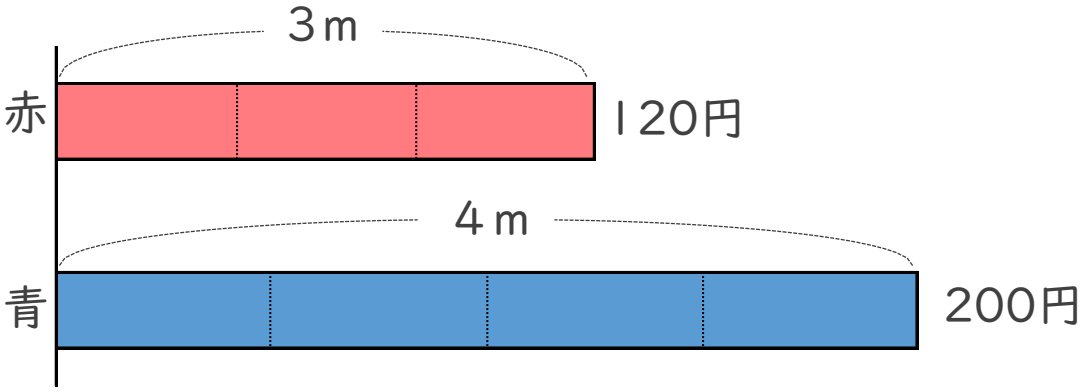

赤の式：120÷３ ＝ 40

青の式：200÷４ ＝ 50

答え：赤いリボン

すらすらぷりんと