単位量あたりの大きさ 17　3

◎ 時間の単位を変えて道のりを求める

日にち：　　月　　日

名まえ

・次の問いに答えなさい。（うすい字はなぞりましょう。）

① 秒速３kmで飛ぶロケットが11分40秒飛ぶと、何km進みますか。

＜筆算＞

11分40秒 ＝ 700 秒

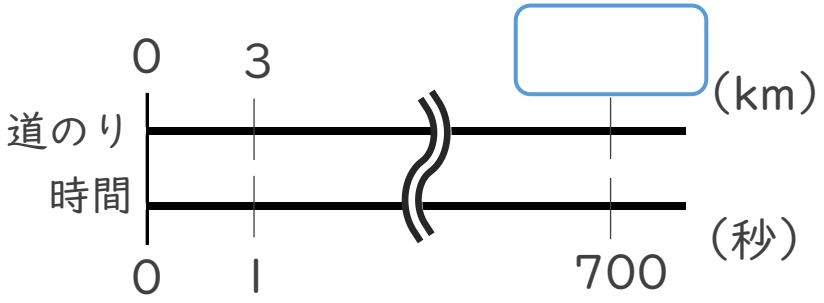

式：

答え：

② 分速85mで２時間15分歩くと、何m進みますか。

＜筆算＞

２時間15分＝ □ 分

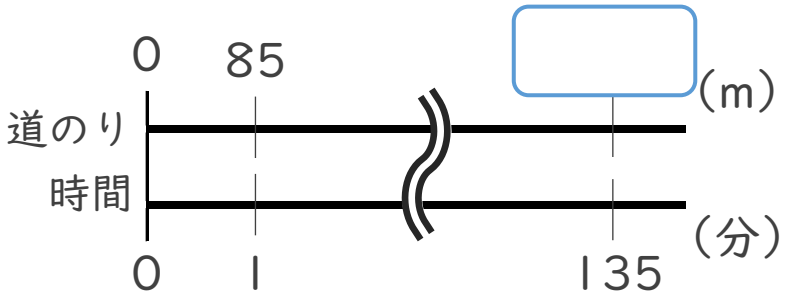

式：

答え：

すらすらぷりんと

単位量あたりの大きさ 17　3

◎ 時間の単位を変えて道のりを求める

日にち：　　月　　日

名まえ

・次の問いに答えなさい。（うすい字はなぞりましょう。）

① 秒速３kmで飛ぶロケットが11分40秒飛ぶと、何km進みますか。

＜筆算＞

11分40秒 ＝ 700 秒

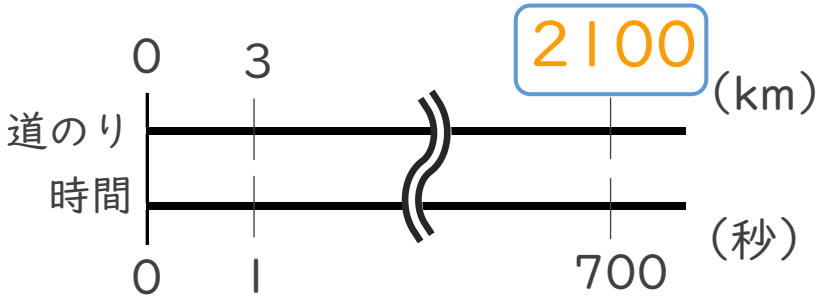

式：3 × 700 ＝ 2100

答え：2100 km

② 分速85mで２時間15分歩くと、何m進みますか。

＜筆算＞

２時間15分＝ 135 分

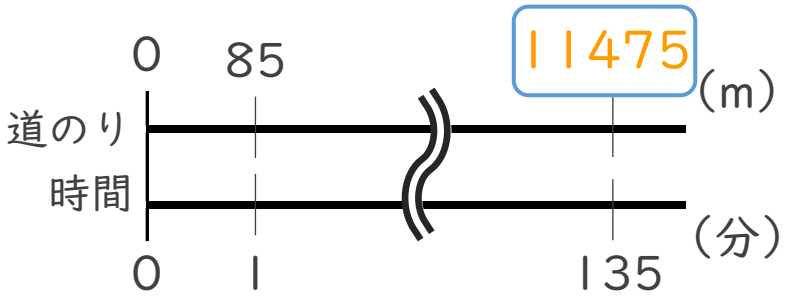

式：85 × 135 ＝ 11475

答え：11475m

③ 確認　答え

すらすらぷりんと