

単位量あたりの大きさ II 3

◎ 速さを求める

日にち：　　月　　日

名まえ

1 次の（　　）に当てはまる言葉を書きましょう。
（うすい字はなぞりましょう。）

1秒間あたりに進む道のりで表した速さを
（秒速）といいます。

2 次の問いに答えなさい。（うすい字はなぞりましょう。）

① 10秒で79kmすすむロケットは、1秒あたりに何km飛びますか。

＜筆算＞

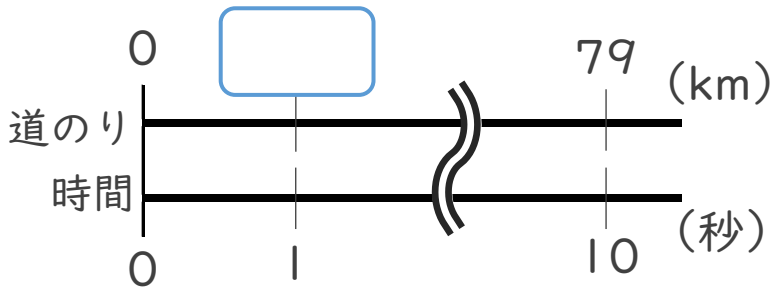

式：

答え：

② このロケットの速さは秒速何kmでしょう。

答え：秒速　　km

③ 確認

すらすらぷりんと



単位量あたりの大きさ 11 3

◎ 速さを求める

日にち：　　月　　日

名まえ

1 次の（　　）に当てはまる言葉を書きましょう。
（うすい字はなぞりましょう。）

1秒間あたりに進む道のりで表した速さを（秒速）といいます。

2 次の問いに答えなさい。（うすい字はなぞりましょう。）

① 10秒で79kmすすむロケットは、1秒あたりに何km飛びますか。

＜筆算＞

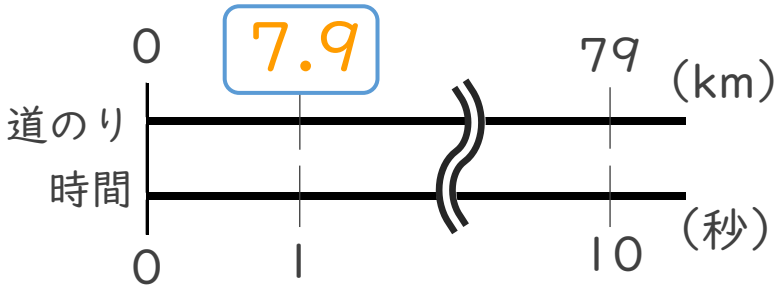

式：79÷10＝7.9

答え：　7.9　km

② このロケットの速さは秒速何kmでしょう。

答え：秒速 7.9 km

③ 確認 答え

すらすらぷりんと