単位量あたりの大きさ16 3

◎道のりを求めて単位を変える

日にち：　　月　　日

名まえ

・次の問いに答えなさい。(うすい字はなぞりましょう。)

① 時速500mで走るおもちゃの電車は、３時間で何km進みますか。

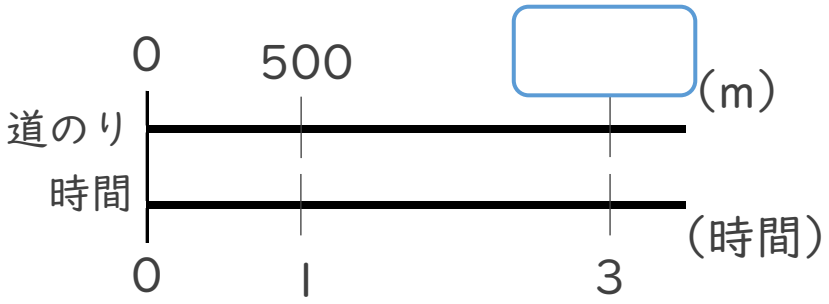

＜筆算＞

式：500×３　＝

答え：

② 秒速23mで走るダチョウは、50秒で何km進みますか。

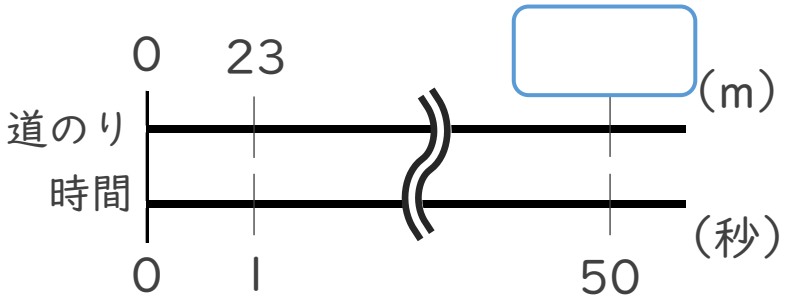

＜筆算＞

式：

答え：

③ 確認

すらすらぷりんと

単位量あたりの大きさ16 3

◎道のりを求めて単位を変える

日にち：　　月　　日

名まえ

・次の問いに答えなさい。(うすい字はなぞりましょう。)

① 時速500mで走るおもちゃの電車は、３時間で何km進みますか。

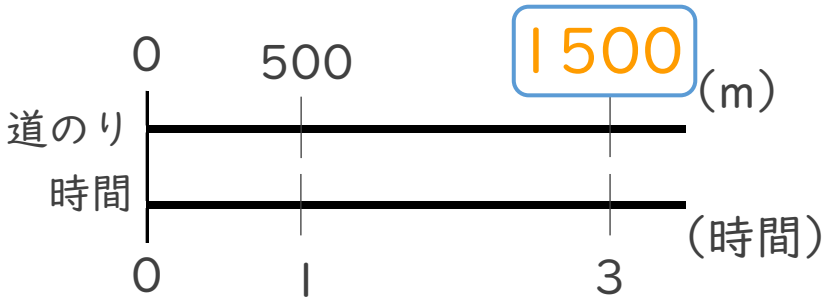

＜筆算＞

式：500×３ ＝ 1500

1500÷1000 ＝ 1.5

答え：　1.5 km

② 秒速23mで走るダチョウは、50秒で何km進みますか。

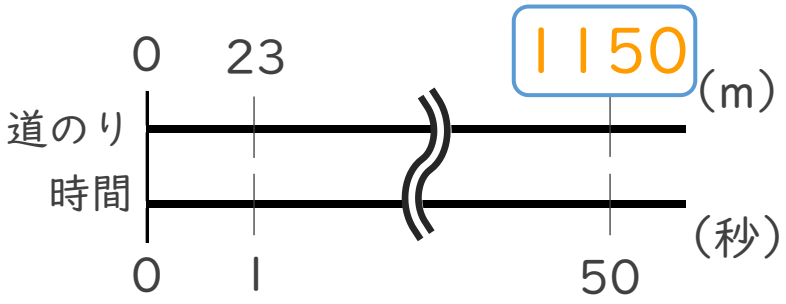

＜筆算＞

式：23×50 ＝ 1150

1150÷1000 ＝ 1.15

答え：1.15 km

すらすらぷりんと