単位量あたりの大きさ 10 3

◎ 1mあたりにかかる時間

日にち：　　月　　日

名まえ

・ナギさんと妹の短きょり走の記録は、下の表のとおりです。

1mあたり何秒かかりますか。それぞれ求めましょう。

	時間(秒)	道のり(m)
妹	18	60
ナギ	33	100

筆算

妹

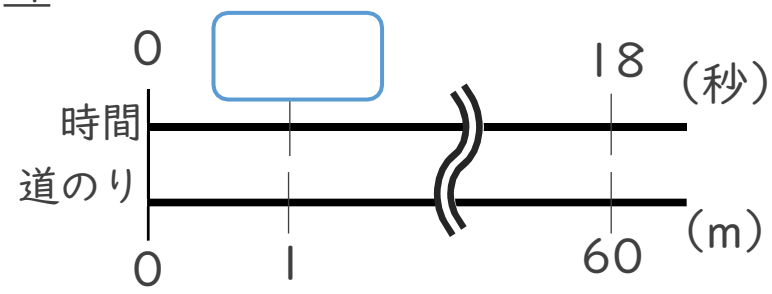

式：

妹：

ナギ

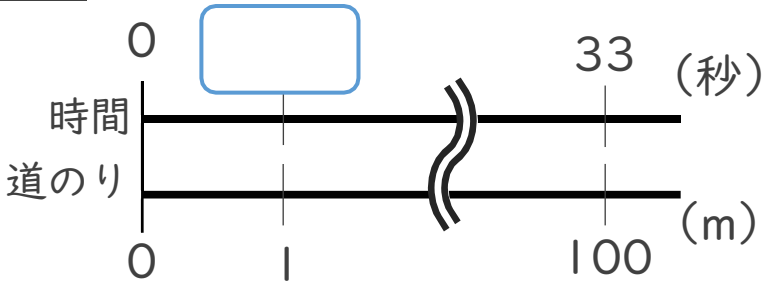

式：

ナギ：

すらすらぷりんと

単位量あたりの大きさ 10 3

◎ 1mあたりにかかる時間

日にち：　　月　　日

名まえ

・ナギさんと妹の短きょり走の記録は、下の表のとおりです。
1mあたり何秒かかりますか。それぞれ求めましょう。

	時間(秒)	道のり(m)
妹	18	60
ナギ	33	100

筆算

妹

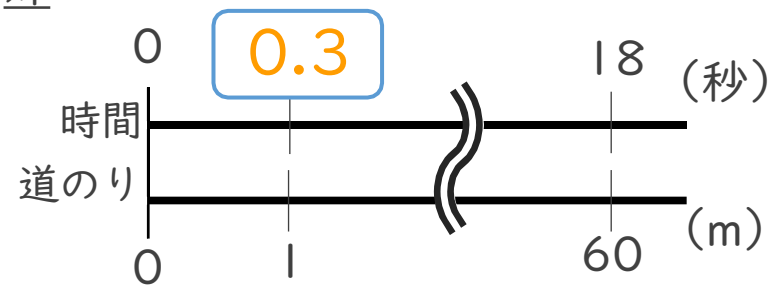

式：18÷60＝0.3

妹：　0.3　秒

ナギ

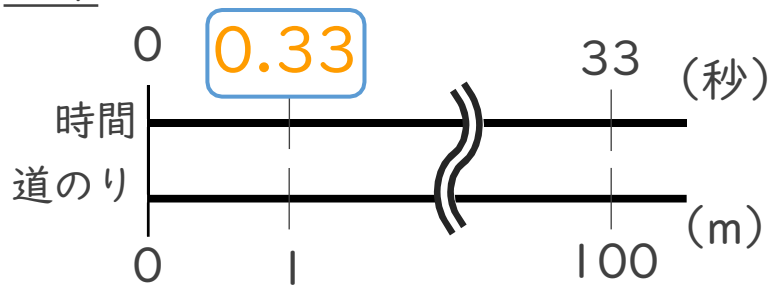

式：33÷100＝0.33

ナギ：　0.33　秒

すらすらぷりんと