角柱と円柱 3

◎ 角柱の特ちょう

4

日にち：　　月　　日

名まえ

・次の問いに答えましょう。

1 それぞれの角柱の名前を、□に書きましょう。

①

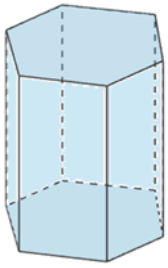

②

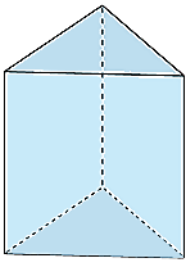

③

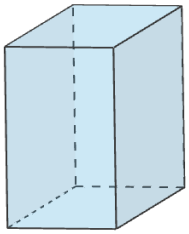

2 次の文の□にあてはまる言葉を書きましょう。

角柱で、上下に向かい合った２つの面を□といい、大きさも形も□です。

3 角柱の側面、頂点、辺について下の表にまとめましょう。

	三角柱	四角柱	五角柱	六角柱
側面の数				
頂点の数				
辺の数				

すらすらぷりんと

角柱と円柱 3

◎ 角柱の特ちょう

4

日にち：　　月　　日

名まえ

・次の問いに答えましょう。

1 それぞれの角柱の名前を、□に書きましょう。

①

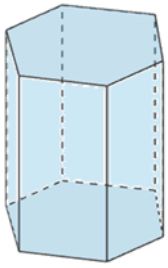

六角柱

②

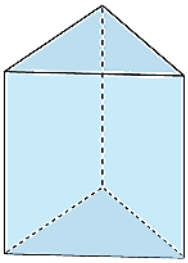

三角柱

③

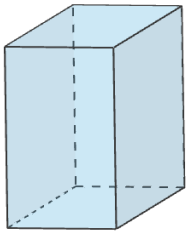

四角柱

2 次の文の□にあてはまる言葉を書きましょう。

角柱で、上下に向かい合った２つの面を 底面 といい、大きさも形も 同じ です。

3 角柱の側面、頂点、辺について下の表にまとめましょう。

	三角柱	四角柱	五角柱	六角柱
側面の数	3	4	5	6
頂点の数	6	8	10	12
辺の数	9	12	15	18

すらすらぷりんと