単位量あたりの大きさ16 4

◎道のりを求めて単位を変える

日にち：　　月　　日

名まえ

・次の問いに答えなさい。(うすい字はなぞりましょう。)

① 分速1200mで走る自動車は、22分で何km進みますか。

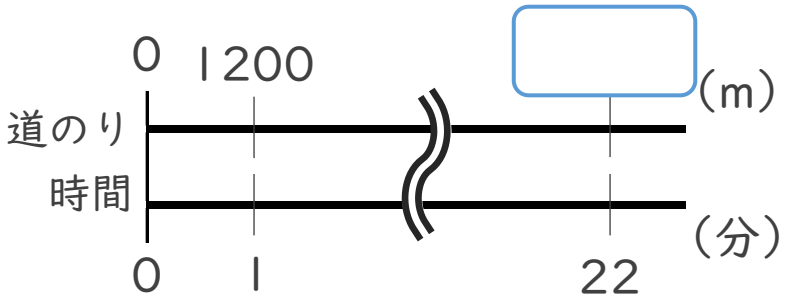

＜筆算＞

式：1200×22 ＝

答え：

② 秒速83mで飛ぶハヤブサは、50秒で何km進みますか。

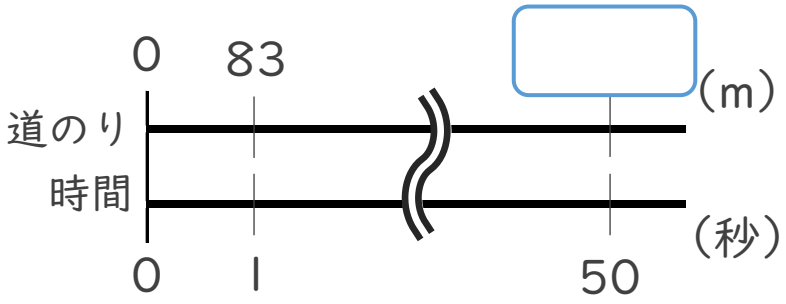

＜筆算＞

式：

答え：

すらすらぷりんと

単位量あたりの大きさ16 4

◎道のりを求めて単位を変える

日にち：　　月　　日

名まえ

・次の問いに答えなさい。(うすい字はなぞりましょう。)

① 分速1200mで走る自動車は、22分で何km進みますか。

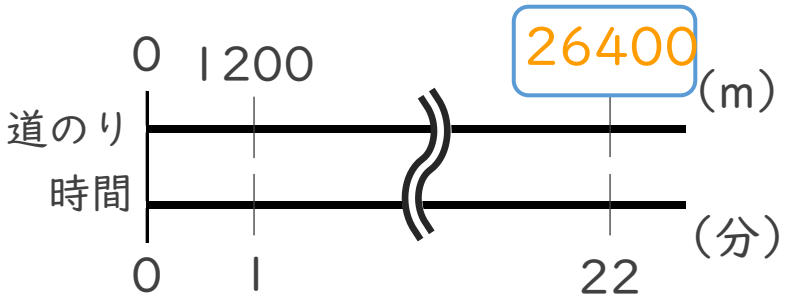

＜筆算＞

式：1200×22 ＝ 26400

26400÷1000 ＝ 26.4

答え：26.4 km

② 秒速83mで飛ぶハヤブサは、50秒で何km進みますか。

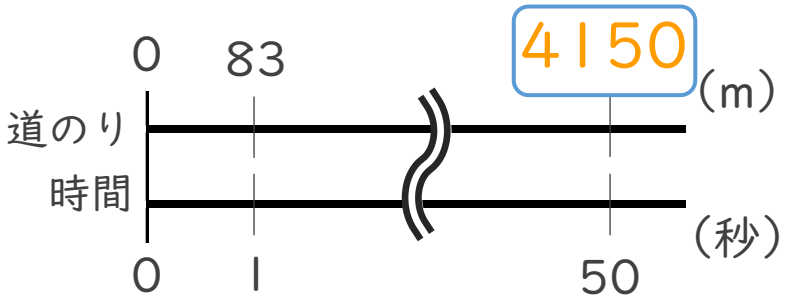

＜筆算＞

式：83×50 ＝ 4150

4150÷1000 ＝ 4.15

答え：4.15 km

すらすらぷりんと