単位量あたりの大きさ３ 4

◎ １あたりの量を求める

日にち：　　月　　日

名まえ

1　10mで2740円のリボンがあります。１mのねだんはいくらでしょう。

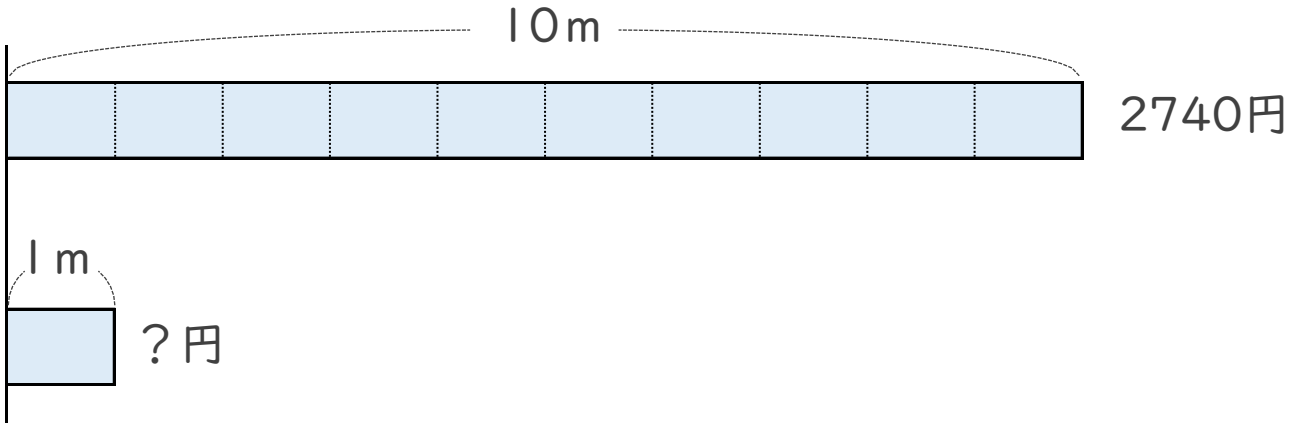

式：

答え：

2　６mで5400円の赤い布と、５mで3500円の青い布があります。
１mあたりのねだんを比べると、どちらが安いでしょう。

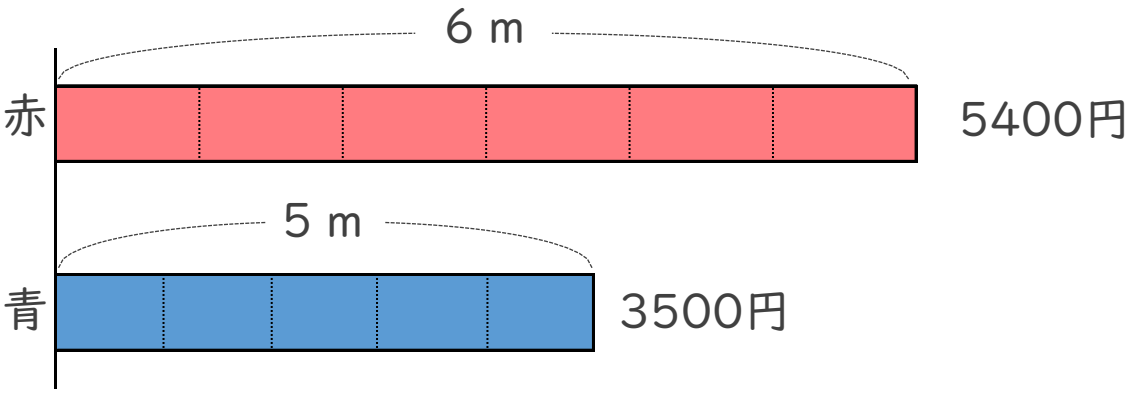

赤の式：

青の式：

答え：

すらすらぷりんと

単位量あたりの大きさ３ 4

◎ １あたりの量を求める

日にち：　　月　　日

名まえ

1　10mで2740円のリボンがあります。１mのねだんはいくらでしょう。

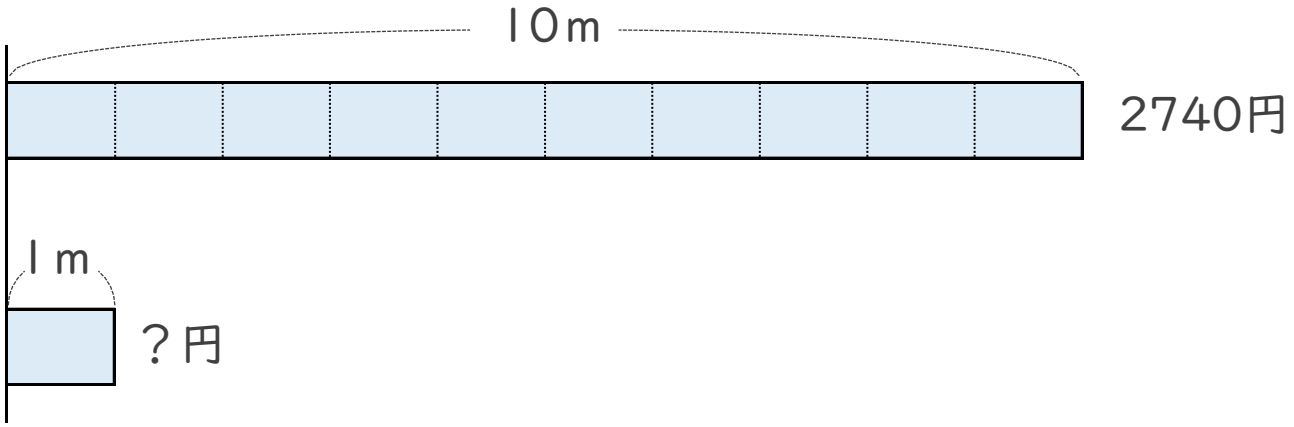

式：2740÷10＝274

答え：　274　円

2　6mで5400円の赤い布と、5mで3500円の青い布があります。
１mあたりのねだんを比べると、どちらが安いでしょう。

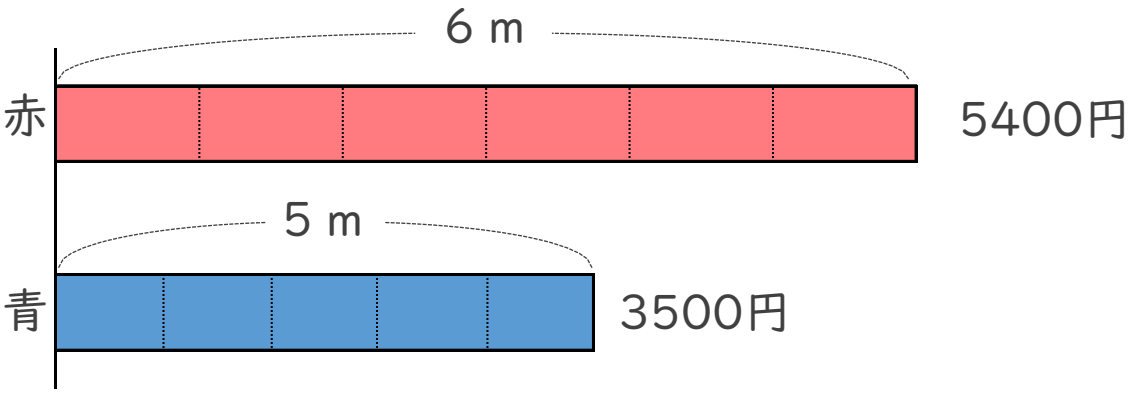

赤の式：5400÷6＝900

青の式：3500÷5＝700

答え：　青い布

すらすらぷりんと