単位量あたりの大きさ 4

◎ 1秒あたりに歩いた道のり

日にち：　　月　　日

名まえ

・みどりさんと兄の短きょり走の記録は、下の表のとおりです。1秒あたり何m走りましたか。それぞれ求めましょう。

	時間(秒)	道のり(m)
兄	30	135
みどり	15	63

筆算

兄

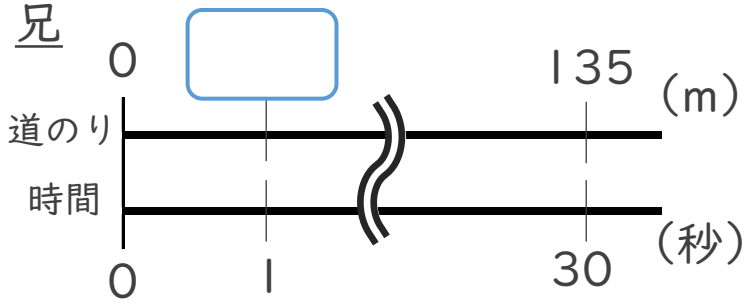

式：

兄：

みどり

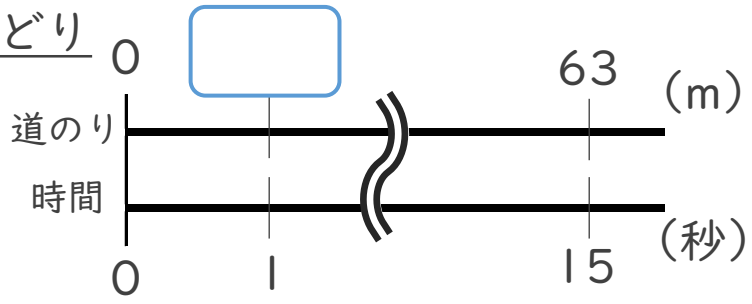

式：

みどり：

すらすらぷりんと

単位量あたりの大きさ 4

◎ 1秒あたりに歩いた道のり

日にち：　　月　　日

名まえ

・みどりさんと兄の短きょり走の記録は、下の表のとおりです。1秒あたり何m走りましたか。それぞれ求めましょう。

	時間(秒)	道のり(m)
兄	30	135
みどり	15	63

筆算

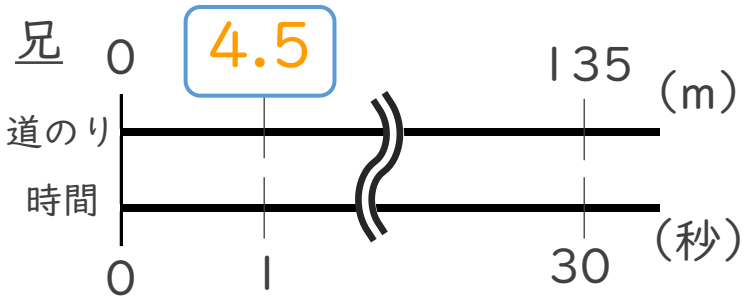

式：135÷30＝4.5

兄：　4.5　m

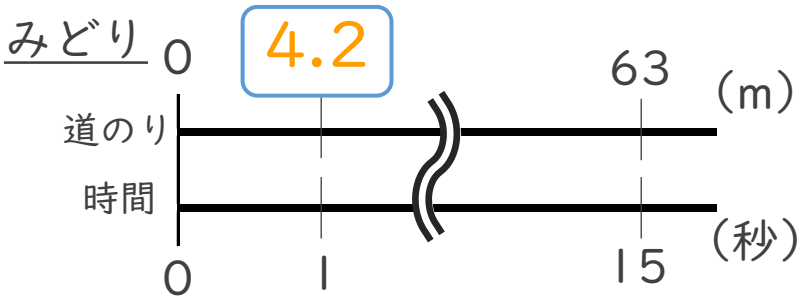

式：63÷15＝4.2

みどり：　4.2　m

すらすらぷりんと