

図形の角 4

◎ 正三角形や二等辺三角形の外角

5

日にち：　　月　　日

名まえ

・次の図で、㋐～㋒の角度は何度ですか。
計算で求めましょう。(うすい字はなぞりましょう。)

①

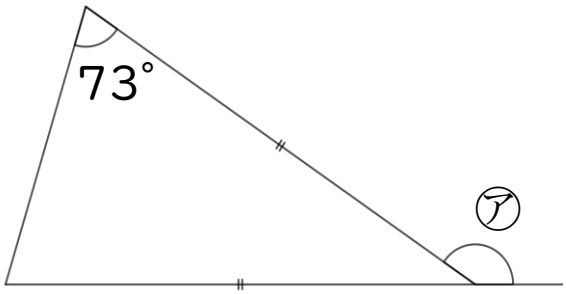

㋐ ＝ 73 ＋ 73

＝

答え：

②

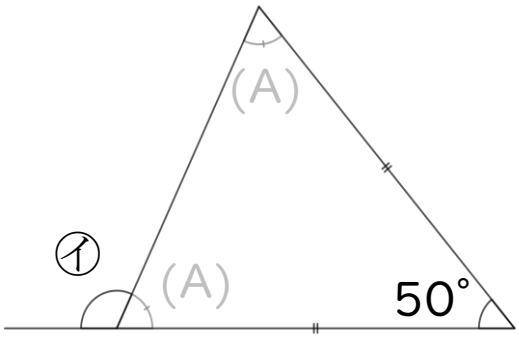

(A) ＝ (180 － 50) ÷ 2

＝

㋑ ＝

答え：

③

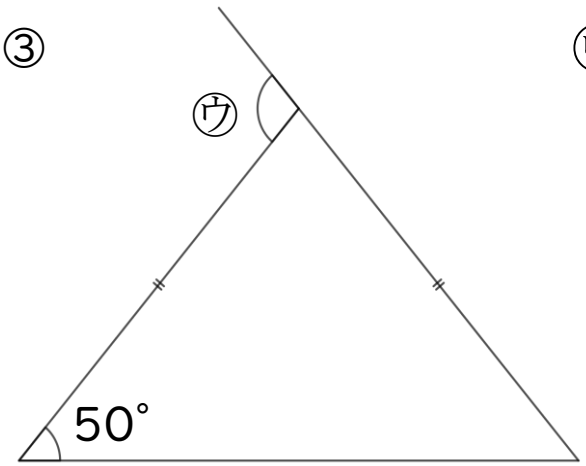

㋒ ＝

答え：

すらすらぷりんと



図形の角 4

◎ 正三角形や二等辺三角形の外角

5

日にち：　　月　　日

名まえ

・次の図で、㋐～㋒の角度は何度ですか。
計算で求めましょう。(うすい字はなぞりましょう。)

①

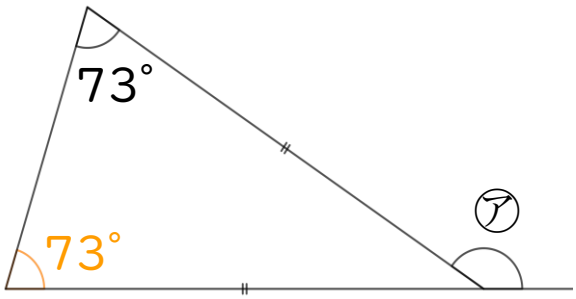

㋐ ＝ 73 ＋ 73

＝146

答え：　146°

②

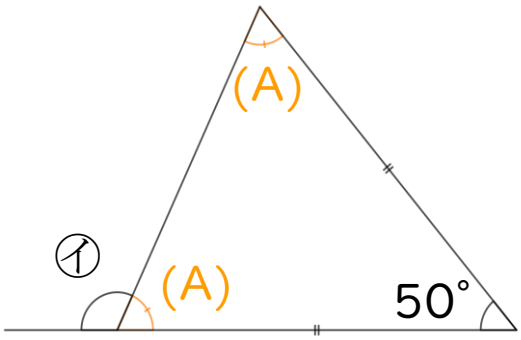

(A) ＝ (180 － 50) ÷ 2

＝130 ÷ 2

＝ 65

㋑ ＝ 180 － 65

＝115

答え：　115°

③

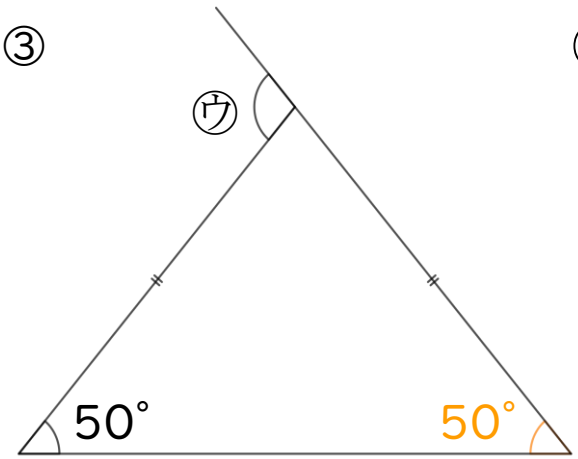

㋒ ＝ 50 ＋ 50

＝100

答え：　100°

すらすらぷりんと