単位量あたりの大きさ３ 6

◎ １あたりの量を求める

日にち：　　月　　日

名まえ

・次の問いに答えなさい。（うすい字はなぞりましょう。）

1　７Lのガソリンで154km走った車は、１Lのガソリンで何km走ったことになるでしょう。

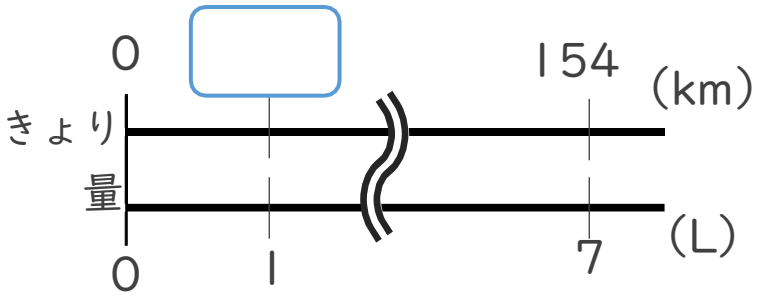

式：154÷7＝

筆算

答え：

2　10Lで150km走る赤い車と、8Lで112km走る青い車があります。
1Lあたりの走るきょりを比べると、どちらの車の方が長く走るでしょう。

赤

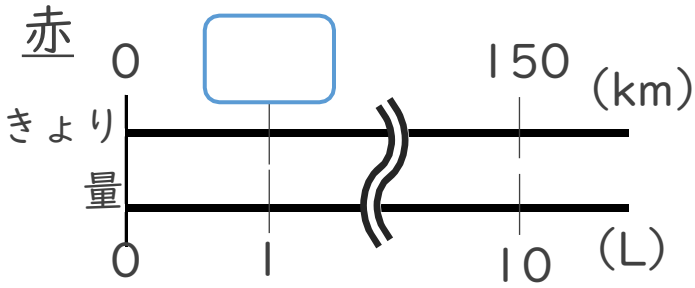

青

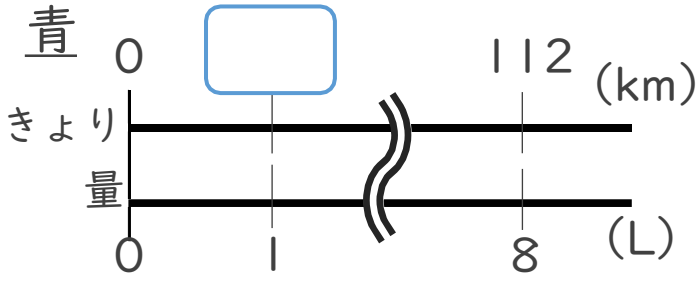

筆算はうらに書こう→

赤の式：150÷10＝

青の式：

答え：

すらすらぷりんと

単位量あたりの大きさ３ 6

◎ １あたりの量を求める

日にち：　　月　　日

名まえ

・次の問いに答えなさい。(うすい字はなぞりましょう。)

1　7Lのガソリンで154km走った車は、１Lのガソリンで何km走ったことになるでしょう。

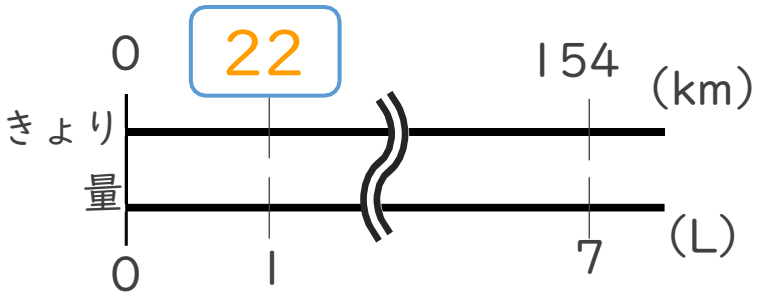

式：154÷7＝22

筆算

答え：　22　km

2　10Lで150km走る赤い車と、8Lで112km走る青い車があります。
1Lあたりの走るきょりを比べると、どちらの車の方が長く走るでしょう。

赤

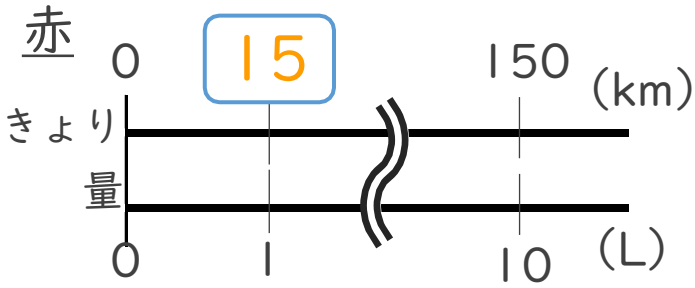

青

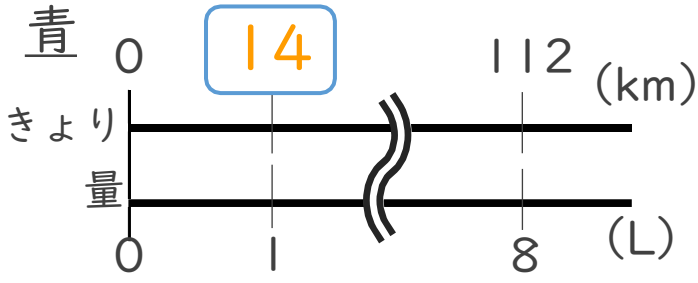

筆算はうらに書こう→

赤の式：150÷10＝15

青の式：112÷8＝14

答え：　赤い車

すらすらぷりんと