単位量あたりの大きさ３ 7

◎ １あたりの量を求める

日にち：　　月　　日

名まえ

1　５ｍで1750円のリボンがあります。１ｍのねだんはいくらでしょう。

＜筆算＞

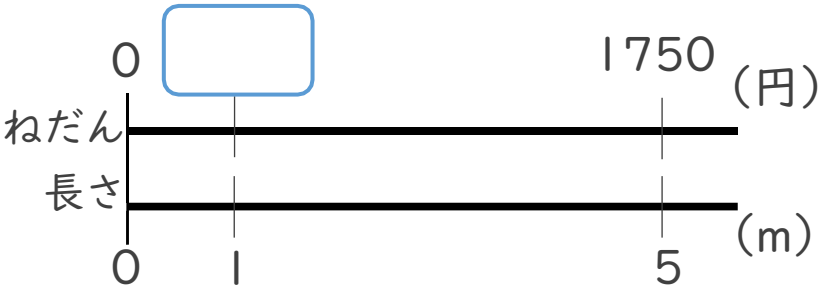

式：

答え：

2　４ｍで360円の赤いリボンと、３ｍで300円の青いリボンがあります。
　１ｍあたりのねだんを比べると、どちらが安いでしょう。

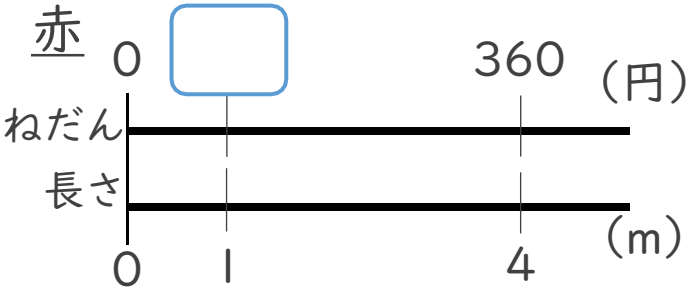

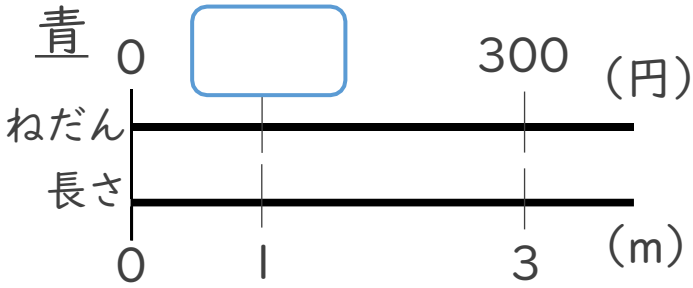

＜筆算＞書ききれなければうらへ→

赤の式：

青の式：

答え：

すらすらぷりんと

単位量あたりの大きさ３ 7

◎ １あたりの量を求める

日にち：　　月　　日

名まえ

1　５ｍで1750円のリボンがあります。１ｍのねだんはいくらでしょう。

＜筆算＞

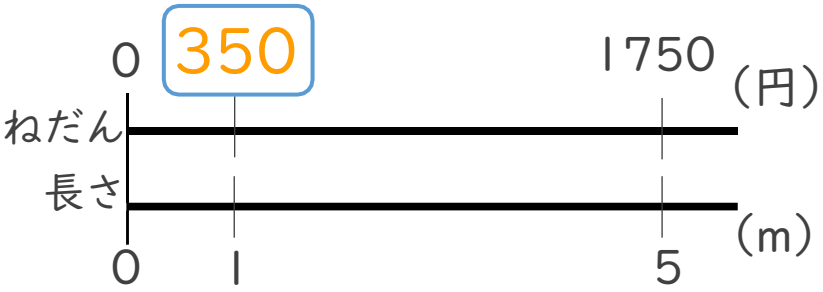

式：1750÷5 ＝ 350

答え：　350　円

2　４ｍで360円の赤いリボンと、３ｍで300円の青いリボンがあります。
１ｍあたりのねだんを比べると、どちらが安いでしょう。

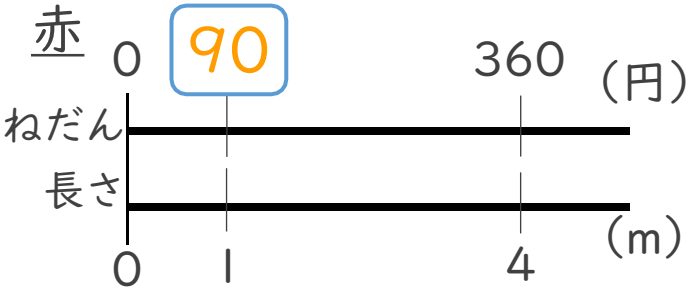

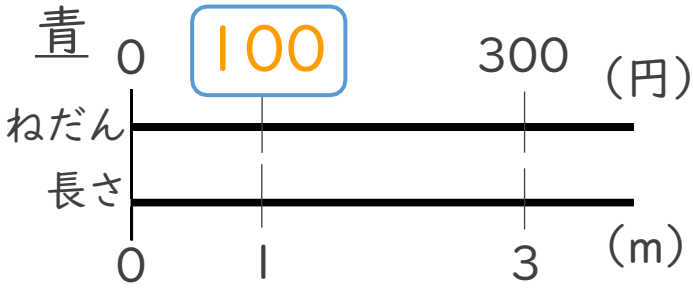

＜筆算＞書ききれなければうらへ→

赤の式：360÷4 ＝ 90

青の式：300÷3 ＝ 100

答え：赤いリボン

すらすらぷりんと