単位量あたりの大きさ 4

8

◎ 単位量から比べられる量を求める

日にち：　　月　　日

名まえ

1 庭園に、1 m²あたり90 gの肥料をまきます。肥料は1170 g必要です。庭園の面積を求めましょう。

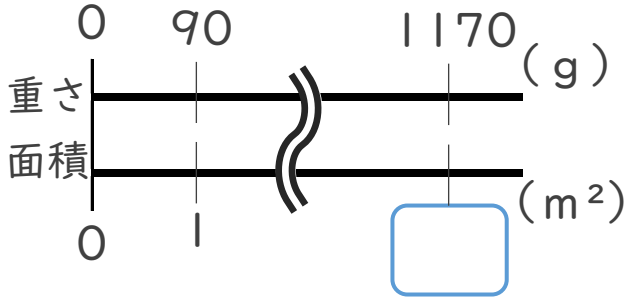

式：

筆算

答え：

2 庭園に、1 m²あたり250 gの肥料をまきます。肥料は1kg必要です。庭園の面積を求めましょう。

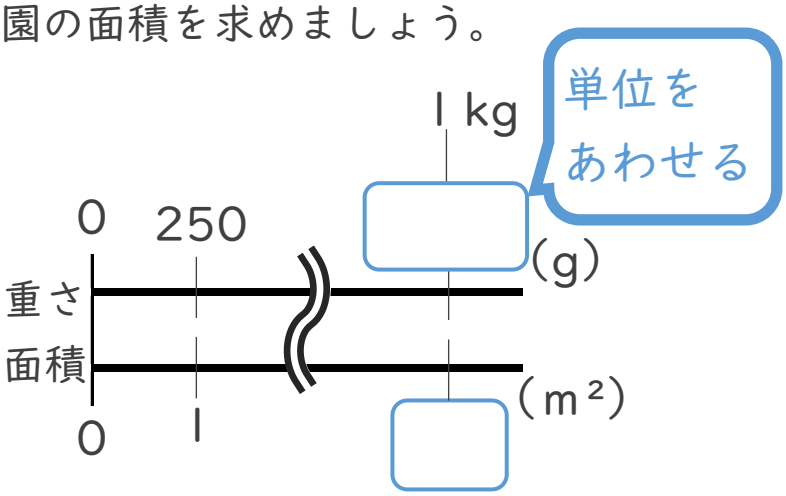

式：

筆算

答え：

すらすらぷりんと

単位量あたりの大きさ 4

8

◎ 単位量から比べられる量を求める

日にち：　　月　　日

名まえ

1 庭園に、1 m²あたり90 g の肥料をまきます。肥料は1170 g 必要です。庭園の面積を求めましょう。

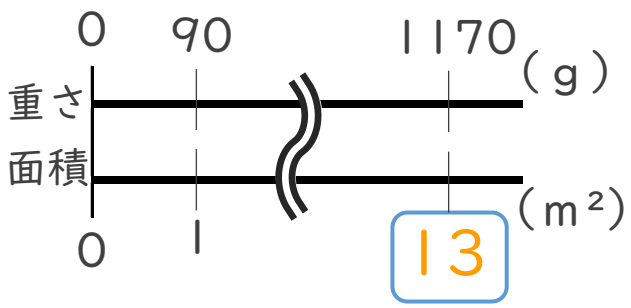

式：1170÷90 ＝ 13

筆算

答え：　13　m²

2 庭園に、1 m²あたり250 g の肥料をまきます。肥料は1kg必要です。庭園の面積を求めましょう。

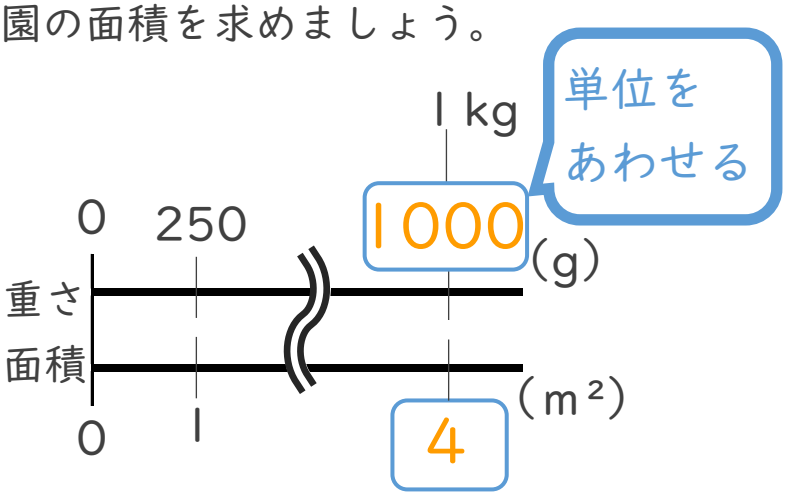

式：1000÷250 ＝ 4

筆算

答え：　4　m²

すらすらぷりんと