単位量あたりの大きさ３ ⑨

◎ １あたりの量を求める

日にち：　　月　　日

名まえ

1　25mで8250円のリボンがあります。１mのねだんはいくらでしょう。

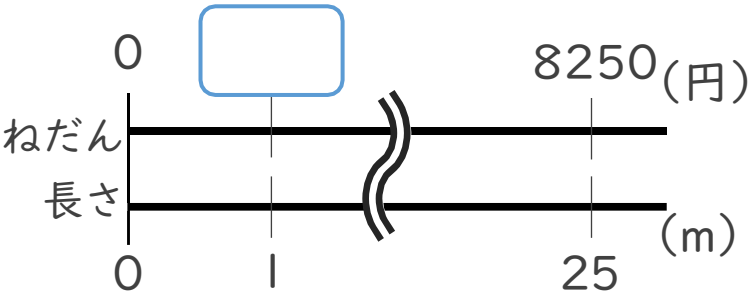

＜筆算＞

式：

答え：

2　16Lで320km走る赤い車と、18Lで378km走る青い車があります。
　1Lあたりの走るきょりを比べると、どちらの車の方が長く走るでしょう。

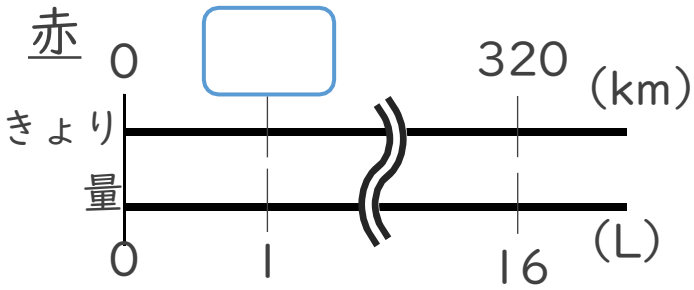

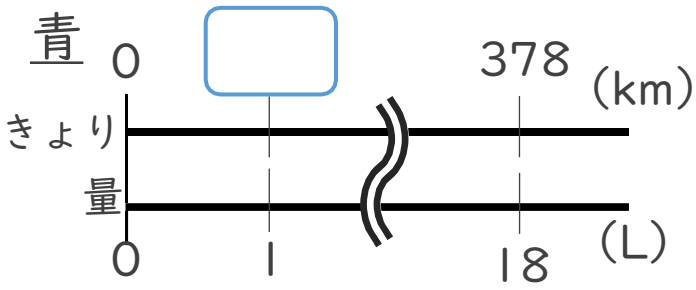

＜筆算＞

赤の式：

青の式：

答え：

すらすらぷりんと

単位量あたりの大きさ３ ⑨

◎ １あたりの量を求める

日にち：　　月　　日

名まえ

1　25mで8250円のリボンがあります。１mのねだんはいくらでしょう。

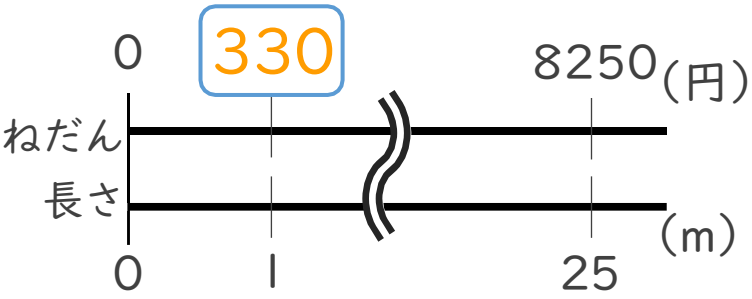

＜筆算＞

式：8250÷25 ＝ 330

答え：　330　円

2　16Lで320km走る赤い車と、18Lで378km走る青い車があります。
　1Lあたりの走るきょりを比べると、どちらの車の方が長く走るでしょう。

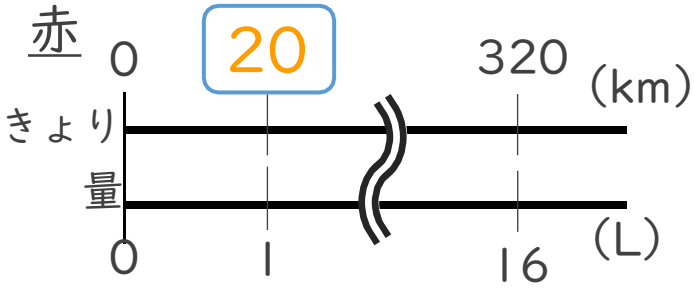

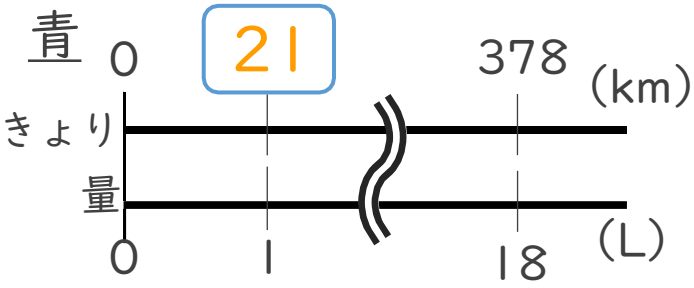

＜筆算＞

赤の式：320÷16 ＝ 20

青の式：378÷18 ＝ 21

答え：　青い車

すらすらぷりんと