対称な図形7

◎ 点対称な図形の重なり方 2

日にち：　　月　　日

名まえ

・次の点対称な図形を、点Oを中心にして、180°回転させたときの重なりについて調べましょう。

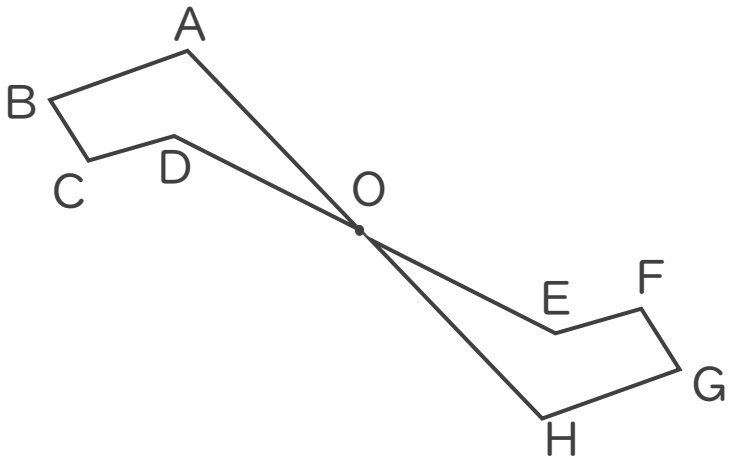

Oを中心に180°回転！

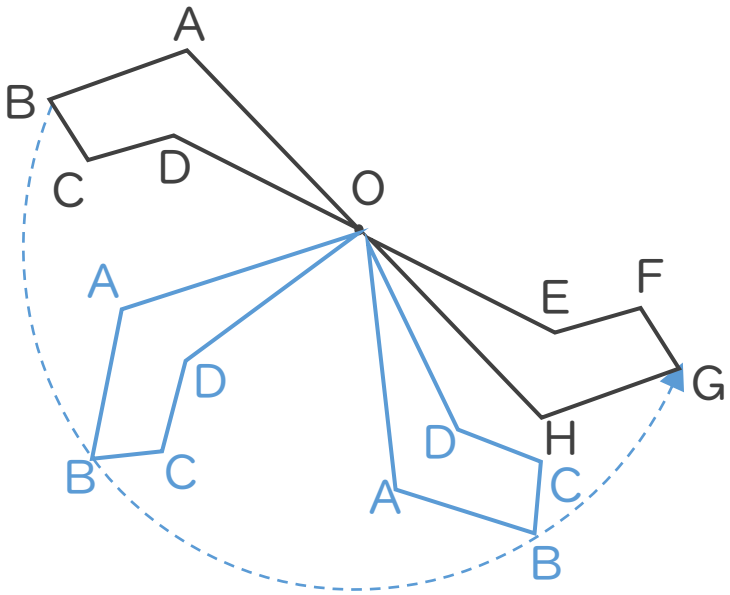

① 点Cと重なる点はどれですか。

答え：

② 直線ABと重なる直線はどれですか。

答え：

すらすらぷりんと

対称な図形7

◎ 点対称な図形の重なり方 2

日にち：　　月　　日

名まえ

・次の点対称な図形を、点Oを中心にして、180°回転させたときの重なりについて調べましょう。

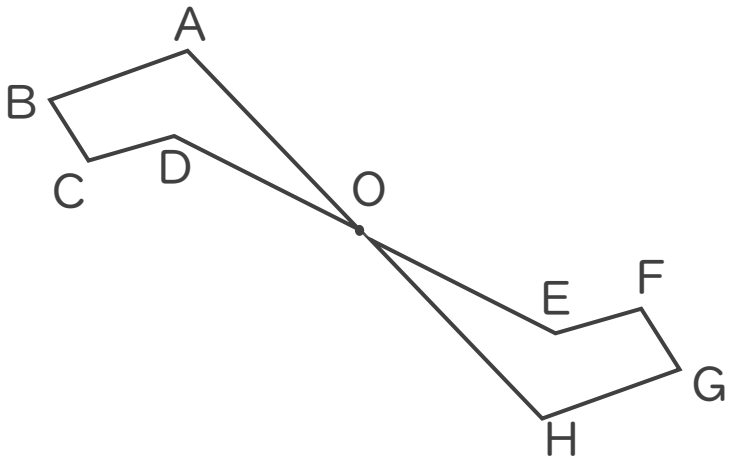

Oを中心に180°回転！

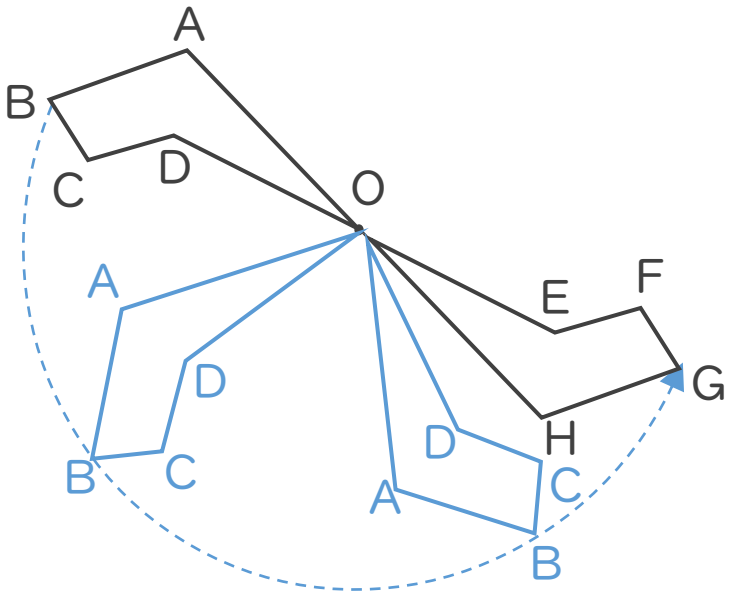

① 点Cと重なる点はどれですか。

答え：　点F

② 直線ABと重なる直線はどれですか。

答え：直線HG

すらすらぷりんと