およその面積と体積２

◎ 図形に見立てて
およその面積を求める

7

日にち：　　月　　日

名まえ

・ 次の図のような形の池があります。

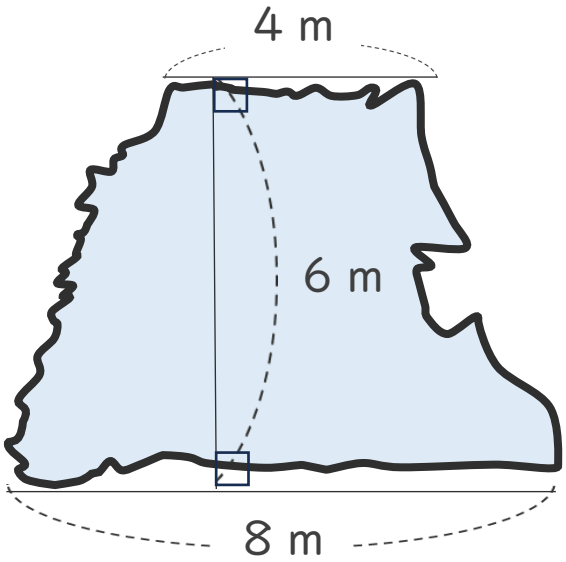

① 池の形は、およそどんな形とみられますか。

（　　）

② この池の面積は、およそ何㎡ですか。

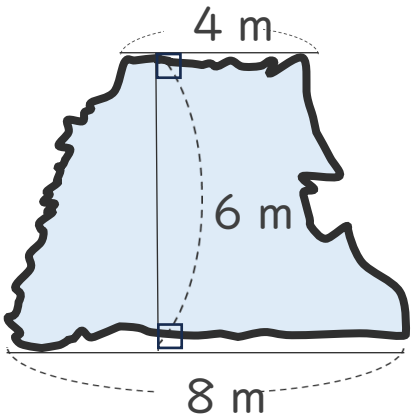

式：

答え：　約　　㎡

すらすらぷりんと

およその面積と体積２

◎ 図形に見立てて およその面積を求める

7

日にち：　　月　　日

名まえ

・ 次の図のような形の池があります。

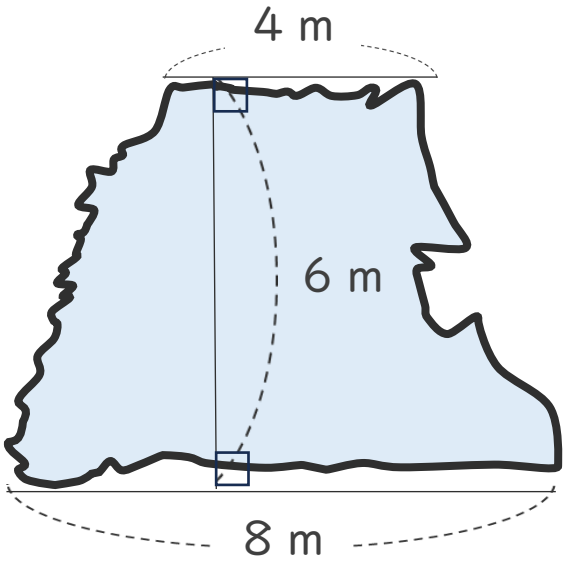

① 池の形は、およそどんな形とみられますか。

（　台形　）

② この池の面積は、およそ何㎡ですか。

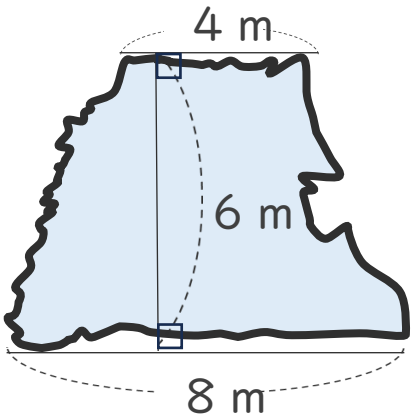

式：$(4+8)\times 6\div 2=36$

答え：　約　36　㎡

すらすらぷりんと